Họ tên:..... Lớp :.....	PHIẾU ÔN TẬP TOÁN PHIẾU 2

1. Nối:



3

2

6

8



2. Số còn thiếu trong dãy số

10	9	**?**	7	6

là:

A. 0 **B. 8** **C. 3**

3. Số **bé nhất** trong các số **4, 8, 3, 7, 9** là:

A. 3 **B. 5** **C. 7**

4. Số **lớn nhất** trong các số **6, 5, 3, 4, 7** là:

A. 5 **B. 6** **C. 7**

LIVEWORKSHEETS

5. Tính:

7 + 3 = ……

9 – 4 = ……

8 + 1 – 4 = …

9 – 7 – 1 = ……..

5 - 3 + 1 = …

1 + 5 + 4 = ……..

6. Sắp xếp các số **8, 9, 0, 5, 3** theo thứ tự từ **lớn** đến **bé**:

……,……,……,……, ……

7. Điền dấu **(<,>,=)** thích hợp vào ô trống:

8 – 4 ☐ 5 + 0

3 + 7 ☐ 2 + 8

8. Hình bên có …… hình tam giác.

Hình bên có …… hình tròn.

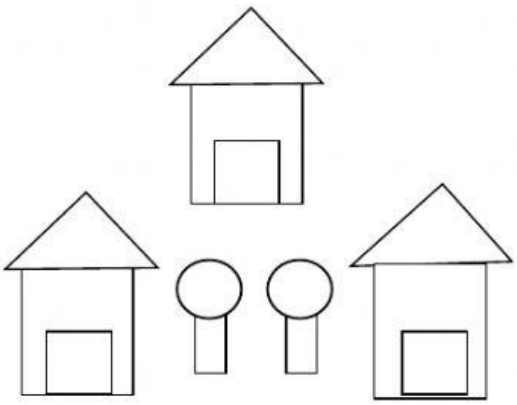

9. Viết phép tính thích hợp:





LIVEWORKSHEETS