TRƯỜNG MẦM NON TRÀNG AN

KHỐI MGL
NĂM HỌC 2021-2022

# BÀI TẬP TUẦN 4 THÁNG 12

**BÉ LÀM QUEN VỚI TOÁN**

Bé hãy tìm nhóm đối tượng có số lượng nhiều nhất và tích vào ô cho đúng nhé!



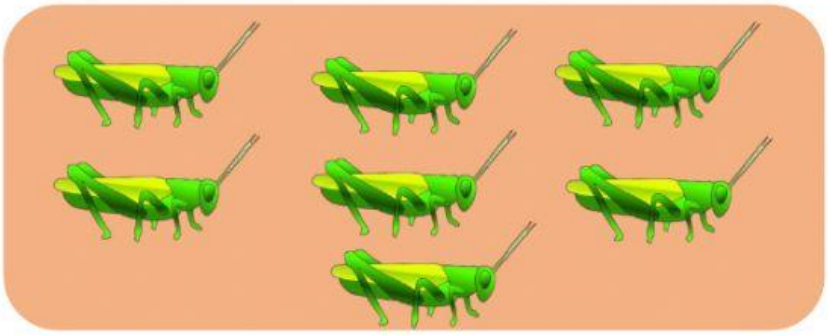

Bé hãy nhờ bố mẹ ấn vào đường link dưới đây để làm bài nhé!

LIVEWORKSHEETS

Bé hãy tìm nhóm có số lượng ít hơn và tích vào ô cho đúng nhé!







LIVEWORKSHEETS

Bé hãy tìm nhóm có số lượng ít nhất và tích vào ô cho đúng nhé!







LIVEWORKSHEETS

Bé hãy chọn số con chim và con cò thêm vào 2 nhóm con chim và con cò để bằng nhóm con vẹt nhé!



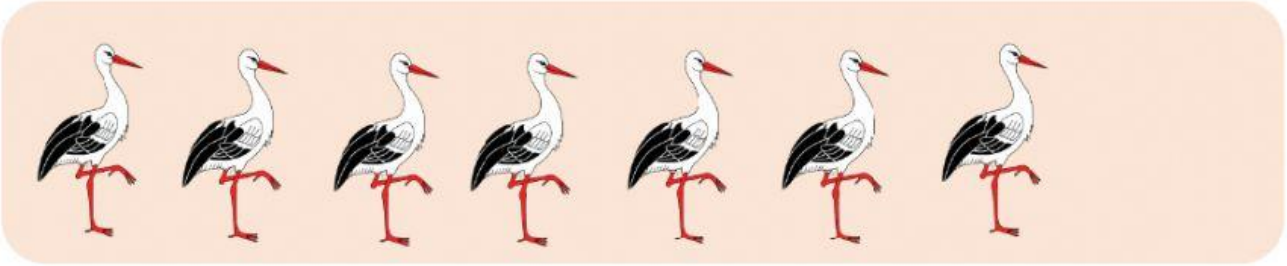



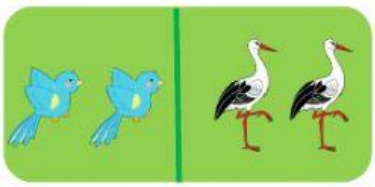



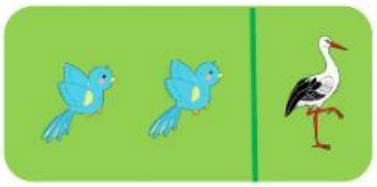

LIVEWORKSHEETS