Họ tên:_____ Lớp: 3A___ Số câu đúng:_____

TRUNG ĐIỂM

1. Chọn đúng (Đ) hoặc sai (S).

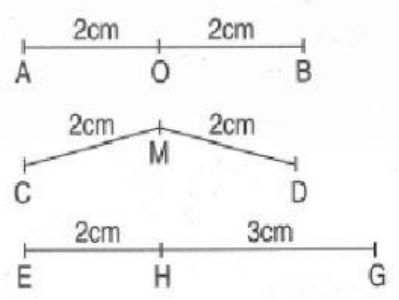

a) O là trung điểm của đoạn thẳng AB. (____)

b) M là trung điểm của đoạn thẳng CD. (____)

c) H là trung điểm của đoạn thẳng EG. (____)

d) M là điểm ở giữa hai điểm C và D. (____)

e) H là điểm ở giữa hai điểm E và G. (____)

2. Quan sát hình và điền vào chỗ trống cho thích hợp.

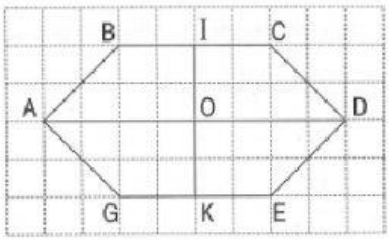

Trung điểm của đoạn thẳng BC là_____

Trung điểm của đoạn thẳng GE là_____

O là trung điểm của các đoạn thẳng_____

Nếu OA = 4cm thì AD =_____

3. *Thực hiện theo yêu cầu.*

a. Cho MN dài 12cm. O là trung điểm của MN. Tính độ dài đoạn thẳng OM.

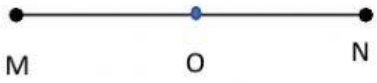

Độ dài đoạn thẳng OM là _____cm.

b. I là trung điểm của PQ. Biết IP = 8cm. Tính độ dài đoạn thẳng PQ.

Độ dài đoạn thẳng PQ là _____cm.

LIVEWORKSHEETS