LEMBAR KERJA PESERTA DIDIK (LKPD)

NAMA :

KELAS :

MENGENAL BENTUK BANGUN DATAR

A. VIDEO PEMBELAJARAN

B. LATIHAN SOAL

1. Apakah nama bangun datar di bawah ini?
   A. Persegi
   B. Segiempat
   C. Segitiga
   D. Lingkaran

2. Bangun datar yang keempat sisinya sama panjang disebut . . . .
   A. Persegi Panjang
   B. Persegi
   C. Segitiga
   D. Lingkaran

3. Pilihlah nama yang sesuai dengan bangun di bawah ini!

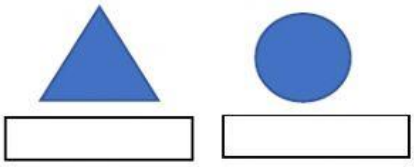

4. Buatlah garis ke jawaban yang benar!

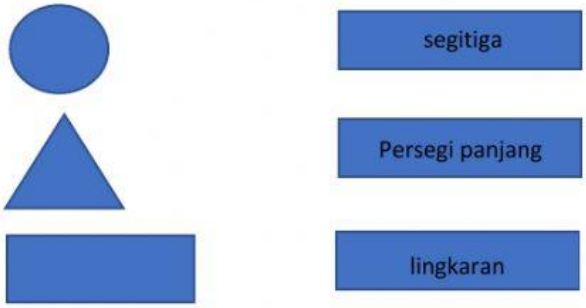

LIVEWORKSHEETS

5. Tariklah sifat – sifat bangun datar yang sesuai dengan gambar!

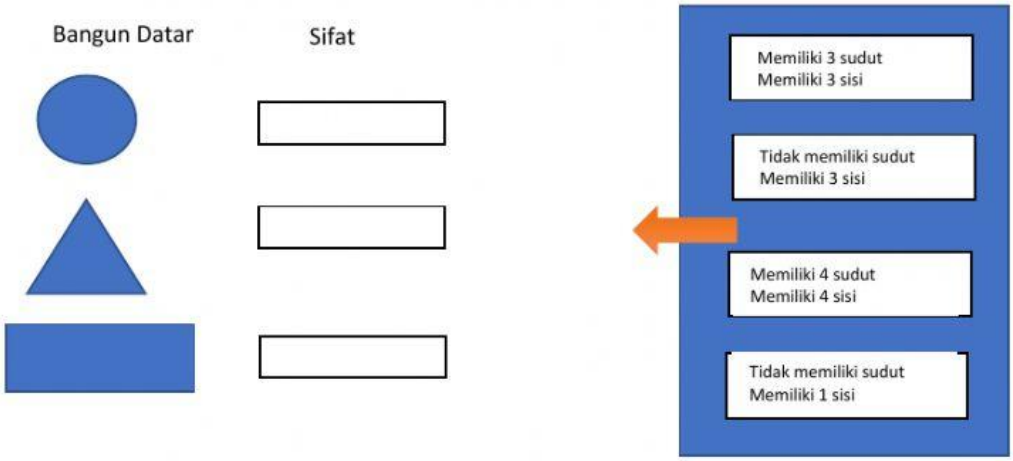

LIVEWORKSHEETS