Họ và tên:

BỨC THƯ CỔ

Toán

Ôn tập tuần 13

Em hãy vượt qua các chặng đường Toán học để lấy được bức thư cổ - nhanh chóng thoát khỏi mê cung!

* Chặng đường 1: Đặt tính rồi tính:

a. 80 - 16

b. 73 - 48

c. 93 - 27

d. 60 - 9

* Chặng đường 2: Nối phép tính với kết quả đúng:

95 – 5 – 17

77 – 7 – 9

68 – 20 – 8

60 – 10 – 6

92 – 2 – 68

73

22

44

40

61

LIVEWORKSHEETS

* Chặng đường 3: Điền số thích hợp vào ô trống:

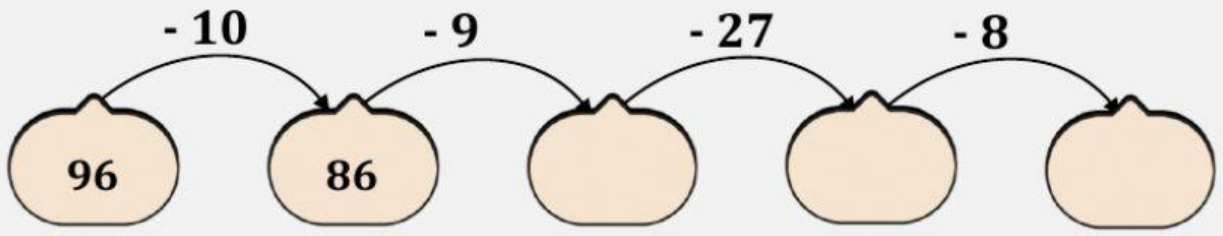

* Chặng đường 4: Điền số thích hợp vào ô trống:

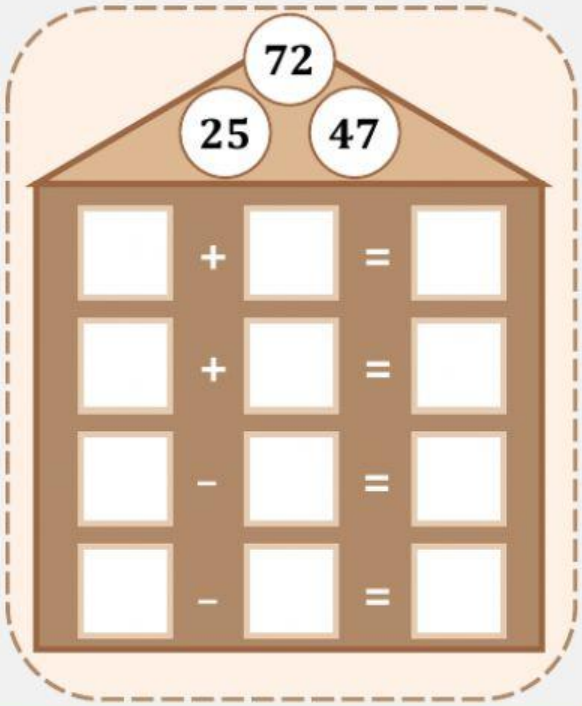

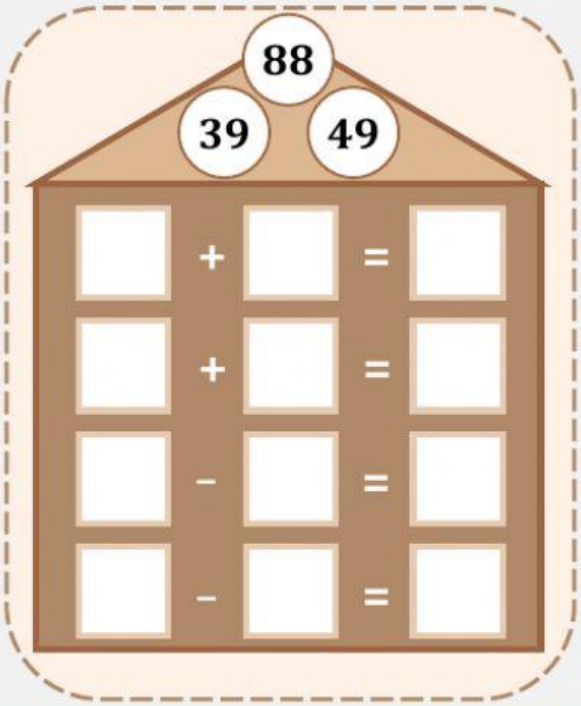

* Chặng đường 5: Giải toán:

Trong căn phòng bí ẩn có 32 cánh cửa, 17 cánh cửa đang mở, còn lại các cánh cửa khác đều đã đóng. Hỏi có bao nhiêu cánh cửa đã đóng?

Bài giải

=

BỨC THƯ CỔ: BẠN LÀM TỐT LẮM, RẤT TUYỆT VỜI!!!

LIVEWORKSHEETS