Họ và tên: ……. Lớp: …….

PHIẾU ÔN TẬP CUỐI TUẦN 15 – LỚP 1

MÔN TOÁN

Bài 1. Số ?

8 – □ = 6	7 – □ = 3
□ – 3 = 2	□ – 5 = 4
5 – □ = 1	2 – □ = 0
□ – 2 = 7	□ – 3 = 6
4 – □ = 3	8 – □ = 4
□ – 6 = 2	□ – 1 = 7
9 – □ = 5	6 – □ = 4

Bài 2. Số ?

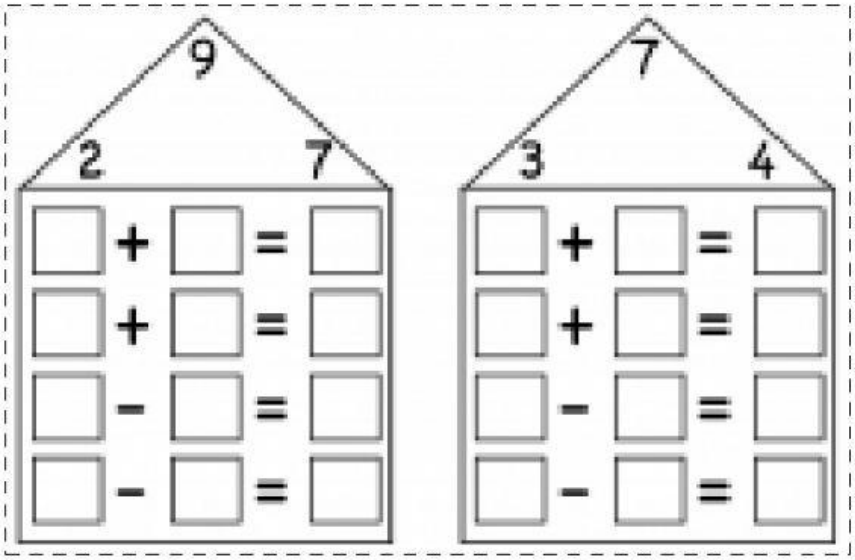

LIVEWORKSHEETS

Bài 3. Số ?

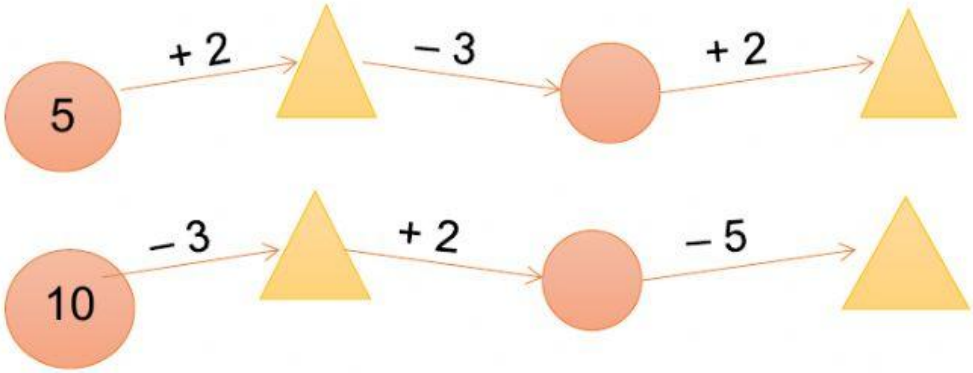

Bài 4. Số ?

6 + 3 =	9 – 3 =
3 + 6 =	9 – 6 =

Bài 5. Điền số thích hợp vào chỗ trống.

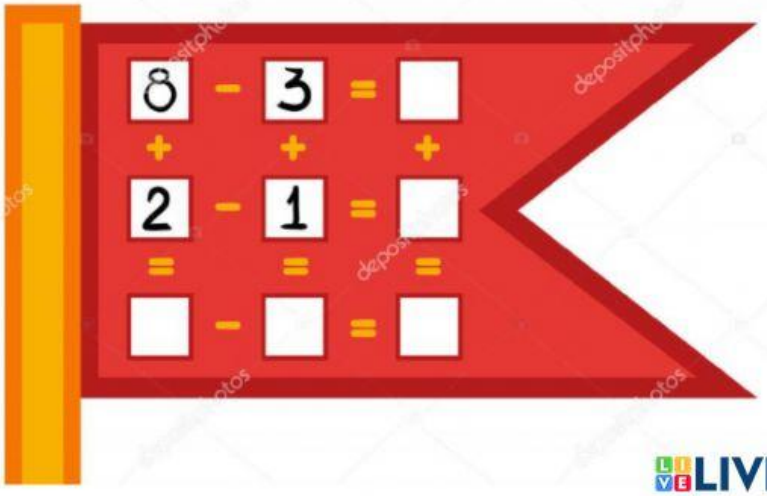

LIVEWORKSHEETS