UNIDAD EDUCATIVA BILINGÜE INTERNATIONAL SCHOOL
CUARTO AÑO DE BÁSICA
EVALUACIÓN DEL QUINTO PARCIAL
ÁREA: MATEMÁTICA

1. **Reparte en partes iguales y completa la división. (2 Ptos.)**

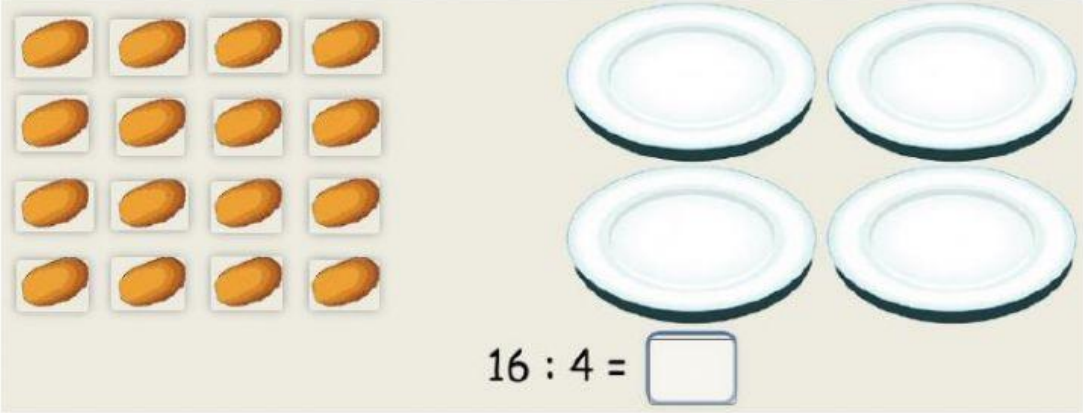

2. **Escribe 2 divisiones para cada multiplicación. (2 Ptos.)**

8 x 6 = 48

3. **Completa la siguiente tabla. (2 Ptos.)**

	doble	triple
4		
7		
5		
1		

LIVEWORKSHEETS

UNIDAD EDUCATIVA BILINGÜE INTERNATIONAL SCHOOL
CUARTO AÑO DE BÁSICA
EVALUACIÓN DEL QUINTO PARCIAL
ÁREA: MATEMÁTICA

4. **Completa las siguientes medidas de tiempo. (2 Ptos.)**

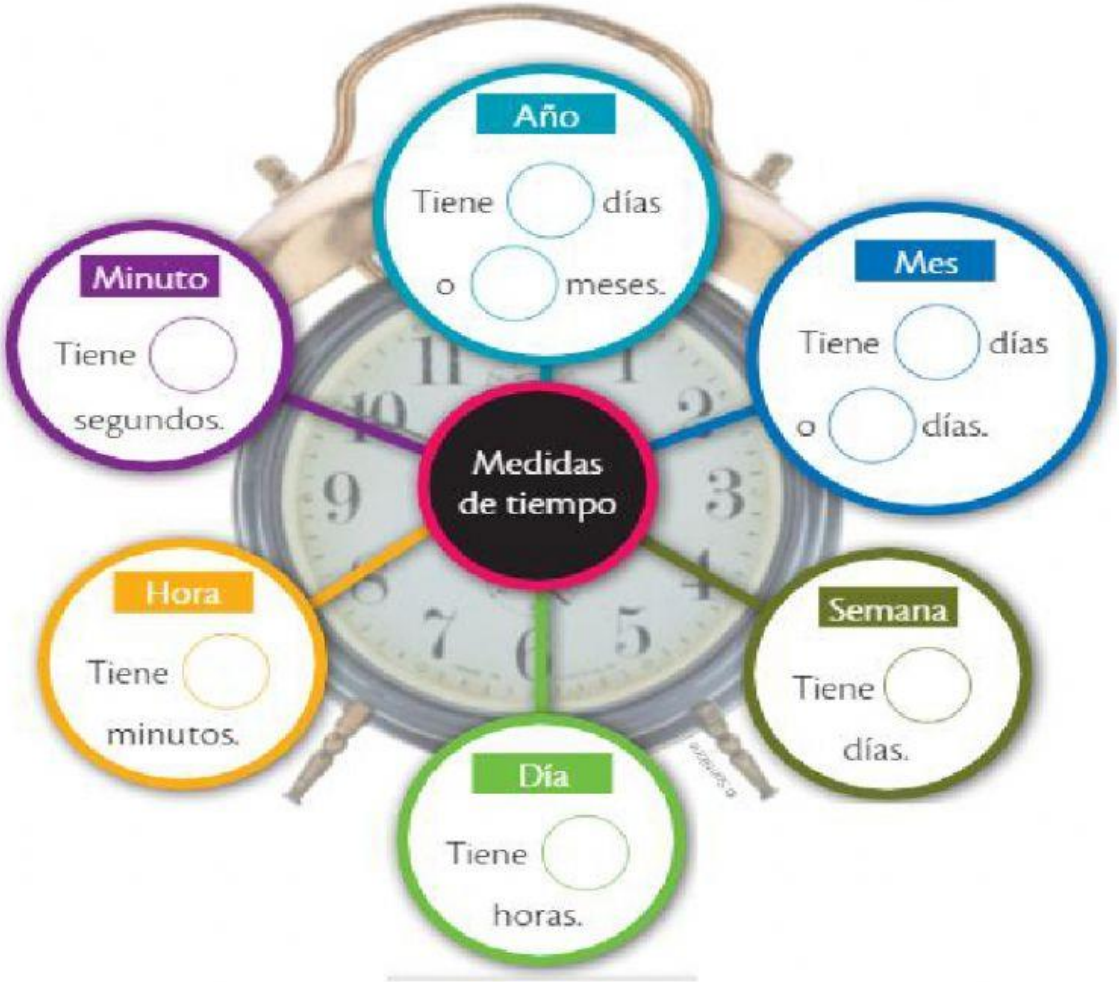

5. **Resuelve las siguientes divisiones y elige si es exacta e inexacta. (2 Ptos.)**

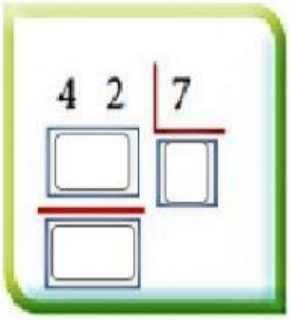

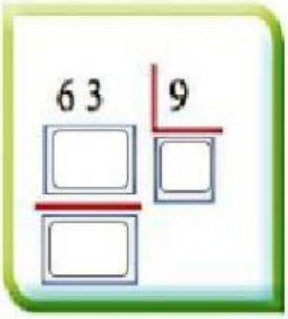

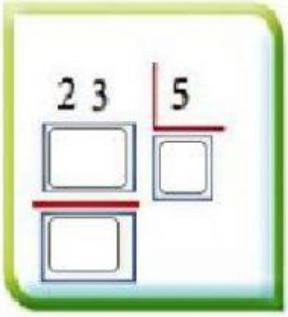

LIVEWORKSHEETS