T.4 MÚLTIPLES I DIVISORS

Nom……..Data……..……

1. Pensa i respon:

   - Un nombre, és divisible per si mateix? ……
   - Pots escriure tots el múltiples d'un nombre? ……
   - Els múltiples d'un nombre s'aconsegueix quan…… aquest número per qualsevol altre.
   - Són infinits els divisors d'un nombre? ……
   - Quin és el primer divisor de qualsevol nombre? ……
   - Quin és el darrer divisor de qualsevol nombre?……

2. Escriu els 5 primers múltiples d'aquesta taula

2					
5					
7					
8					
10					

3. Hi ha algun número de la taula anterior que sigui múltiple de tots?..... Quin?.....

4. Troba el camí de l'astronauta a la Lluna seleccionant els múltiples de 4:

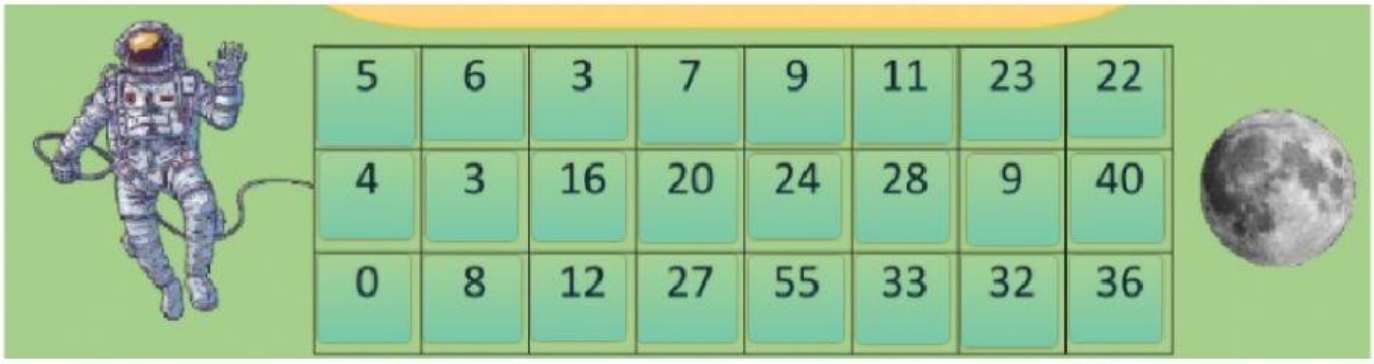

5	6	3	7	9	11	23	22
4	3	16	20	24	28	9	40
0	8	12	27	55	33	32	36

5. Troba el camí de l'astronauta a la Lluna seleccionant els múltiples de 7:

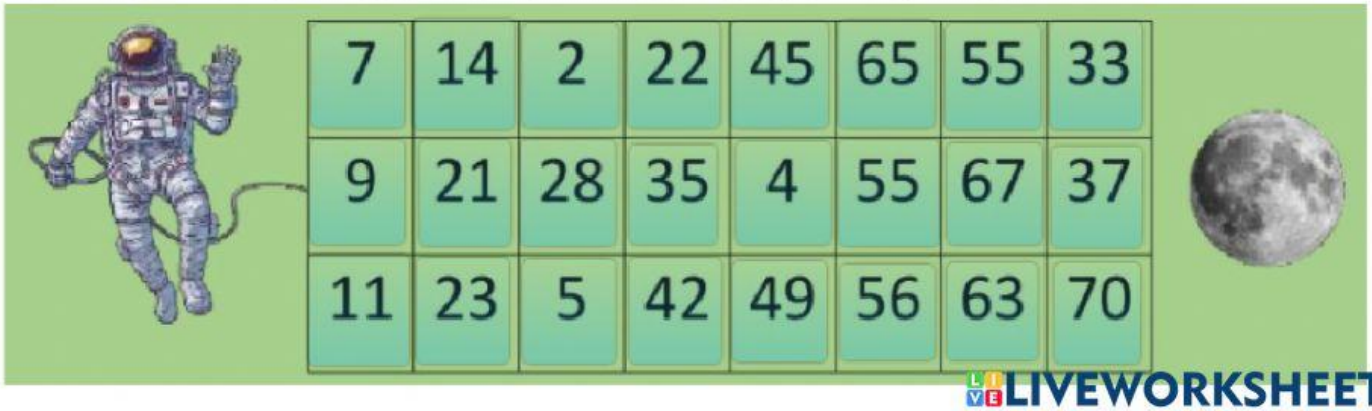

7	14	2	22	45	65	55	33
9	21	28	35	4	55	67	37
11	23	5	42	49	56	63	70

LIVEWORKSHEETS

6. Troba el camí de l'astronauta a la Lluna seleccionant els múltiples de 9:

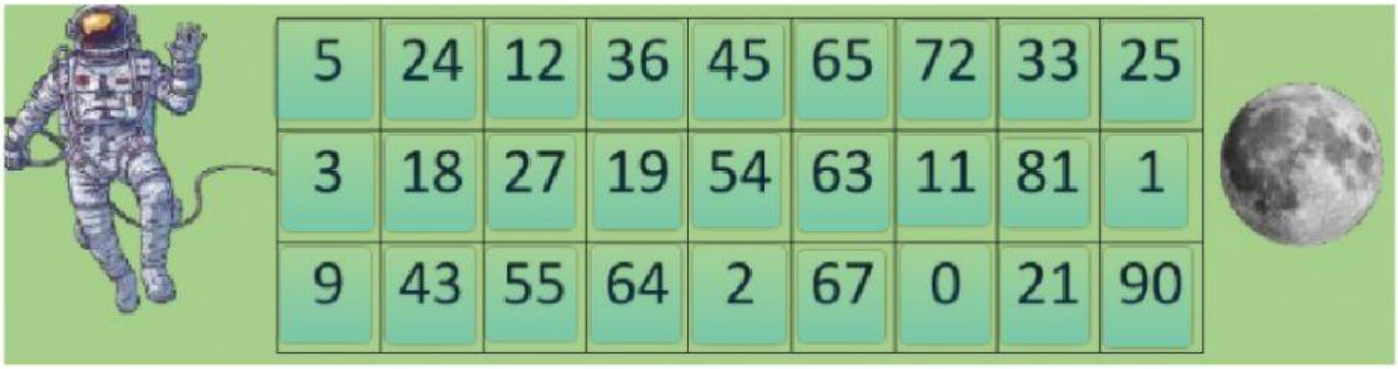

5	24	12	36	45	65	72	33	25
3	18	27	19	54	63	11	81	1
9	43	55	64	2	67	0	21	90

7. Escriu 5 múltiples de 8 majors de 40:

8. Calcula tots els divisors d-aquests nombres i ordenal-s de menor a major

   a. 66:

   b. 27:

   c. 48:

   d. 79:

9. Completa utilitzant la paraula MÚLTIPLE o DIVISOR

9 es ____ de 3	5 es ____ de 50	2 es ____ de 22
45 es ____ de 9	18 es ____ de 6	12 es ____ de 4
7 es ____ de 14	8 es ____ de 64	3 es ____ de 6

10. Selecciona els divisors d'aquests nombres, posa Sí o NO a cada casella

D (20) =	1 ____	2 ____	3 ____	4 ____	5 ____	8 ____	10 ____
D (55) =	1 ____	3 ____	5 ____	9 ____	11 ____	15 ____	55 ____
D (92) =	1 ____	2 ____	6 ____	23 ____	30 ____	42 ____	46 ____

LIVEWORKSHEETS