Completa el cuadro con los números que faltan.

0	1	2		4		6		8	9
	11		13		15		17		19
20	21			24		26		28	29
		32	33		35		37		
40	41			44		46		48	49
50		52	53			56	57		
	61			64	65			68	
70		72	73			76		78	79
	81	82			85	86	87		
	91			94		96			99
100	101		103	104	105	106			109
110	111			114	115			118	119
120			123	124	125			128	
	131		133			136		138	139
140				144	145		147		
150	151		153	154		156	157	158	
				164	165			168	169
170			173	174	175	176			
		182	183			186	187		
190	191		193	194			197		
200									

Coloca el anterior y el posterior de estos números

Número anterior		Número posterior	Número anterior		Número posterior
	165			172	
	138			127	
	179			160	
	151			143	
	190			110	

Cuenta de 5 en 5 del 105 al 200.

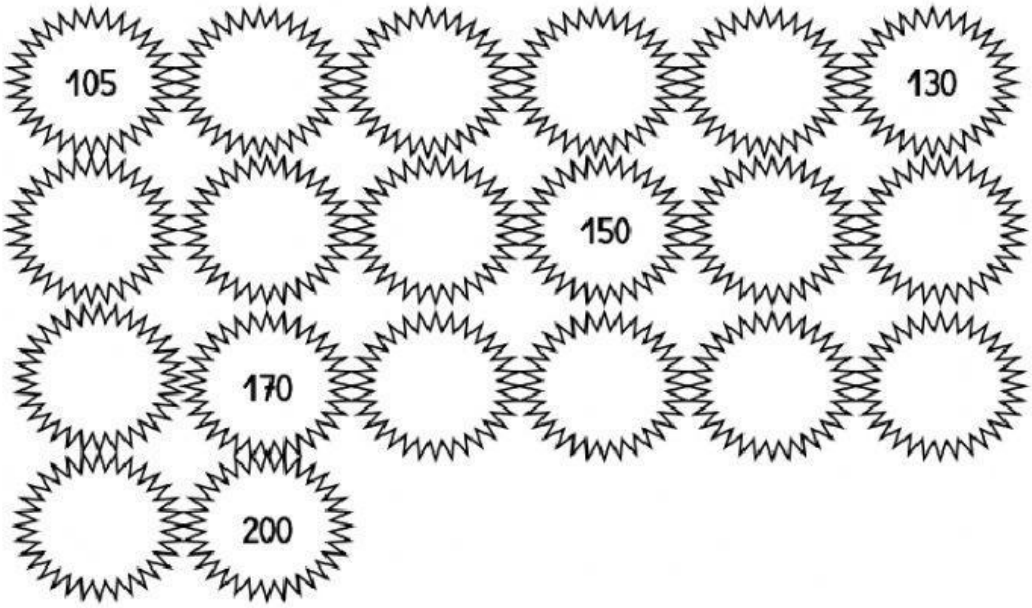

Cuenta de 10 en 10 del 100 al 190


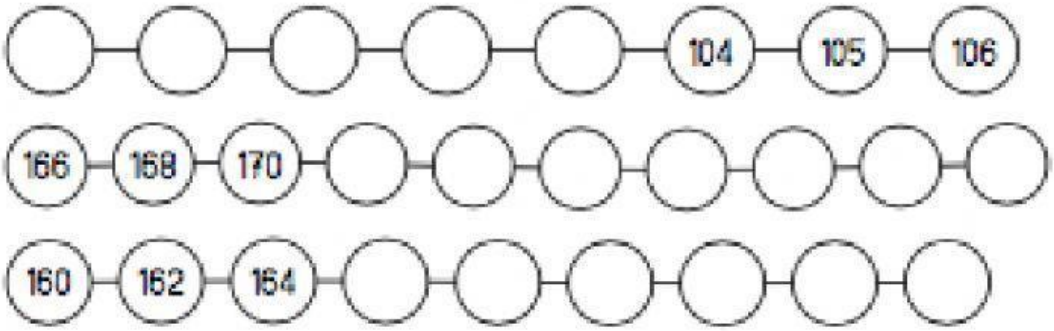
Completa las series: