Ministerio de Educación	**UNIDAD EDUCATIVA FISCOMISIONAL** *"Mater Dei"*		
NIVEL: BÁSICA SUPERIOR	**AREA:** MATEMÁTICA	**ASIGNATURA:** MATEMÁTICA	**AÑO LECTIVO**
AÑO EGB: Octavo EGB	**PARALELO:** "D"	**FECHA:**_____/_____/2021	2021 – 2022
DOCENTE: Ing. HENRY F. MOROCHO P.		**ESTUDIANTE:**	

TAREA SEMANA 5

1. **Escribe la fracción correspondiente en el casillero ubicado en la recta numérica**

a.

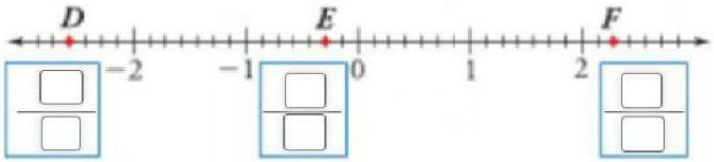

b.

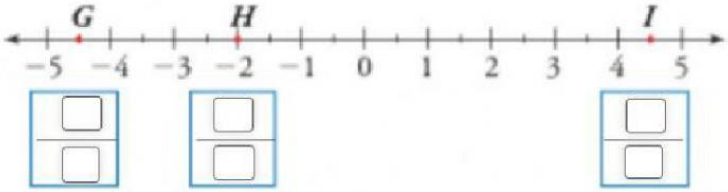

c.

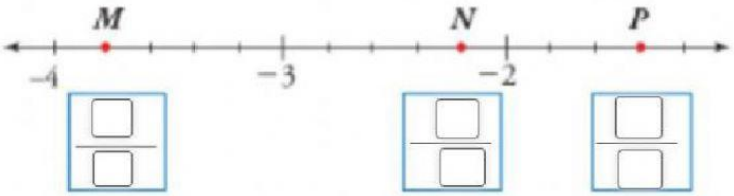

2. **Determina el valor de verdad de cada afirmación**

a. El número 4/3 está ubicado entre 0 y 1	
El número -9/4 está ubicado entre -3 y -2	
El número 15/4 está entre los números 7/2 y 4	
Los números 6/5 y 7/4 está entre 1 y 2	

3. **Ordena de menor a mayor cada grupo de números**

13,573 13,564 13,529 13,61

____ < ____ < ____ < ____

LIVEWORKSHEETS