Nombre y apellidos: .....

Fecha: ..... Matemáticas 1.º ☐

R

CÁLCULO Y PROBLEMAS 1

1 ¿Cuántos niños habrá en la barca?

Completa y aprende.



Suma 3 + 2



Resta 4 – 1

3 + 2 = 5

$$\begin{array}{r} 3 \\ +\ 2 \\ \hline 5 \end{array}$$

4 – 1 = 3

$$\begin{array}{r} 4 \\ -\ 1 \\ \hline 3 \end{array}$$

Habrá ☐ niños

Habrá ☐ niños

2 Dibuja y calcula.

$$\begin{array}{r} 4 \\ +\ 3 \\ \hline \square \end{array}$$

$$\begin{array}{r} 6 \\ -\ 2 \\ \hline \square \end{array}$$

$$\begin{array}{r} 5 \\ +\ 4 \\ \hline \square \end{array}$$

$$\begin{array}{r} 8 \\ -\ 3 \\ \hline \square \end{array}$$

LIVEWORKSHEETS

Nombre y apellidos: ..... **R**

3 Coloca los números, utiliza fichas y calcula.

5 + 2	6 + 3	7 − 3	9 − 4
5			
+	+	−	−

4 Lee, dibuja y resuelve el problema.

Juan tiene 5 aviones. Tira 3.

¿Cuántos aviones le quedan?

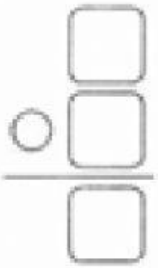

LIVEWORKSHEETS