เก็บคะแนนครั้งที่ 5

เรื่อง มุมภายในและความยาวรอบรูปหลายเหลี่ยม ป.6

1. ระบุชนิด จำนวนมุมและขนาดมุมภายในของรูปหลายเหลี่ยมต่อไปนี้

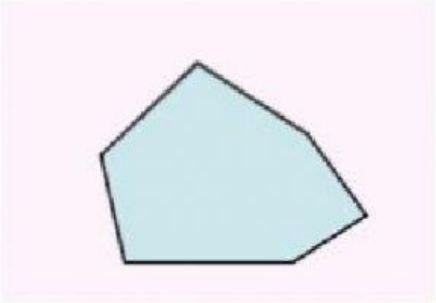

ชนิดรูปหลายเหลี่ยม มีมุม มุม

ขนาดมุมภายใน องศา

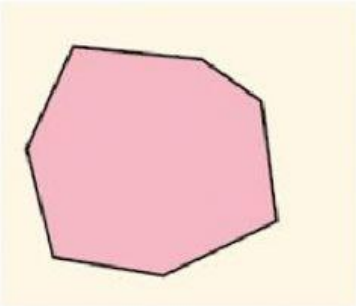

ชนิดรูปหลายเหลี่ยม มีมุม มุม

ขนาดมุมภายใน องศา

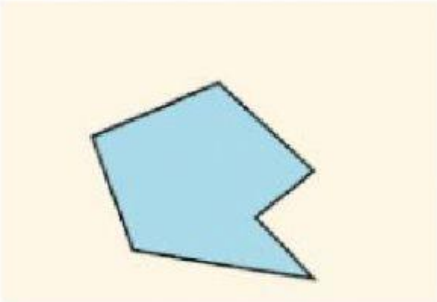

ชนิดรูปหลายเหลี่ยม มีมุม มุม

ขนาดมุมภายใน องศา

LIVEWORKSHEETS

2. ระบุความยาวรอบรูปหลายเหลี่ยมต่อไปนี้

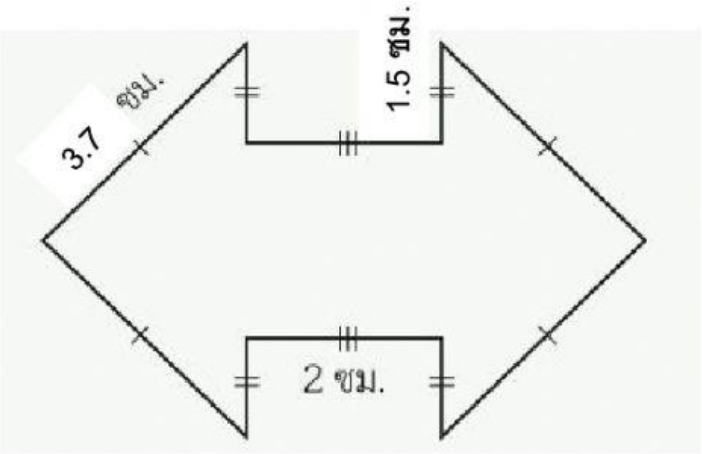

2.1) ความยาวรอบรูป เซนติเมตร

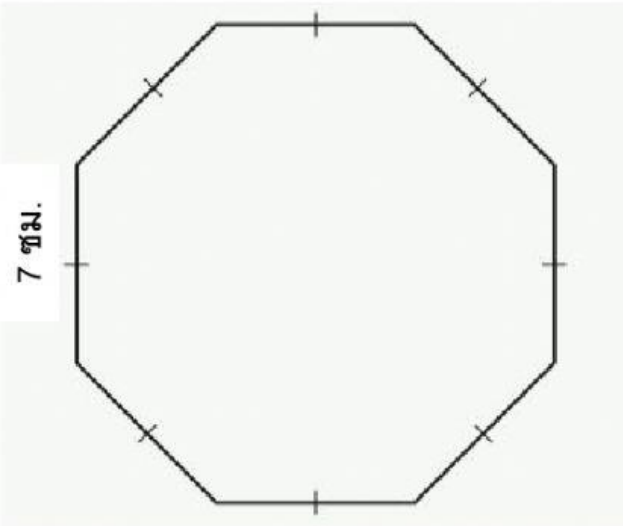

2.2) ความยาวรอบรูป เซนติเมตร

LIVEWORKSHEETS

3. ถ้ารูปนี้มีความยาวรอบรูป 35 เซนติเมตร

$\overline{MA}$ ยาว เซนติเมตร

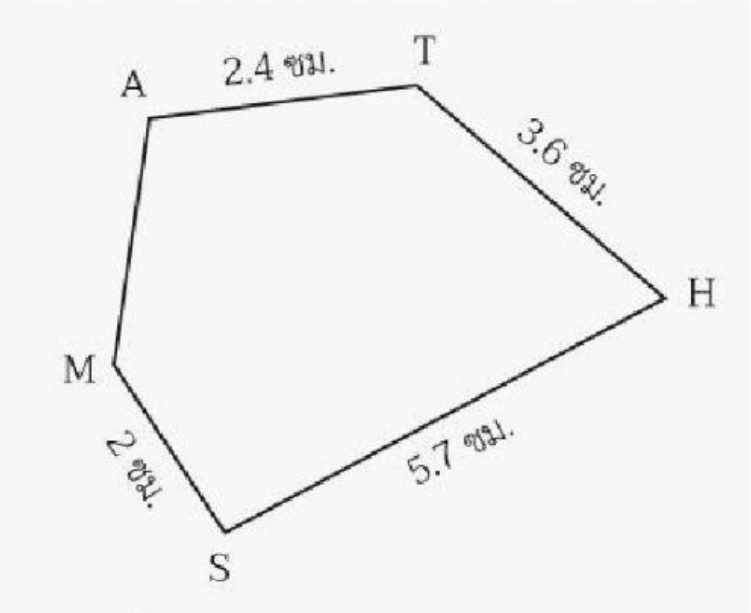

4. ถ้ารูปนี้มีความยาวรอบรูป 127 เมตร

แต่ละด้านยาว เมตร

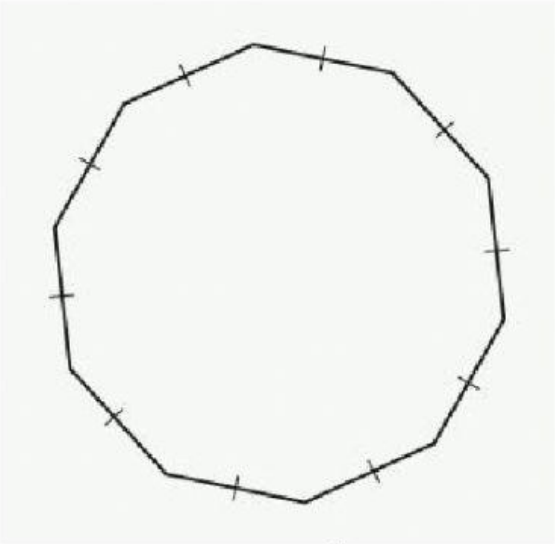

ชื่อ ชั้น เลขที่

LIVEWORKSHEETS