¿Cuántas esferas hay en el pino?

-Cuenta las esferas que hay en cada pino y une los puntos negros con el número de esferas que corresponde.







1

3

5

7

6

2

Mtra. Lilian Adelina Abrica Vences.

LIVEWORKSHEETS