Piezas rectilíneas planas en una vista

1. ¿Qué acotación es según la norma?

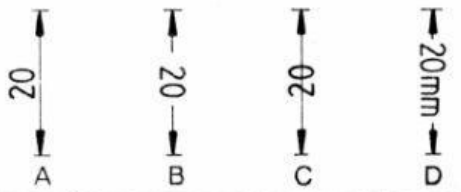

2. ¿Qué acotación es según la norma?

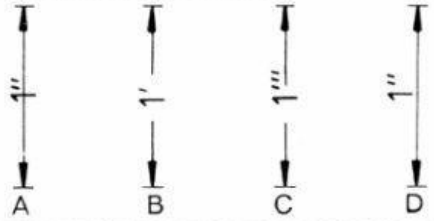

3. ¿Qué flecha es según la norma?

A

B

C

D

4. ¿Cuál de las afirmaciones sobre flechas es correcta?

A Las flechas deben indicarse sólo en dibujos a lápiz.
B Las flechas abarcan un ángulo de 25°.
C Las flechas indican el final de las líneas de cota.
D Las flechas pueden dibujarse como se desee.

5. ¿Qué distancia mínima debe haber entre el borde y las líneas de cota?

A 8 mm
B 10 mm
C 12 mm
D 14 mm

6. Las líneas de cota deben tener entre sí una distancia mínima de

A 10 mm
B 9 mm
C 8 mm
D 7 mm

7. ¿En qué representación es la acotación según la norma?

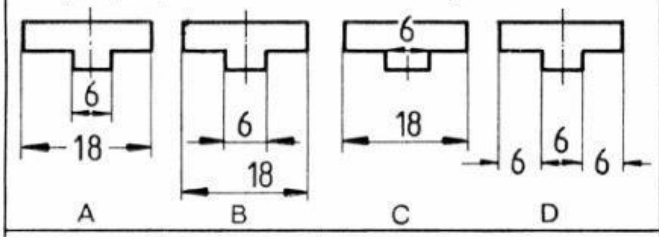

8. ¿Qué acotación es según la norma?

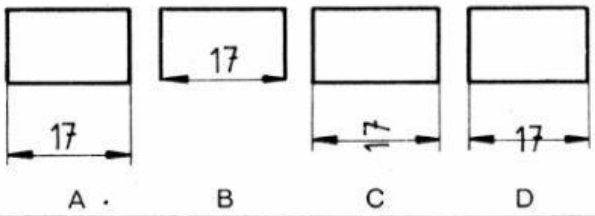

9. ¿Qué cota no parte de la arista de referencia (B)?

A 10
B 6
C 5
D 25

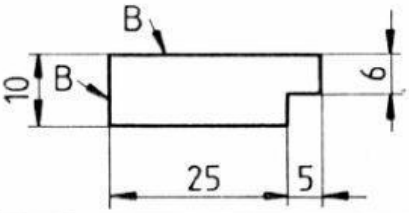

10. ¿Qué cota no está bien indicada?

A 10
B 16
C 17
D 30

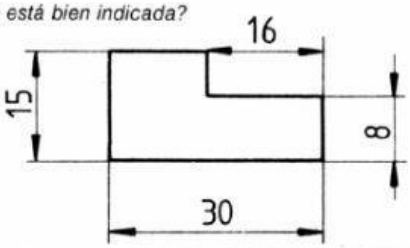

11. ¿Qué regla ha sido aquí violada?

A Líneas de cota no deben cruzarse.
B Líneas de cota deben interrumpirse en el punto de corte.
C Líneas de cota deben trazarse sólo junto a líneas auxiliares.
D Líneas de cota no se cortan justo en el medio.

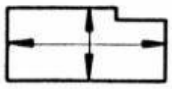

12. ¿Qué afirmación es correcta?

A La acotación 5 es según la norma.
B La acotación 16 es según la norma.
C Las acotaciones 5 y 16 no son según la norma.
D Las acotaciones 5 y 16 son según la norma.

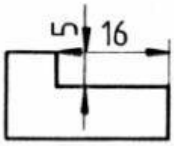

13. ¿Cómo se acotan piezas simétricas?

A Simétricamente al eje
B Oblicuamente al eje
C Nunca partiendo del eje
D Partiendo siempre de la arista superior

Marca las casillas correspondientes

	1	2	3	4	5	6	7	8	9	10	11	12	13	Errores
A														
B														
C														Nota
D														

Nombre	Clase	Fecha		T 2

LIVEWORKSHEETS

Piezas curvilíneas planas en una vista

1. *¿Qué representación es correcta?*

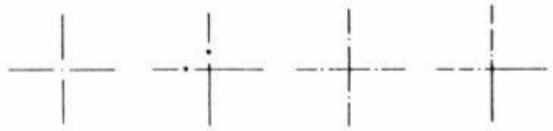

A B C D

2. *¿Qué representación es según la norma?*

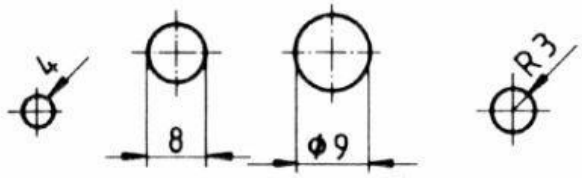

A B C D

3. *¿Qué radio no corresponde a la norma?*

A 12
B 70
C 3
D 4

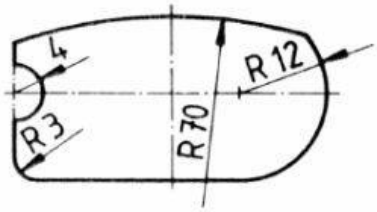

4. *¿Qué escritura es correcta?*

A 30R
B R 30
C R=30
D 30 R

5. *¿Qué escritura es correcta?*

A Φ 30
B 30 Φ
C 30 Φ
D Φ 30

6. *¿Qué acotación es incorrecta?*

A 22
B R10
C 11
D R12

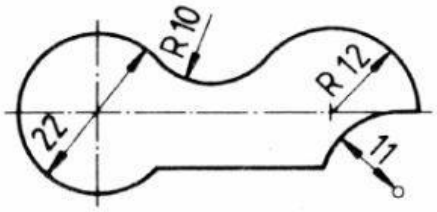

7. *¿Qué representación es correcta?*

A B C D

8. *¿Qué representación es correcta?*

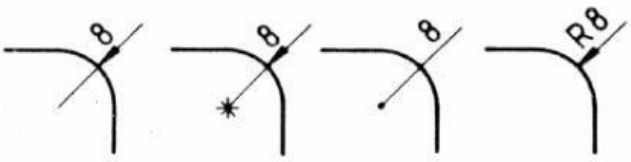

A B C D

9. *¿Qué representación es correcta?*

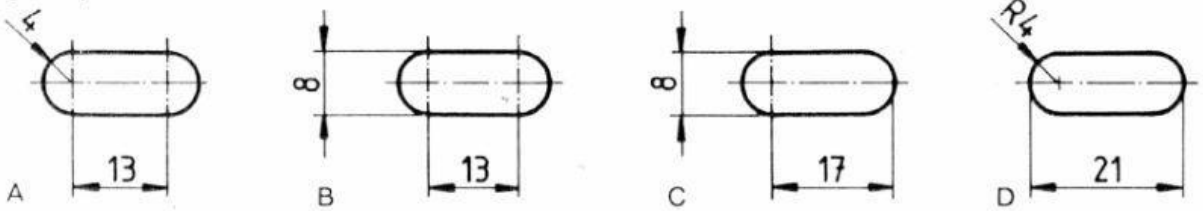

A B C D

10. *¿Qué representación es correcta?*

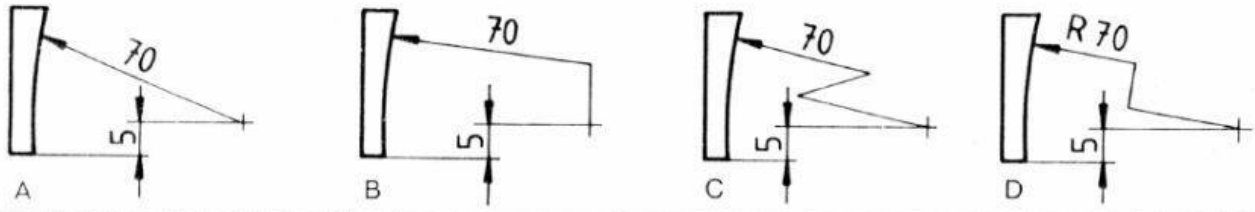

A B C D

11. *¿Qué afirmación es correcta?*

A La distancia entre agujeros se refiere siempre al centro.

B La distancia entre agujeros se refiere siempre al diámetro exterior.

C Si una pieza tiene varias perforaciones del mismo diámetro, hay que acotar cada perforación.

D El eje de una perforación no debe usarse como línea auxiliar.

Marca las casillas correspondientes

	1	2	3	4	5	6	7	8	9	10	11	Errores
A												
B												Nota
C												
D												

Nombre	Clase	Fecha		T 3

LIVEWORKSHEETS