الاسم :---------- الصف : ٣ع/-------

حدِّد النظرية أو المسلَّمة التي يمكن استعمالها لإثبات أن كل زوج من أزواج المثلثات متطابق.

واكتب "غير ممكن" إذا تعذَّر إثبات التطابق.

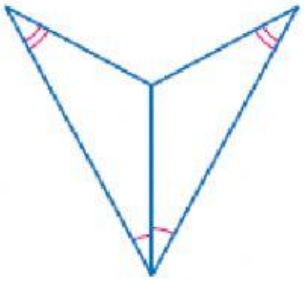

ض ض ض

ض ز ض

ز ض ز

ز ز ض

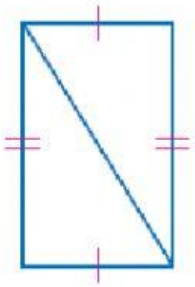

ض ض ض

ض ز ض

ز ض ز

ز ز ض

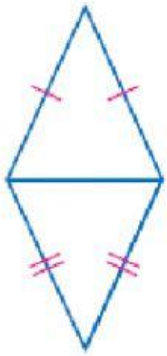

ض ض ض

ض ز ض

ز ض ز

ز ز ض

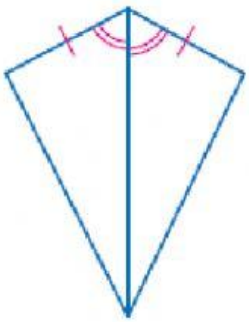

ض ض ض

ض ز ض

ز ض ز

ز ز ض

LIVEWORKSHEETS

في الشكل أدناه، △ر هـ ت ≅ △ل ك ع:

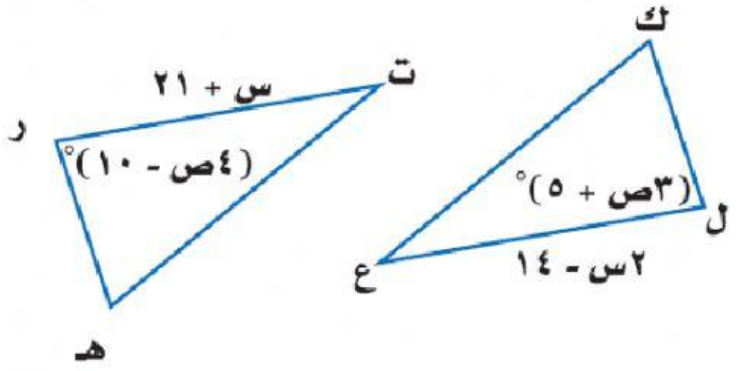

أوجد قيمة س.

أوجد قيمة ص.

س =

٢٥ ٣٥ ١٥ ٧

ص=

١٥ ٥ ٣٥ ٢٥

LIVEWORKSHEETS