"Hooga geomeetriasse" tean ja oskan

1. Kirjuta kujundi **alla** kujundi nimetus.

Mitu serva?	Mitu tippu?	Mitu serva?	Mitu tippu?	Mitu tahku?
.....	.....	.....	.....	.....

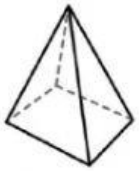
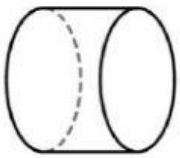

.....	.....	.....	.....	.....

2. Ühenda jooned õige vastusega ja täida lüngad.

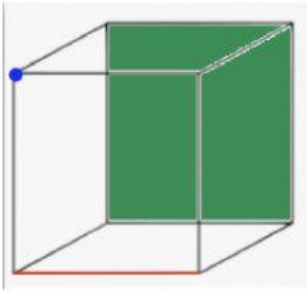

Roheliseks on värvitud kuubi	serv. Kuubil on kokku ..... serva.
Siniseks on värvitud kuubi	tipp. Kuubil on kokku ..... tippu.
Punaseks on värvitud kuubi	tahk. Kuubil on kokku ..... tahku.

3. Mõõda ja arvuta murdjoone pikkus millimeetrites.

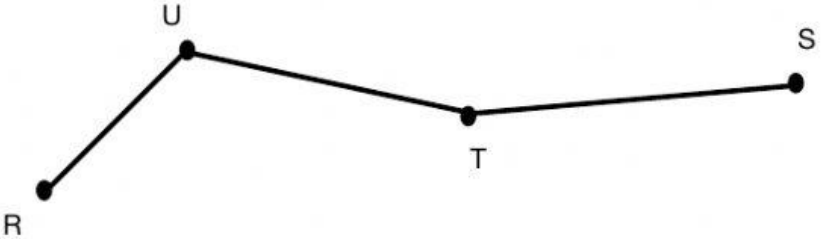

RU = ... UT = ... TS = ...

Murdjoone pikkus on .....

4. Hulknurga külgede pikkused on AB = 7 cm, BC = 15 cm, CD = 16 cm, DE = 14 cm, EF = 15 cm ja FA = 3 cm. **Kirjuta hulknurga nimetus ja arvuta ümbermõõt.**

Selle hulknurga nimetus on .....

P = ...

LIVEWORKSHEETS

5. Pööra tegusõna PIILUMA

OLEVIK - ainsus

1. pööre	mina	
2. pööre	sina	
3. pööre	tema	

OLEVIK - mitmus

1. pööre	meie	
2. pööre	teie	
3. pööre	nemad	

MINEVIK - ainsus

1. pööre	mina	
2. pööre	sina	
3. pööre	tema	

MINEVIK - mitmus

1. pööre	meie	
2. pööre	teie	
3. pööre	nemad	

6. Täienda skeemi ja vali kastidesse sobivad rahvaluulevormid:
mõistatus, vanasõna, muinasjutt, kõnekäänd, liisusalm, muistend

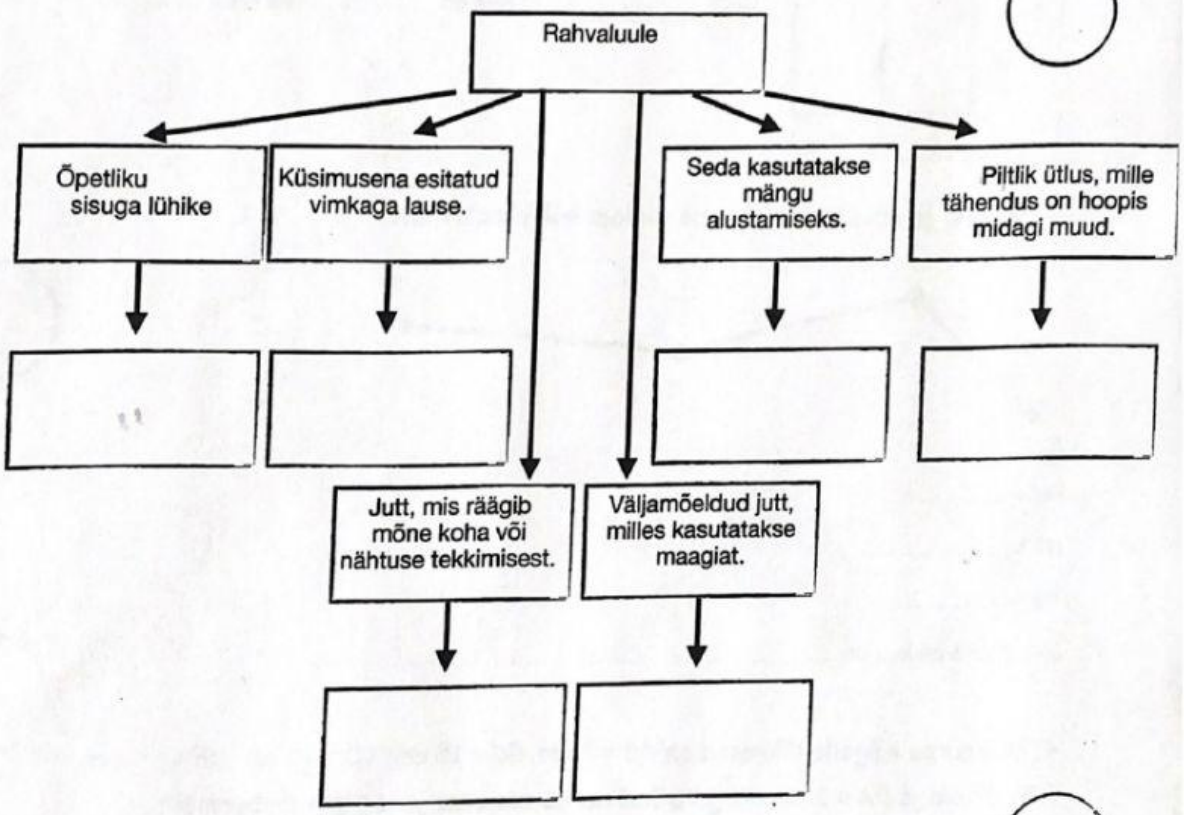

7. Määra rahvaluulevorm.

Tee tööd töö ajal, aja juttu jutu ajal _____

Tules ei põle, vees ei upu, mullas ei mädane? _____

Jänes püksis _____

LIVEWORKSHEETS