PEMERINTAH PROVINSI DAERAH KHUSUS IBUKOTA JAKARTA
DINAS PENDIDIKAN
SLB NEGERI 5 JAKARTA
Jl. KS Tubun III Dalam No. 37 Rt.002/002 Kel. Slipi Kec. Palmerah Telp. / Fax (021) 5349282
Kota Administrasi Jakarta Barat
email: slbn5jakarta@gmail.com http://www.slbn5jakarta.sch.id kode Pos : 11410

PENILAIAN AKHIR SEMESTER
SDLB TUNARUNGU
TAHUN PELAJARAN 2021/2022

Mata Pelajaran: Matematika **Nama: .....**

Hari, Tanggal : Kamis, 9 Desember 2021 **Kelas : 4 SDLB Tunarungu**

Waktu : 90 menit **Nilai : .....**

A. *Pilihlah dengan tanda silang (x) pada huruf A, B, atau C pada jawaban yang benar !*

1. *Hitunglah banyak ayam pada gambar berikut!*
   Banyak ayam semua ada .....
   A. 11 ekor
   B. 12 ekor
   C. 22 ekor



2. *Nama bilangan dari lambang bilang berikut adalah ....*
   A. lima tiga
   B. lima tiga puluh
   C. lima puluh tiga

53

3. *Lengkapi lambang bilangan berikut !*
   A. 42 dan 44
   B. 42 dan 43
   C. 42 dan 46

LIVEWORKSHEETS

4. Amati gambar berikut!

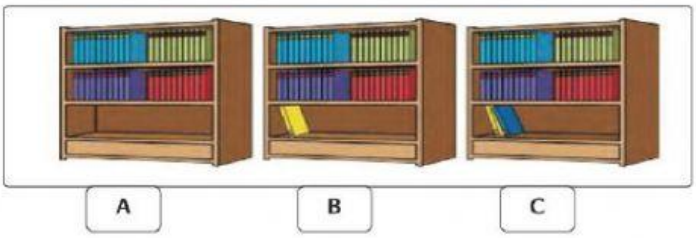

Pilihlah pernyataan yang benar

A. buku di rak A paling banyak

B. buku di rak B paling sedikit

C. buku di rak C paling banyak

5. Bangun datar persegi adalah ....

A.

B.

C.

6. Selesaikan operasi hitung pembagian berikut!

10 : 2 = ...

10 -2 -2 -2 -2 -2 = 0

Jadi 10 : 2 = ...

A. 4

B. 5

C. 6

7. Penulisan yang benar dalam bentuk pengurangan dari operasi hitung perkalian 8 : 2 = ...

A. 8 – 2 – 2 – 2 = 0

B. 8 – 2 – 2 – 2 – 2 = 0

C. 8 – 2 – 2 – 2 – 2 – 2 = 0

LIVEWORKSHEETS

8. Banyak jagung dalam keranjang ada 69.

69 ditulis ....

A. enam Sembilan

B. enam Sembilan puluh

C. enam puluh Sembilan

9. Hitunglah berapa kacang tanah ... buah



A. 40

B. 50

C. 60

10. Perhatikan garis bilangan beriut!

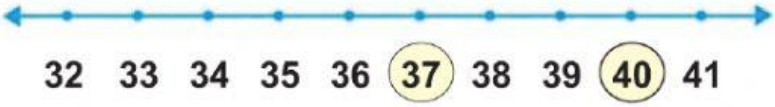

bilangan setelah 37 dan sebelum 40 adalah ....

A. 35 dan 36

B. 36 dan 38

C. 38 dan 39

11. Banyak tomat ada... buah



A. 30

B. 33

C. 40

LIVEWORKSHEETS

12. Perhatikan gambar berikut!

panjang pensil 5 cm, maka panjang pensil sama dengan ….. mm

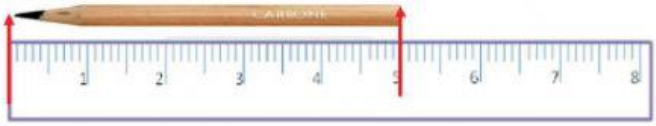

A. 0,5
B. 5
C. 50

13. Satuan tak baku bernama "hasta" ditunjukkan …

A.
B.
C.
D.

14. Perhatikan gambar berikut!

Satuan baku yang dipakai adalah ….

A. sentimeter
B. kilometer
C. meter

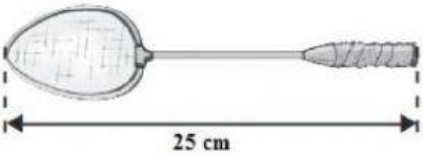

15. Alat musik gendang termasuk bangun ruang ….

A. kerucut
B. kubus
C. tabung

16. 20 : 5 = ….

A. 4
B. 5
C. 2

LIVEWORKSHEETS

17. Lambang bilangan dari "enam puluh empat" adalah ....

A. 64

B. 46

D. 604

18. Sebutkan bilangan asli kurang dari 7 adalah ....

A. 1, 2, 3, 4, 5, 6, 7

B. 1, 2, 3, 4, 5, 6

C. 0, 1, 2, 3, 4, 5, 6

19. Pak tani memiliki 18 buah kentang. Kentang tersebut akan dimasukkan ke dalam 6 keranjang dengan jumlah sama banyak. Berapa jumlah kentang pada tiap keranjang ?

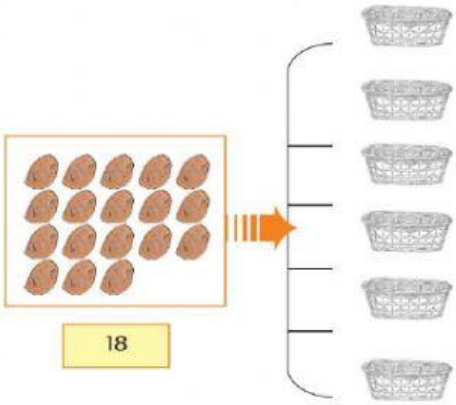

A. 6 buah
B. 3 buah
C. 2 buah

20. Perhatikan gambar berikut!
Almari termasuk bangun ruang ....

A. 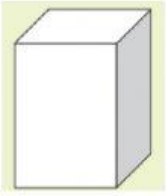

B. 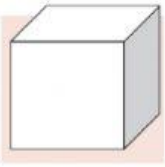

C.

LIVEWORKSHEETS