Ciències Naturals 6é primària "La reproducció humana" Col·legi Sant Francesc d'Assís

1. Escriu en els requadres P, si es tracta d'un caràcter sexual primari, i S, si es tracta d'un caràcter sexual secundari.

vagina	úter	pèl abundant al cos
barba	mamelles desenvolupades	veu aguda
malucs amples	penis	pròstata

2. Escriu els noms dels òrgans de l'aparell reproductor femení.

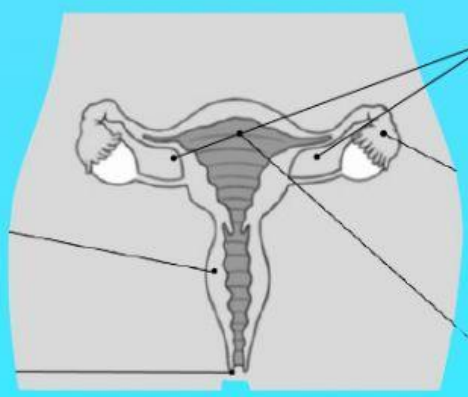

3. Escriu els noms dels òrgans de l'aparell reproductor masculí que corresponguen a les funcions enunciades a continuació. (Escriu-los sense article)

- _____: porta els espermatozoides a l'exterior.
- _____: fabrica un líquid que serveix d'aliment i transport dels espermatozoides.
- _____: és on es formen els espermatozoides.
- _____: a l'extrem desemboca la uretra.

4. Llig els enunciats següents i indica si són verdaders (V) o falsos (F).

- Les cèl·lules sexuals masculines són els òvuls.
- Les cèl·lules sexuals femenines són els espermatozoides.
- Els espermatozoides es formen als testicles.
- Els òvuls són unes cèl·lules molt més grans que els espermatozoides.
- L'embaràs d'una dona sol tindre una durada d'unes 36 setmanes.

5. Quin camí han de recórrer els espermatozoides per a arribar a l'exterior?

Testicle, conducte deferent, uretra.

Testicle, uretra, conducte deferent.

Testicle, bufeta urinària, conducte deferent, uretra.

LIVEWORKSHEETS

6. Completa aques text sobre el desenvolupament de l'embrió amb les paraules correctes.

L'embrió, en adherir-se a la paret de l'úter, està envoltat per una bossa plena d'un líquid denominat líquid _____. A més, a l'úter es forma un òrgan que s'anomena _____, que està unit a l'embrió mitjançant el cordó _____. L'embrió va creixent dins de l'úter i quan té tres mesos, rep el nom de _____.

7. Ordena les fases del part escrivint en els requadres números de l'1 al 4.

dilatació trencar aigües deslliurament expulsió

8. El dibuix següent representa el procés de la fecundació.

Numera els passos en el dibuix i les frases corresponents que expliquen el procés.

L'embrió s'adhereix a la paret de l'úter.

L'òvul madur ix de l'ovari.

S'uneixen l'òvul i l'espermatozoide, i formen el zigot.

El zigot es divideix de manera continuada i es forma l'embriò.

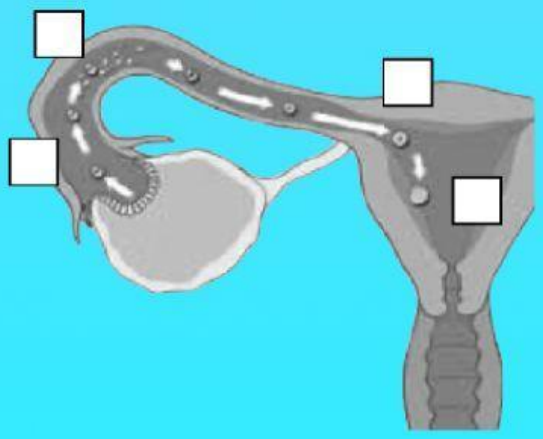

9. Uneix amb fletxes

Dilatació	Trencament de la bossa que conté el líquid amniòtic.
Deslliurament	L'úter es contrau involuntàriament i la mare contrau la musculatura del'abdomen perquè el bebé isca.
Expulsió	Expulsió de la placenta.
Trencar aigües	Moment en què el coll de l'úter s'obri a poc a poc.

10. Escriu els noms dels òrgans de l'aparell reproductor masculí.

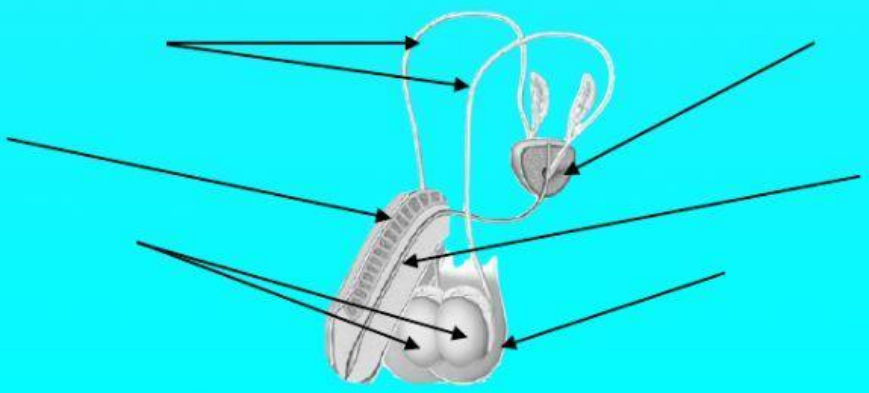

LIVEWORKSHEETS