MINISTERIO DE EDUCACIÓN
COLEGIO EUROPEO PANAMÁ
MATEMÁTICAS

Nombre: _____ **Grado:** _____ **Fecha:** _____

Indicaciones generales: Lea bien las indicaciones antes de contestar. Total, de puntos 60.

I. Dictado de números. 10 pts.

_____ _____

_____ _____

_____ _____

_____ _____

_____ _____

II. Escribe cómo se leen las siguientes cantidades. 5 pts.

a. 345 _____

b. 68 _____

c. 223 _____

d. 469 _____

e. 568 _____

III. Resuelva las siguientes adiciones. 6 pts.

		9	9	6				8	9	6				7	9	5	
	+	9	7	8			+	9	6	8			+	9	9	8	

LIVEWORKSHEETS

IV. Resuelva las siguientes sustracciones. 6 pts.

926	835	956
- 658	- 368	- 598

V. Resuelve las siguientes multiplicaciones. 13 pts.

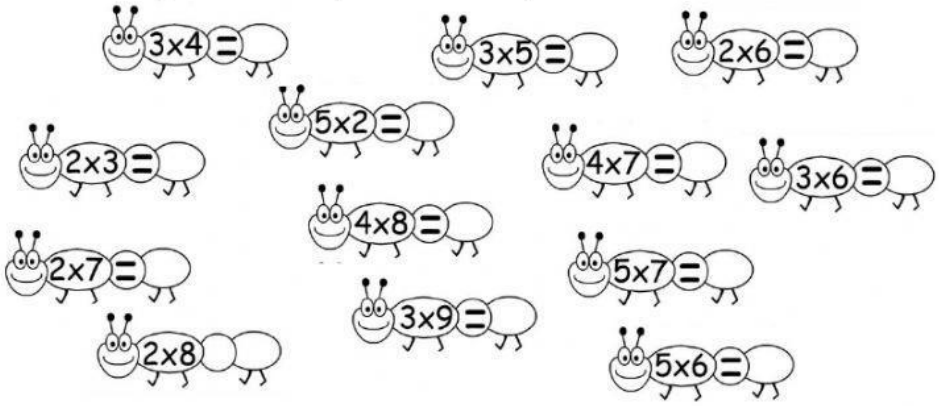

VI. Colorea el resultado correcto de las siguientes divisiones. 3 pts.

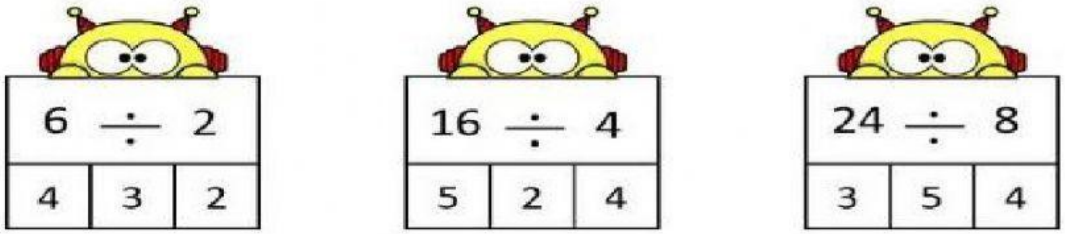

VII. Correlaciona con una línea de color rojo el nombre con el dibujo de las siguientes medidas no convencionales. 3 pts.

Pie **Cuarta** **Paso**

LIVEWORKSHEETS

VIII. Escribe cuánto miden los siguientes objetos en centímetros. 6pts.

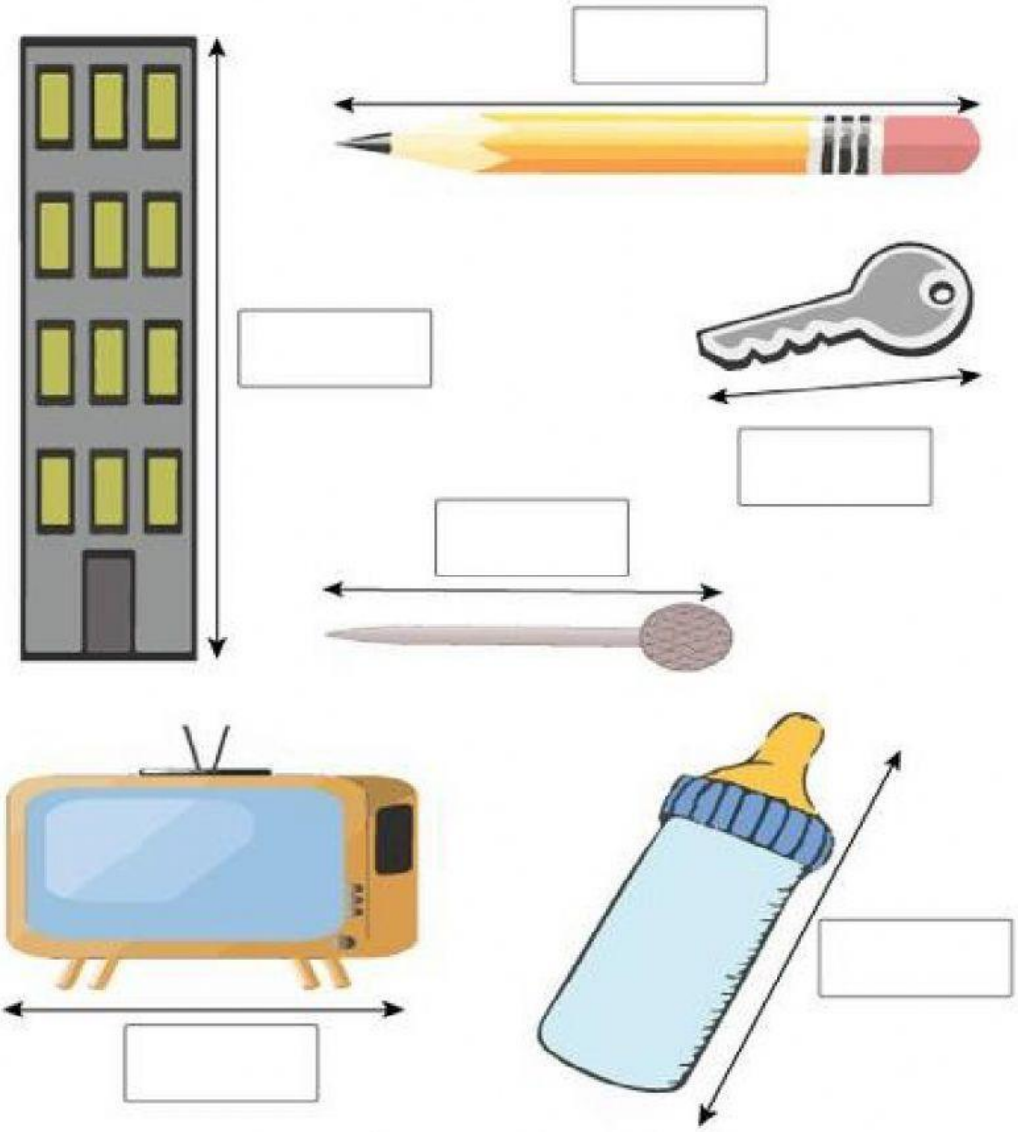

IX. Coloque la hora en que usted realiza las siguientes actividades. 2 pts.

LIVEWORKSHEETS

X. Coloque la hora indicada, en los siguientes relojes. 6pts.

1.



_____

2.

_____

3.

_____

4.

_____

5.

_____

6.

_____

LIVEWORKSHEETS