Tên con là:

Phiếu ôn tuần 11

MÔN TOÁN

Tính

$$\begin{array}{r} 127 \\ \times\ 3 \\ \hline \end{array} \qquad \begin{array}{r} 250 \\ \times\ 3 \\ \hline \end{array} \qquad \begin{array}{r} 114 \\ \times\ 7 \\ \hline \end{array} \qquad \begin{array}{r|l} 85 & 3 \\ \hline ___ & \\ ___ & \end{array} \qquad \begin{array}{r|l} 98 & 7 \\ \hline ___ & \\ ___ & \end{array}$$

Viết số thích hợp vào chỗ trống

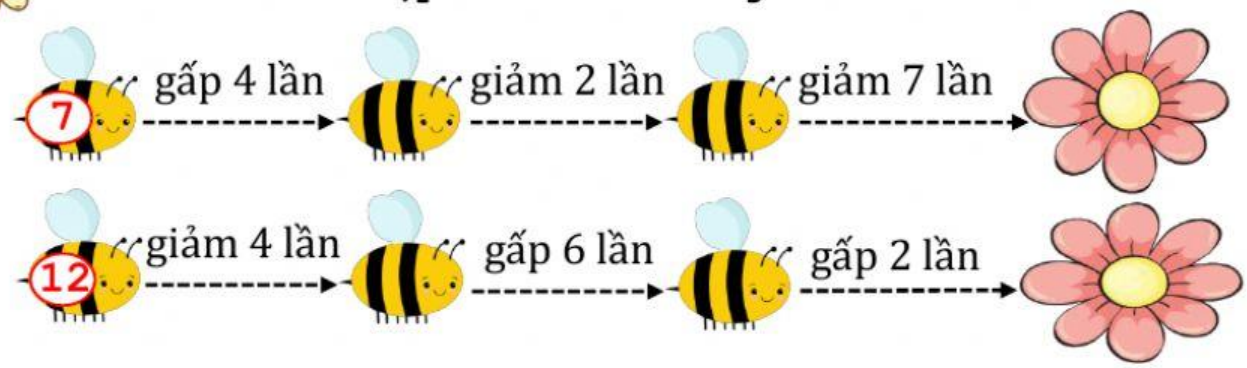

Em hái được 5 bông hoa, chị hái được nhiều hơn em 3 bông hoa. Hỏi cả hai chị em hái được bao nhiêu bông hoa?

Tóm tắt

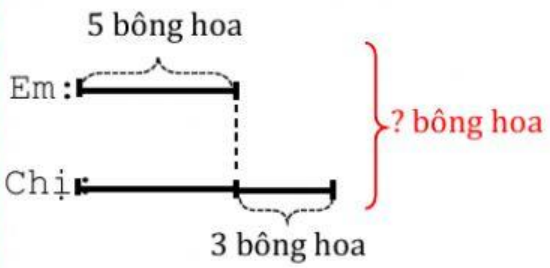

Bài giải

Đáp số:

LIVEWORKSHEETS

MÔN TIẾNG VIỆT

Em hãy luyện đọc những bài sau ít nhất 2 lần:

- **Đất quý, đất yêu** – SGK TV3, tập 1, trang 84,85
- **Vẽ quê hương**– SGK TV3, tập 1, trang 88

Nhiệm vụ 2: Đánh dấu ✓ vào những từ ngữ viết đúng chính tả.

mũi thuyền	mâm cỗ	cỗ áo	bữa trưa	một nữa

Nhiệm vụ 3: Tìm từ ngữ theo yêu cầu

Tìm 2 từ ngữ chứa tiếng có vần "oai"



Tìm 2 từ ngữ chứa tiếng có vần "oay"

Nhiệm vụ 4: Đặt 3 câu có hình ảnh so sánh

- .....
- .....
- .....

Chúc các con cuối tuần hạnh phúc bên gia đình.

LIVEWORKSHEETS