ΦΥΛΛΟ ΕΡΓΑΣΙΑΣ: ΓΡΑΦΙΚΗ ΠΑΡΑΣΤΑΣΗ ΠΑΡΑΒΟΛΗΣ

1. Να βρείτε τους τύπους των συναρτήσεων που έχουν τις παρακάτω γραφικές παραστάσεις.

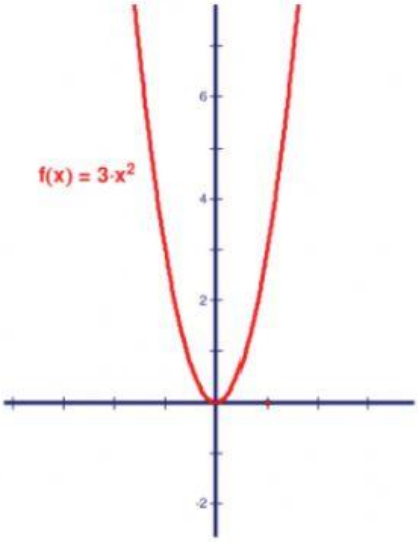

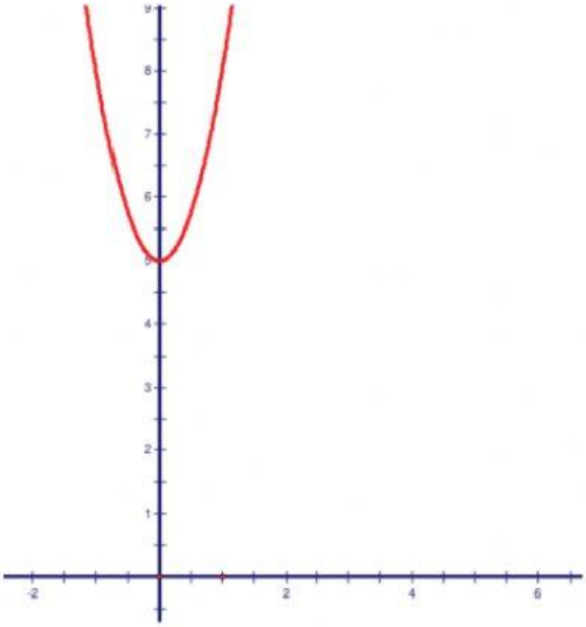

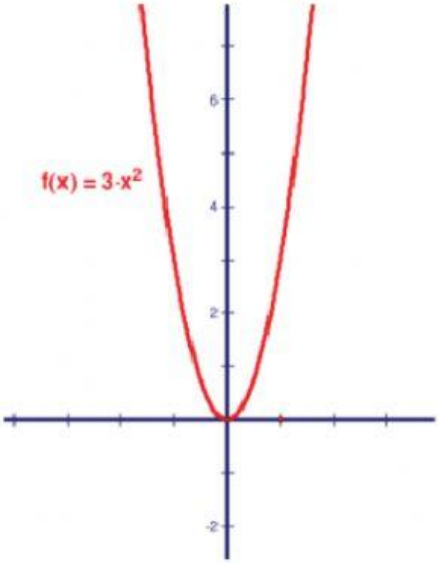

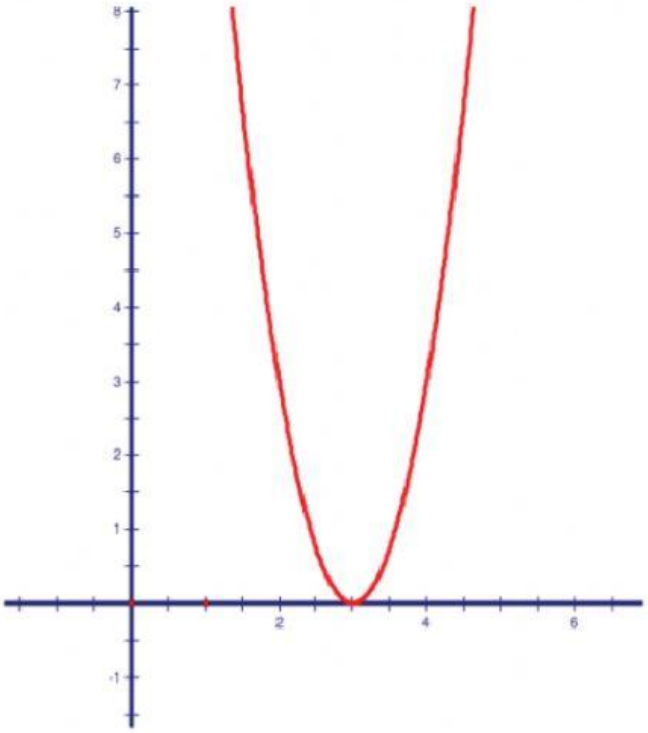

LIVEWORKSHEETS

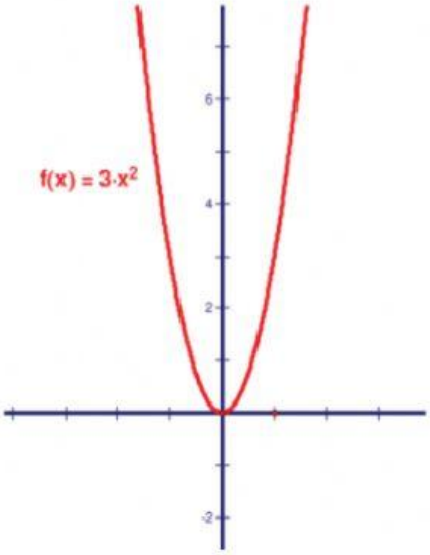

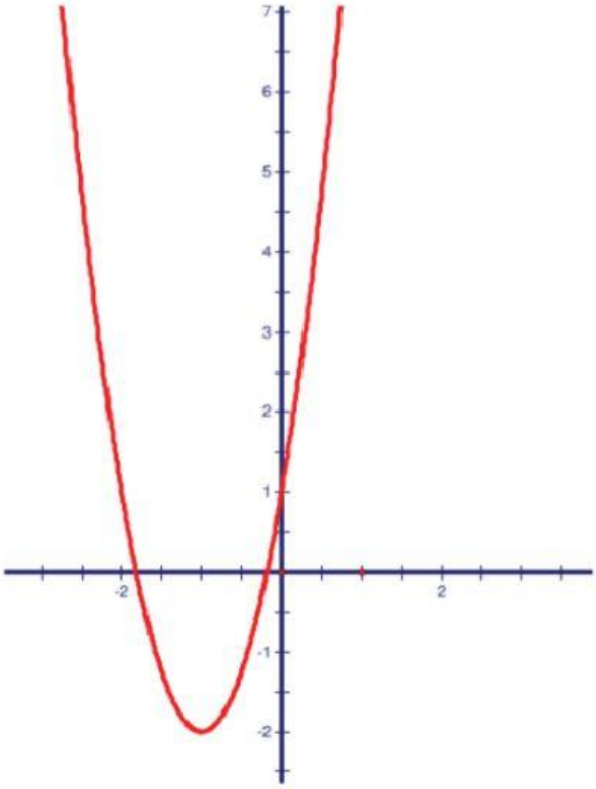

2. Η γραφική παράσταση της $y = 2(x - 3)^2$ προκύπτει από την γραφική παράσταση της

   $y = 2x^2$ με μετατόπιση κατά μονάδες

   προς τα

3. Η γραφική παράσταση της $y = 4(x + 2)^2 - 5$ προκύπτει από την γραφική παράσταση

   Της $y = 4x^2$ με μετατόπιση κατά μονάδες

   προς τα και μετατόπιση κατά μονάδες

   προς τα

LIVEWORKSHEETS