Tuần 11

Nhận xét của giáo viên: .....

Họ và tên: .....

Lớp: .....

1 **Số ?**

6 – 4 = ☐

3 – 1 = ☐

5 – 2 = ☐

4 – 2 = ☐

2 **Tính:**

6 – 2 = ...	6 – 5 = ...	4 – 1 = ...
3 – 2 = ...	5 – 1 = ...	6 – 1 = ...
2 – 2 = ...	5 – 5 = ...	6 – 6 = ...

3 **Viết phép tính thích hợp với mỗi tranh vẽ:**

a)



☐ ○ ☐ = ☐

b)



☐ ○ ☐ = ☐

c)



☐ ○ ☐ = ☐

d)

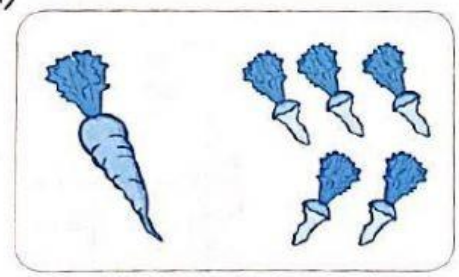

☐ ○ ☐ = ☐

LIVEWORKSHEETS

4 **Bớt hình tròn cho phù hợp với phép tính (theo mẫu):**

Mẫu: 5 – 4

1 – 1

2 – 1

2 – 2

6 – 3

5 **Nối (theo mẫu):**

4 – 3

6 – 4

5 – 2

3 – 3

3

1

0

2

6 a) **Số ?**

Có ☐

☐ – ☐ = ☐

☐ – ☐ = ☐

☐ – ☐ = ☐

b) Xem tranh rồi tập kể chuyện theo mỗi phép tính trên.

LIVEWORKSHEETS