1. **Observa la siguiente figura y encuentre el perímetro.**



a) 12 cm
b) 16 cm
c) 24 cm
d) 16 cm^2

2. **Una lata de duraznos en almíbar dice en su etiqueta que pesa 0.480 kilogramos qué fracción representa este peso.**

a) $\frac{48}{1000}$

b) $\frac{480}{1000}$

c) $\frac{48}{100}$

d) $\frac{0,48}{100}$

3. Mi mamá me encargó 3/5 kg de arroz y 2 2/5 para mi tía, pero yo compré 1 1/5 ¿Cuánto más falta por comprar? Selecciones la gráfica que corresponde a lo encargado por la mamá.

a) 2 4/5
b) 1 4/5
c) 2 3/5
d) 1 3/5

La gráfica es:

Gráfica 1

Gráfica 2

Gráfica 3

4. Calcula el área de la siguiente figura.



a) 12 cm^2
b) 9 cm^2
c) 15 cm^2
d) 9 cm

Si 10 centímetros (cm) es igual a 1 decímetro, ¿cuántos decímetros cuadrados tiene como área la figura?

5. **¿Cuáles son los datos faltantes de la tabla?**

Galletas	Paquetes
14	
70	
126	9

a. 1 y 5
b. 1 y 7
c. 2 y 5
d. 2 y 7

LIVEWORKSHEETS

6. **¿Cuál es la razón en la tabla anterior?**

   a) 1/14

   b) 1/7

   c) 1/5

7. **Complete los datos que faltan**

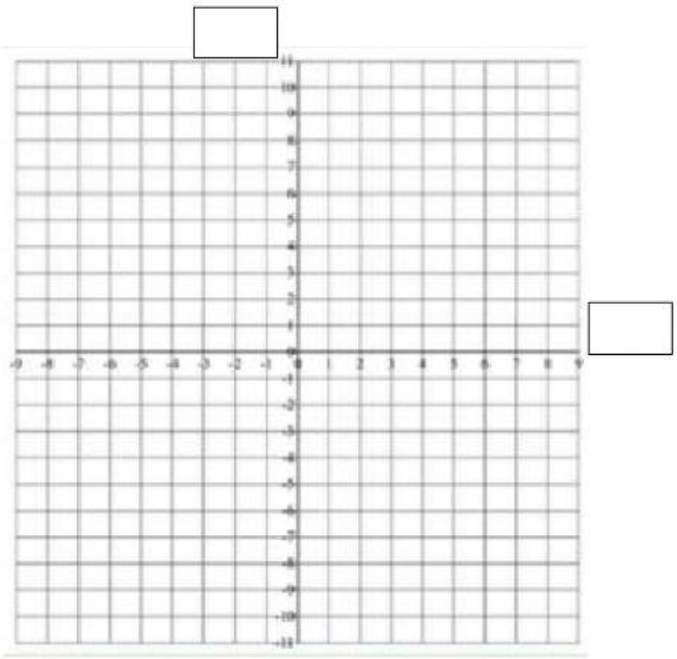

8. Ubicar los pares ordenados
   Nota: arrastre primero los puntos,
   Luego, los pares ordenados.

   - (8,0)
   - (7,10)
   - (3,5)

9. **Completar con las palabras abscisas y ordenadas**

La _____ es la coordenada horizontal.

La _____ es la coordenada vertical.

10. **En un torneo de fútbol, Jorge anotó 12 goles y Javier 9 goles. Encuentra la cantidad de veces entre la cantidad de goles que anotó Javier comparada con la cantidad que anotó Jorge.**

Cantidad de veces:

Completa la gráfica

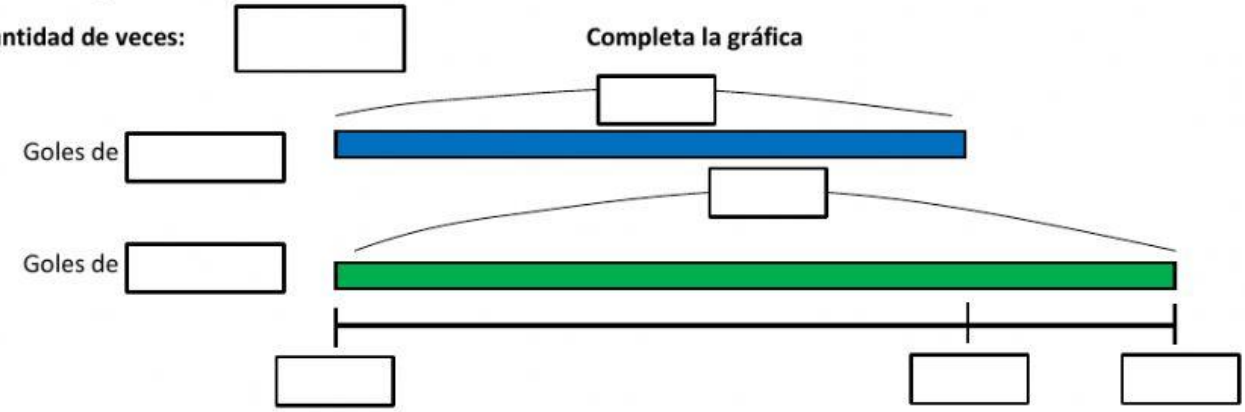

LIVEWORKSHEETS

11. Encierra en un círculo la letra que corresponda al porcentaje de la figura coloreada que se te muestra.



a. 60%

b. 4%

c. 40%

d. 6%

12. Porcentaje anterior en decimal.

a. 0,04

b. 0,4

c. 40

d. 4,0

13. EL prisma muestra el área de una cara y la base. ¿cuál es el área total del prisma?

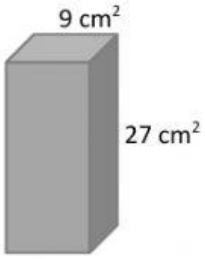

El área total es: [ ]

14. El volumen del prisma

[ ]

15. Cuatro amigos van a repartirse por partes iguales y sin que sobre nada 5/8 de una pizza. ¿qué parte del total es decir de la pizza completa le tocara a cada uno?

a) 1/8

b) 2/8

c) 3/16

d) 5/32

16. Ordenar fracciones Ordena de menor a mayor las siguientes fracciones:

1/8 4/2 5/8 2/4

LIVEWORKSHEETS