Ministerio de Educación
Centro Bilingüe Los Pinos
Prueba Trimestral de Matemática
III Trimestre

Nombre: _____ **Grado:** II° A **Fecha:** _____
Docente: Yalise Rosales **Valor: 73Puntos.**

Indicaciones Generales: Lea totalmente la prueba antes de contestar. La prueba está redactada en base a temas dados en clases. **Valor 73 pts.**

I. PARTE: CIERTO Y FALSO. **C** PARA CIERTO Y **F** PARA FALSO. Valor 12pts.

1._____ El numerador indica de partes iguales en que se divide la unidad.

2:_____ El denominador representa la parte que se toman de la unidad.

3:_____ 6/8 es impropia.

4:_____ 9/2 es impropia.

5:_____ cuatro octavo es impropia.

6:_____ un medio es propia.

7:_____ 5,24 se lee cinco con veinticuatro centésimos

8:_____ 0,36 se lee treinta y seis decimos.

9:_____ El mes que tiene 28 días es febrero.

10._____ un siglo es 10 años.

11:_____ un año tiene 52 semanas.

12: ____ 1 hora tiene 60 minutos.

II. ESCOGER LA MEJOR RESPUESTA. VALOR 10 PTS.

1: 1 Centímetro equivale a.

A: 10 centímetro B. 10 milímetro C. 100 centímetro

2: 1 metro equivale a.

A. 100 centímetro B. 100 milímetro C1000 centímetro

3. 5 pares de media es.

A. 4 unidades B. 12 unidades C 10 unidades

LIVEWORKSHEETS

4: 1 kilómetro equivale a.

A. 1 000 metros B. 10 metros C. 100 metros

5: una docena es.

A. 6 unidades B. 10 unidades C. 12 unidades

6: Cuantos días tiene febrero en un año bisiesto.

A. 28 días B. 29 días C. 30 días

7: 1 año tiene.

A. 365 días B.460 días C. 366 días

8: un minuto tiene.

A. 60 minutos B. 60 segundo C. 60 horas

9. la manecilla corta indica.

A. semana B. horas C. segundo

10: 1 década es.

A. 10 días B. 10 semanas C. 10 años

LIVEWORKSHEETS

III. PARTE: ESCRIBE LAS FRACCIONES QUE REPRESENTA CADA GRAFICA. 10 PTS.

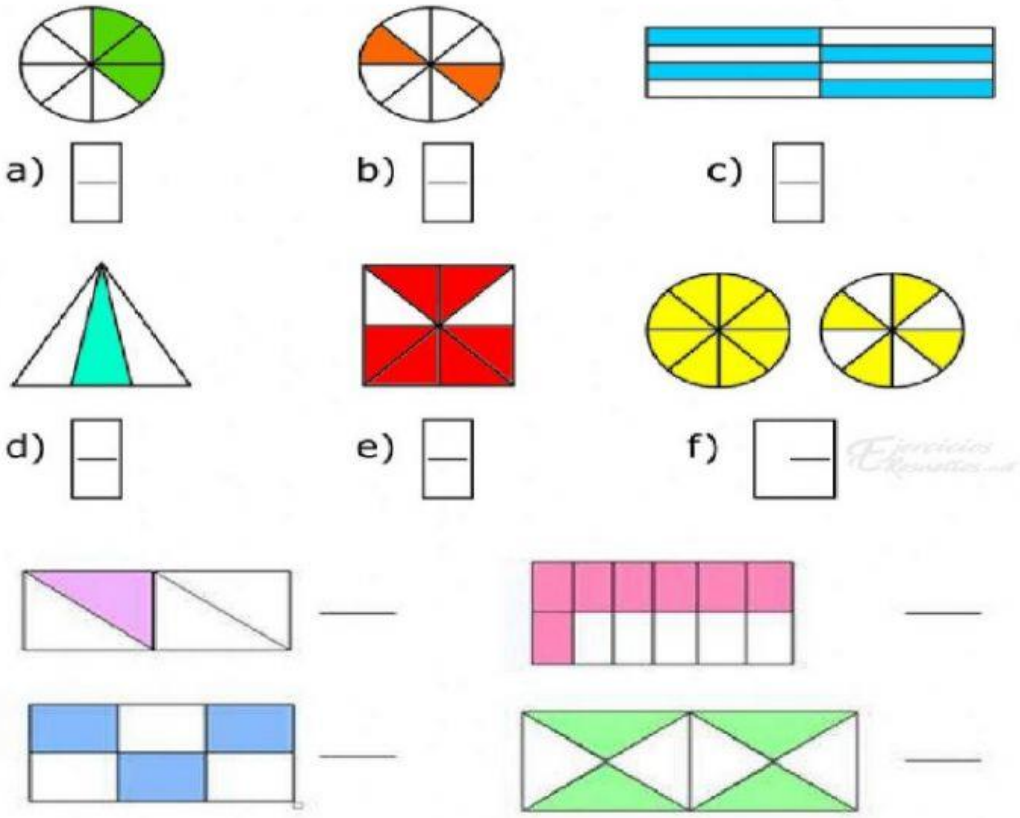

IV. PARTE: OBSERVA LA GRAFICA Y COMPLETA EL CUADRO. VALOR 10 PTS

GRAFICA	fracción	decimal
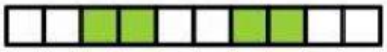		

LIVEWORKSHEETS

IV. PARTE: COMPARA LAS FRACCIONES Y SELECCIONA EL SIGNO CORRECTO >, < y =. VALOR 6PTS.

$\frac{4}{6}$	<	$\frac{2}{6}$	$\frac{3}{6}$	<	$\frac{5}{6}$
	>			>	
$\frac{2}{4}$	<	$\frac{3}{4}$	$\frac{5}{7}$	<	$\frac{3}{7}$
	>			>	
$\frac{3}{8}$	<	$\frac{4}{8}$	$\frac{4}{9}$	<	$\frac{7}{9}$
	>			>	

V. PARTE: UNE LA LINEA DE LAS HORA INDICADA DE DERECHA A IZQUIERDA. VALOR 5PTS.

Las diez en punto.

Las dos y media.

Las siete en punto.

Las diez y media.

Las tres y media.

LIVEWORKSHEETS

VI. PARTE: CALCULA LOS CENTIMETROS QUE MIDE EL ASTRONAUTA Y SU NAVE. VALOR 20 PTS.

El astronauta mide 1 metro y 82 cm

☐ cm + ☐ cm = ☐ cm

Su nave mide 3 metros → ☐ cm

• Calcula los centímetros que miden en total.

- 1 m y 5 cm = ☐ cm + ☐ cm= ☐ cm
- 2 m y 40 cm = ☐ cm + ☐ cm= ☐ cm
- 4 m y 52 cm = ☐ cm + ☐ cm= ☐ cm
- 6 m y 12 cm = ☐ cm + ☐ cm= ☐ cm

¿Cuántos centímetros tiene cada serpentina?



☐ cm



☐ cm

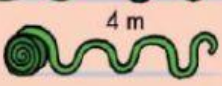

☐ cm

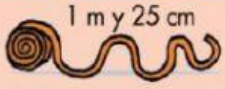

☐ cm

Suerte en sus exámenes.

Dios me los bendiga mis niños.

Felices fiestas 2021

LIVEWORKSHEETS