Exercicio de Verificação da Aprendizagem – Matemática

Aluno(a)_____

01) Observe, na imagem abaixo, as prateleiras do armário em que são guardados os utensílios da cozinha de um restaurante.

Qual é o utensílio que está na prateleira M3?

A)

B)

C)

D)

02) Observe a operação abaixo.

45 + 32 = 77

Para comprovar esse resultado, qual é a operação inversa que deve ser feita?

A) 43 + 35 = 78
B) 77 + 32 = 109
C) 45 – 32 = 13
D) 77 – 32 = 45

LIVEWORKSHEETS

03) **Observe abaixo o molde que Alice usou para fazer uma caixa para seu aniversário.**

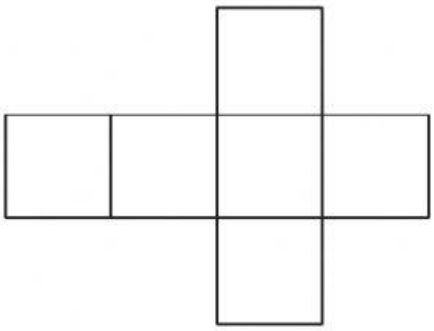

Como ficou essa caixa depois de montada?

A) 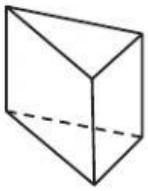

B) 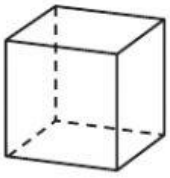

C) 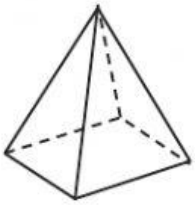

D) 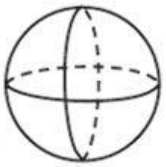

04) Diego comprou 14 figurinhas e dividiu igualmente entre seus 2 filhos. Quantas figurinhas cada filho recebeu?

A) 16
B) 12
C) 7
D) 6

LIVEWORKSHEETS

05) Gabriela reformou sua garagem e mediu a área desse espaço para colocar os pisos novos.A forma dessa garagem, colorida de cinza, está representada na malha quadriculada abaixo.
Cada lado dos quadradinhos dessa malha equivale a 1 metro.

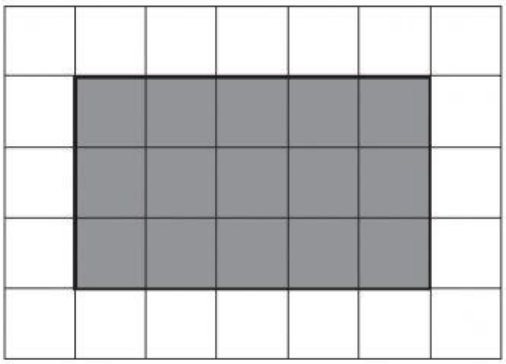

Para cobrir a área dessa garagem, quantos metros quadrados de piso Gabriela comprou?

A) 3
B) 5
C) 15
D) 20

06) Cíntia tem em sua cristaleira 45 louças e, em seu aniversário, ganhou de presente mais16 louças. **Com quantas louças Cíntia ficou no total?**

A) 29
B) 45
C) 51
D) 61

07) Observe abaixo Sofia e seus colegas lendo os resultados de uma pesquisa.

Quem está à esquerda de Sofia?

A) Caio.
B) Cora.
C) Jorge.
D) Vitor.

LIVEWORKSHEETS

08) Resolva a operação abaixo. Qual é o resultado dessa operação?

$$15 \times 3$$

A) 18
B) 35
C) 45
D) 60

09) Observe abaixo o gráfico que apresenta o resultado de uma pesquisa feita por um jornalsobre a preferência de algumas pessoas por alguns esportes olímpicos.

De acordo com esse gráfico, **qual foi o esporte com mais votos?**



A) Futebol.
B) Natação.
C) Skate.
D) Surfe.

10) Resolva a operação abaixo. **Qual é o resultado dessa operação?**

$$36 \div 6$$

A) 5
B) 6
C) 30
D) 42

11) Heitor precisa colocar um painel de avisos em sua empresa. A forma desse painel, coloridoem cinza, está representada na malha quadriculada abaixo.

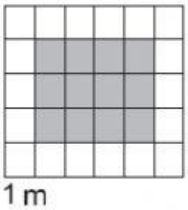

Nessa malha, o lado de cada quadradinho equivale a 1 metro.
Qual é a área, em metros quadrados, desse painel?

A) 1
B) 7
C) 12
D) 14

LIVEWORKSHEETS

12) O caderno de desenho de Felipe possui 437 folhas, ele já desenhou em 128 folhas. **Quantas folhas faltam para Felipe completar o seu caderno de desenhos?**

A) 309
B) 319
C) 437
D) 565

13) Observe no quadro abaixo a escrita por extenso de um número.

Três mil duzentos e trinta e cinco

Qual é esse número?

A) 235
B) 335
C) 3 205
D) 3 235

14) Observe, no desenho abaixo, as crianças em uma sala de aula.

De acordo com esse desenho, **quem está à direita de Miguel?**

A) Bela.
B) Lucas.
C) Luna.
D) Rafael.

15) Lorena e sua amiga Laura fazem doces para venda. Hoje, Lorena fez 45 doces e Laura fez 26. **Quantos doces Lorena fez a mais que Laura?**

A) 71
B) 45
C) 29
D) 19

LIVEWORKSHEETS

16) Observe os números no quadro abaixo.

125 – 590 – 354 – 215

Em qual desses números o algarismo 5 ocupa a ordem das dezenas?

A) 125
B) 215
C) 354
D) 590

17) Observe abaixo a figura desenhada, em cinza, na malha quadriculada.

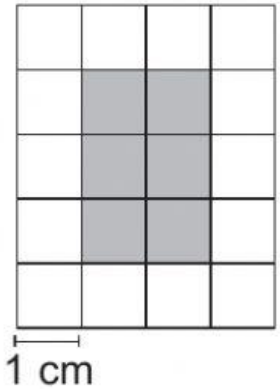

Nessa malha, o lado de cada quadradinho equivale a 1 centímetro.
Qual é a área, em centímetros quadrados, dessa figura desenhada?

A) 1
B) 5
C) 6
D) 10

18) Observe abaixo o gráfico que apresenta o resultado de uma pesquisa feita por uma escola sobre a preferência de cor da nova camisa de uniforme dos estudantes.

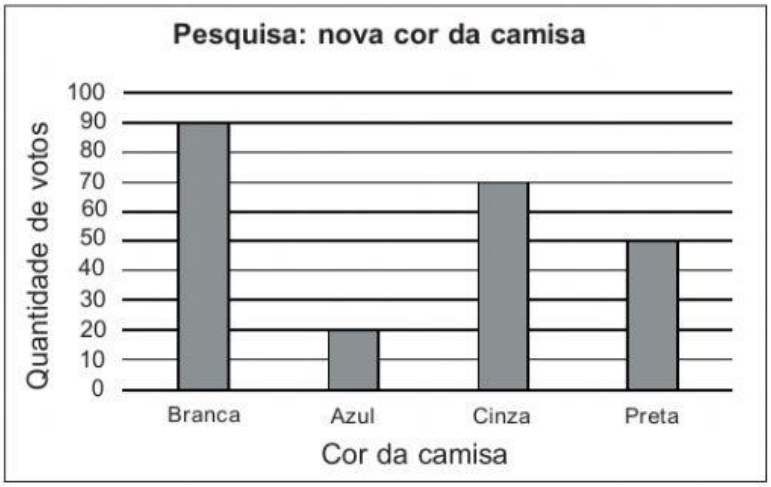

De acordo com esse gráfico, qual foi a cor mais escolhida pelos alunos?

A) Azul.
B) Branca.
C) Cinza.
D) Preta.

LIVEWORKSHEETS

19) Resolva a operação abaixo. **Qual é o resultado dessa operação?**

46 ÷ 2

A) 23
B) 24
C) 44
D) 48

20) Vanessa comprou 4 embalagens de pregadores de roupa com 12 pregadores em cada embalagem. **Quantos pregadores de roupa Vanessa comprou no total?**

A) 8
B) 12
C) 16
D) 48

21) Observe abaixo a representação de uma pirâmide.

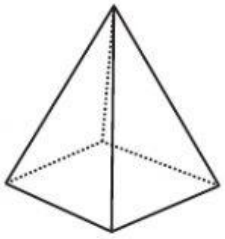

Uma possível planificação dessa pirâmide é

A)

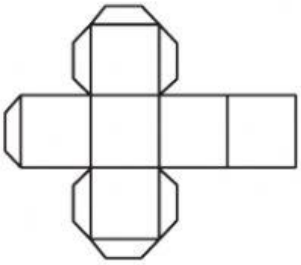

B)

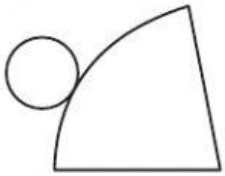

C)

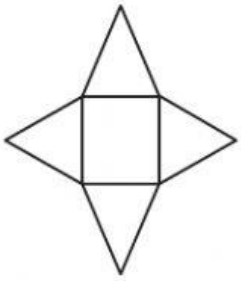

D)

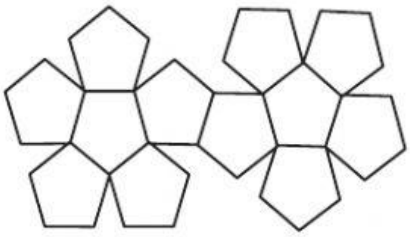

22) Observe a operação abaixo. Para confirmar esse resultado, qual é a **operação inversa que deve ser feita?**

A) 89 – 57 = 32
B) 89 + 57 = 146

89 – 57 = 32

C) 57 – 32 = 25
D) 32 + 57 = 89

LIVEWORKSHEETS