แบบฝึกทักษะที่ 6.6
เรื่อง ส่วนต่าง ๆ ของรูปสามเหลี่ยม(3)

ชื่อ.....เลขที่.....

คะแนนเต็ม	
คะแนนที่ได้	

คำชี้แจง เติมคำตอบ

1.

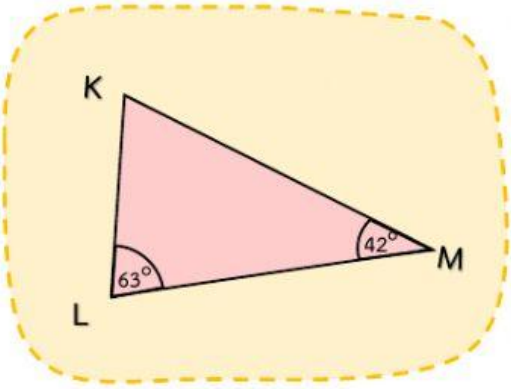

$L\hat{K}M$ มีขนาด .....องศา

2.

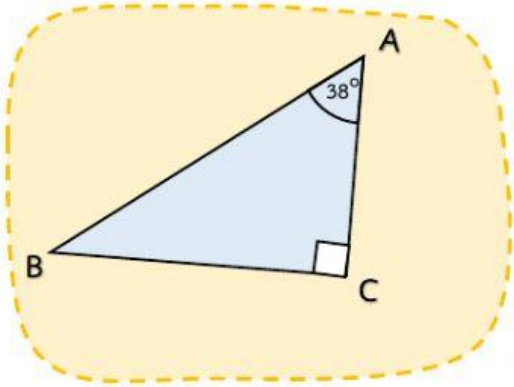

$A\hat{B}C$ มีขนาด .....องศา

3.

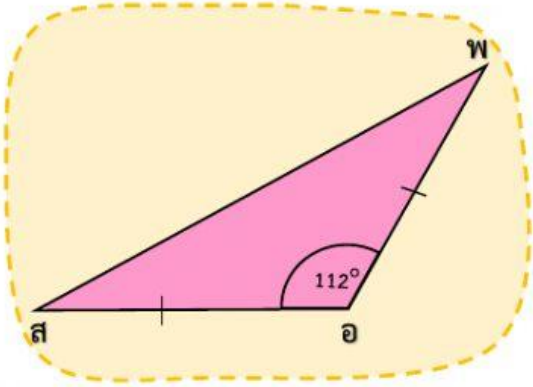

พ$\hat{ส}$อ มีขนาด .....องศา

ส$\hat{พ}$อ มีขนาด .....องศา

LIVEWORKSHEETS