Знайди відповідь задачі

1

Було

Стало на 5 більше
Скільки стало?

Було

Стало на 5 більше
Скільки стало?

Було

Стало на 2 менше
Скільки стало?

Було

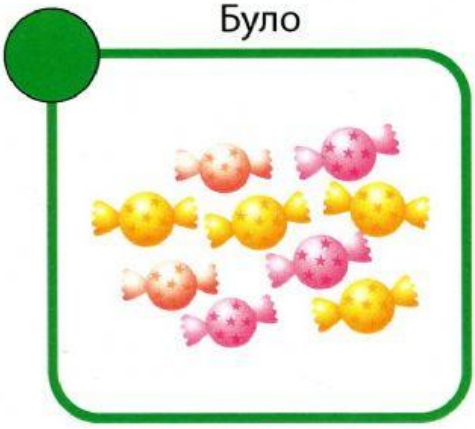

З'їли 8 цукерок
Скільки залишилось?

Було

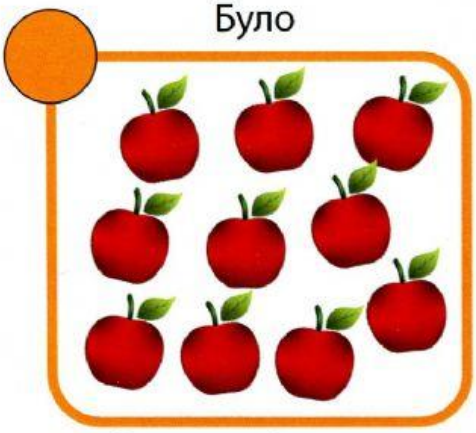

Стало на 2 менше
Скільки стало?

Було



Зірвали 3 огірки
Скільки стало?

1

9

7

5

2

8

LIVEWORKSHEETS