Họ tên: _____ Ngày: _____

12. Mô hình số có 3 chữ số

Viết số được biểu diễn bởi mô hình.

1.

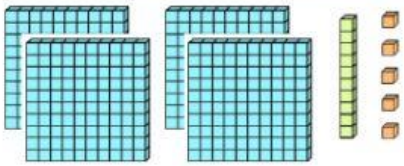

Trăm	Chục	Đơn vị
4	1	5

415

2.

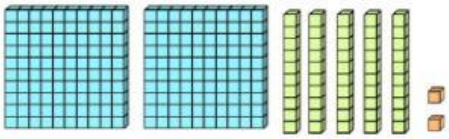

Trăm	Chục	Đơn vị

_____

3.

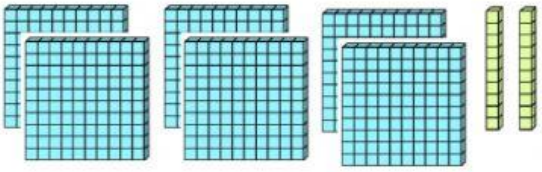

Trăm	Chục	Đơn vị

_____

4.

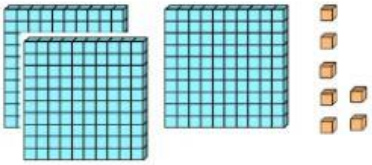

Trăm	Chục	Đơn vị

_____

5. *Nối mô hình với số tương ứng.*

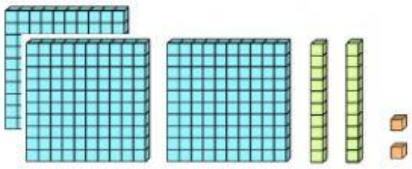

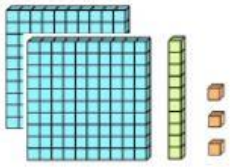

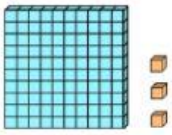

103 213 322

6. Minh biểu diễn số 203 bằng mô hình ở hình bên.

Nam nói rằng: Minh đã biểu diễn chưa chính xác.

Hỏi Nam nói đúng hay sai? Giải thích.

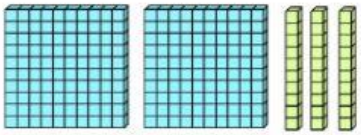

_____

_____

LIVEWORKSHEETS

7. *Điền số vào chỗ trống.*

Tớ là một số có 3 chữ số.

Tớ có 6 trăm và không có đơn vị.

Số chục của tớ bằng tổng của 3 và 6.

Tớ là số _____.

LIVEWORKSHEETS