PURA LÓGICA

1. Encuentra el número que completa la serie.



Solución .....

2. Enigma de cálculo.

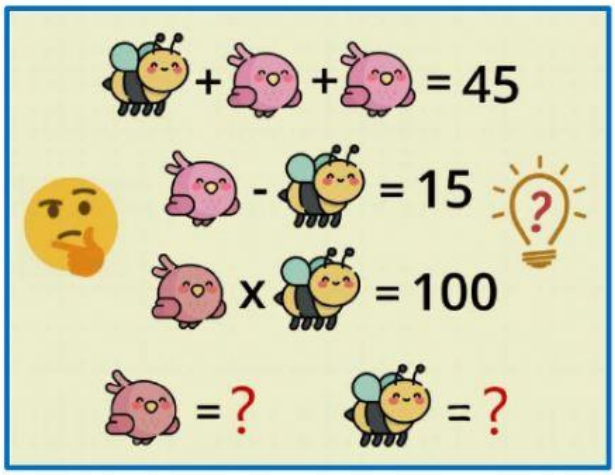

Retos seleccionados de www.elclubdelingenio.com

LIVEWORKSHEETS

3. ¿Cuál de las 4 opciones es la que completa la figura?

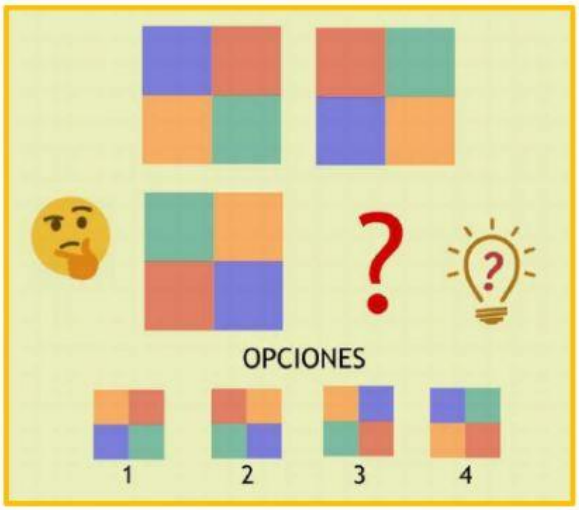

Solución .....

4. ¿Cuál es la figura que completa la serie?

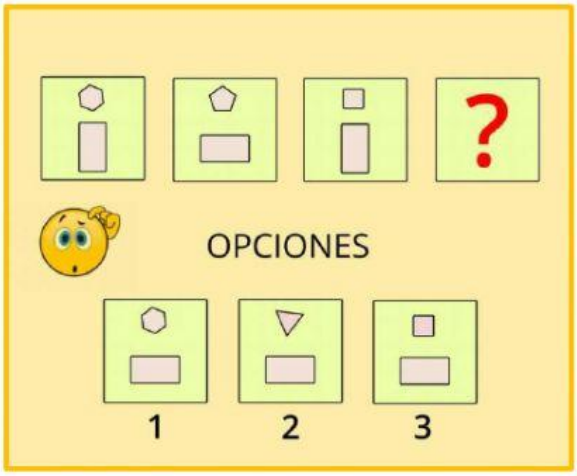

Solución .....

Retos seleccionados de www.elclubdelingenio.com

LIVEWORKSHEETS