ARQUEOLOGIA

La Mireia vol ser arqueòloga i aquest estiu ha fet un curs d'arqueologia per aprendre més coses sobre aquesta disciplina apassionant.

1. La Mireia observa unes inscripcions en llatí en què apareixen nombres romans. Ajuda-la a completar la taula.

I	V	X	L	C	D	M
1	5	10	50	100	500	1.000

nombre romà	sistema decimal	nombre en lletres
MCMVI	1906	mil nou-cents sis
DCLXXII		
MMLXIV		
XLVII		
CXIX		
MCCLXXIII		

2. Ordena de més gran a més petit els nombres de la taula anterior:

……..>……..>……..>……..>……..>……..

3. La Mireia ha de construir una maqueta de la piràmide de Keops per estudiar-la.

Quina d'aquestes figures desplegades farà servir? Clica sobre la figura correcta.

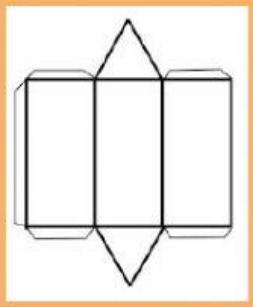
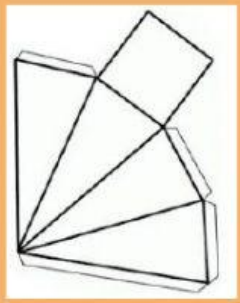
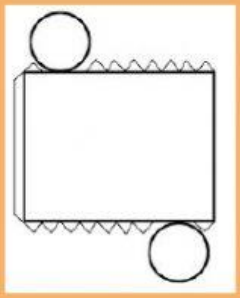

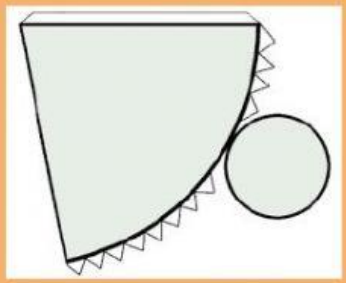
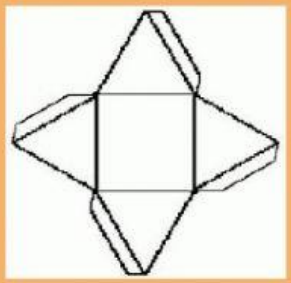
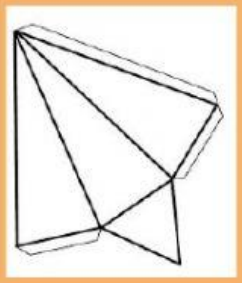
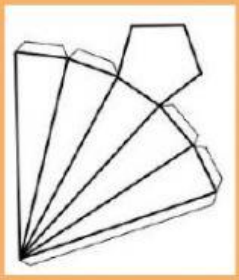

4. Aquesta és una de les cares de la piràmide de Keops:

4.1 La Mireia està convençuda que es tracta d'un triangle acutangle. Per què creus que ho pensa? Clica sobre l'opció correcta.

A) Perquè té un angle recte (de 90º)
B) Perquè té un angle obtús (de més de 90º)
C) Perquè tots els angles són aguts (de menys de 90º)

4.2 De quin tipus de triangle es tracta, si en considerem els costats?

A) És un triangle escalè, perquè tots els costats són diferents.
B) És un triangle isòsceles, perquè té 2 costats iguals i 1 de diferent.
C) És un triangle equilàter, perquè tots els costats són iguals.