שם: _____

חזרה למבחן

שאלה 1

פתרו את התרגילים הבאים במחברת בדרך הנוחה לכם וכתבו את הפתרון :

415,800 – 200,400 – 12,000 = _____

21 x 56 = _____

840 : 40 = _____

60 : (20 : 4) + 10 = _____

שאלה 2

לקישוט הכיכר המרכזית בעיר, רכשו 120 שתילי פרחים.

כל שתיל עלה 8 ש״ח.

בנוסף, נרכשה מערכת השקיה ב- 8,000 ש״ח.

לגנן שילמו 1,500 ש״ח.

מהן סך ההוצאות לקישוט הכיכר המרכזית?

תשובה : _____ ש״ח

LIVEWORKSHEETS

שאלה 3

סמנו את המכפלה הגדולה ביותר:

- ☐ $19 \times \frac{2}{3}$
- ☐ $19 \times \frac{3}{2}$
- ☐ $19 \times \frac{1}{2}$
- ☐ $19 \times \frac{3}{3}$

שאלה 4

ענת מכינה מצגת עם תמונות משפחתיות לכבוד יום ההולדת ה-80 של סבא שלה.

$\frac{4}{5}$ מהתמונות הן תמונות בשחור לבן ו- 20 תמונות הן תמונות צבעוניות.

כמה תמונות יש במצגת של ענת?

תשובה: ☐ תמונות.

שאלה 5

בחרו את **כל** המנסרות שבסרטוט:



LIVEWORKSHEETS

שאלה 6

בכל אחת מזוגות המספרים בחרו את התשובה הנכונה >,=,<

$\frac{12}{8}$ ☐ 1.5

0.25 ☐ $\frac{30}{60}$

1.6 ☐ $1\frac{6}{8}$

0.2 ☐ $\frac{12}{60}$

$\frac{12}{9}$ ☐ 0.9

$\frac{99}{10}$ ☐ 0.99

שאלה 7

לנדב 360 קלפי פוקימון. $\frac{1}{9}$ מהקלפים הפסיד לחבר משחק, ו - $\frac{1}{4}$ מהקלפים שנותרו לו נתן לאחיו הקטן.

כמה קלפים נשארו לנדב?

תשובה: ☐ קלפים.

LIVEWORKSHEETS

שאלה 8

מהו שטח המקבילית?

סמ״ר

מהו היקף המקבילית?

ס״מ



שאלה 9

מהו שטח המשולש?

סמ״ר

מהו היקף המשולש?

ס״מ

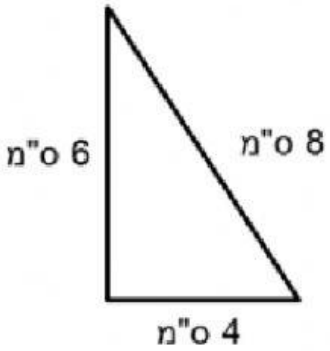

שאלה 10

פתרו את התרגילים הבאים הוציאו שלמים וצמצמו עד הסוף במידת האפשר :

$3\frac{1}{2} + 1\frac{9}{10} =$

$5\frac{3}{4} + 2\frac{5}{6} =$

$4\frac{2}{3} - 1\frac{1}{2} =$

$7\frac{1}{8} - 1\frac{9}{12} =$

$4\frac{1}{5} X 3\frac{4}{7} =$

LIVEWORKSHEETS