KINGDOM OF BAHRAIN
Ministry of Education
Al Busaiteen Intermediate Girls School

مملكة البحرين
وزارة التربية والتعليم
مدرسة البسيتين الإعدادية للبنات

نشاط علي المستقيمات والقواطع

اختاري رمز الإجابة الصحيحة مما يأتي

. صنّف العلاقة بين ∠٦، ∠٧ باعتبارهما زاويتين داخليتين متبادلتين، أو زاويتين خارجتين متبادلتين، أو زاويتين متناظرتين، أو زاويتين **متحالفتان** .

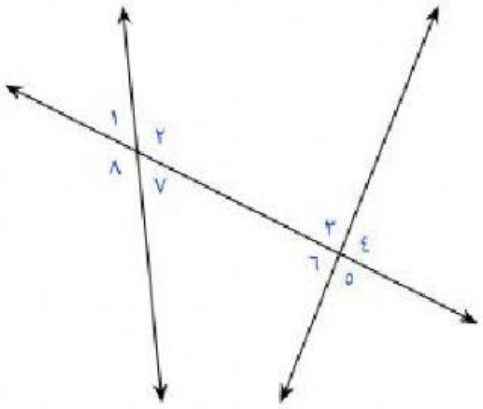

أ متبادلتان داخليا

ب متناظرتان

ج متحالفتان

د متبادلتان خارجيا

. صنّف العلاقة بين ∠١، ∠٥ باعتبارهما زاويتين داخليتين متبادلتين، أو زاويتين خارجتين متبادلتين، أو زاويتين متناظرتين، أو زاويتين **متحالفتان** .

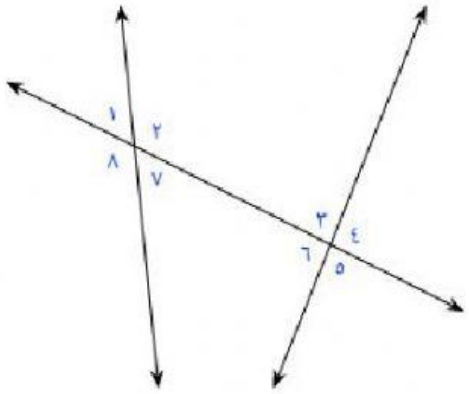

أ متبادلتان داخليا

ب متناظرتان

ج متحالفتان

د متبادلتان خارجيا

LIVEWORKSHEETS

. صنّف العلاقة بين ∠٢، ∠٤ باعتبارهما زاويتين داخليتين متبادلتين، أو زاويتين خارجتين متبادلتين، أو زاويتين متناظرتين، أو زاويتين متحالفتان .

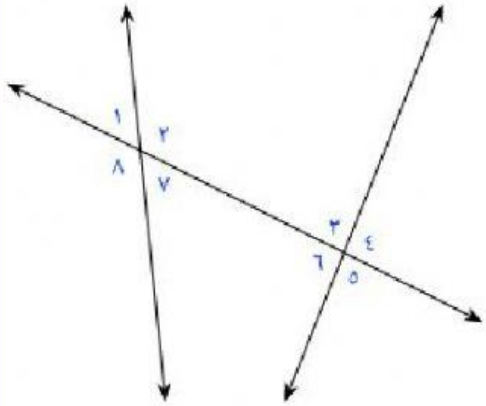

أ متبادلتان داخليا

ب متناظرتان

ج متحالفتان

د متبادلتان خارجيا

في الشكل المجاور :

∠ ١ ، ∠ ٤ هما زاويتان :

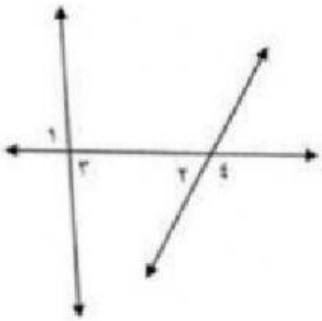

(أ) متبادلتان داخليًا (ب) متناظرتان

(ج) متبادلتان خارجيًا (د) متقابلتان بالرأس

LIVEWORKSHEETS