ÔN TẬP TOÁN GIỮA KÌ I

Câu 1: Số thích hợp điền vào chỗ trống 10cm = … dm là:

A. 1 B. 10 C. 100

Câu 2: Hình bên có 3 điểm thẳng hàng là:

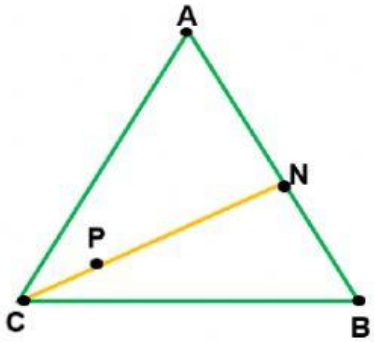

A. C, P, N B. A, N, B C. Cả 2 đều đúng

Câu 3: Quan sát hình vẽ, ước lượng số quả bên dưới:

A. khoảng 20 quả B. khoảng 30 quả C. khoảng 40 quả

Câu 4: Nối:

LIVEWORKSHEETS

Câu 5: **Đây là hình gì?**

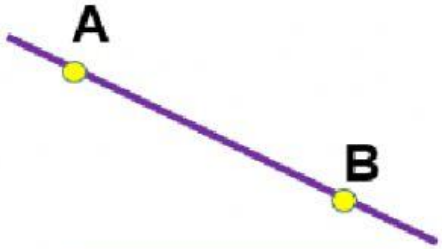

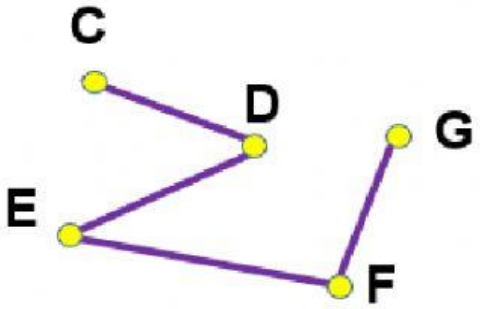

Câu 6: **Điền đơn vị đo phù hợp vào ô trống:**

Chiếc ghế cao khoảng 9 ……

Chiếc bàn cao khoảng 70 ……

Câu 7: **Viết phép tính thích hợp:**

Trong tổ có **14** con ong,
sau đó có **5** con ong bay đi.
Hỏi trong tổ còn lại bao nhiêu con ong?

Trả lời: Trong tổ còn lại …… con ong.

LIVEWORKSHEETS