EVALUASI BAB 2

INTERAKSI KERUANGAN DESA DAN KOTA

1. Berikut merupakan struktur keruangan kota menurut teori sektoral. Tentukan zona dari setiap nomornya

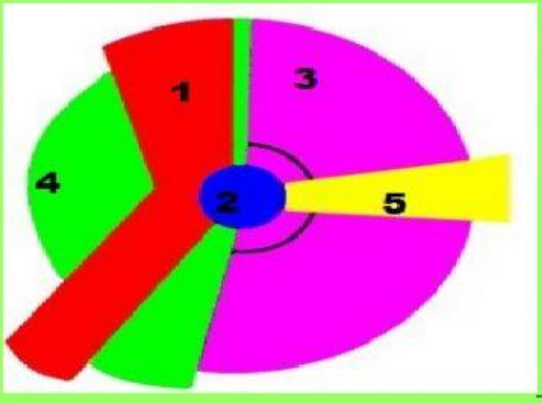

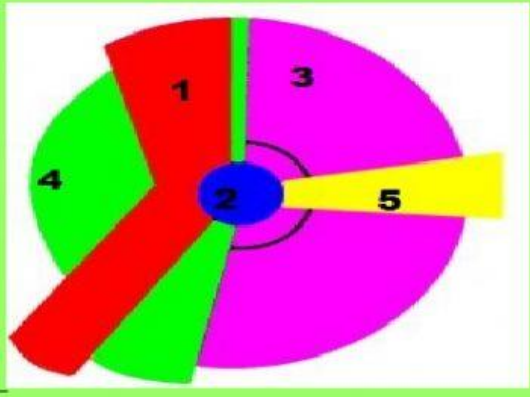

Zona ruang kota pada no 3 adalah ....

Zona ruang kota pada no 5 adalah ....

2. Berikut merupakan gambar pola permukinan desa. Hubungkan gambar dengan nama pola permukimannya

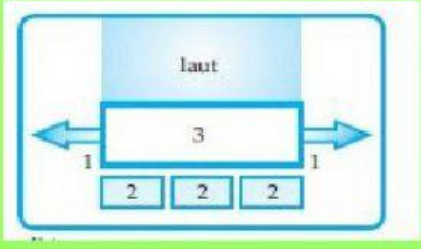

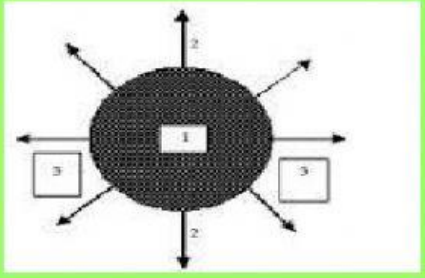

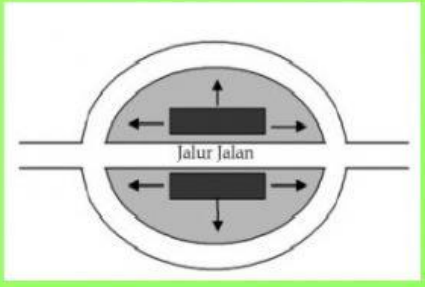

Memanjang sepanjang jalan

Terpusat

Memanjang sepanjang pantai

LIVEWORKSHEETS

3. Hubungkan pernyataan berikut dengan jenis desanya berdasarkan tingkat pekembangnnya

DESA SWASEMBADA	DESA YANG KEADAANYA SUDAH MULAI MELAKUKAN INTERAKSI DENGAN DESA LAIN
DESA SWADAYA	DESA YANG SUDAH MAMPU DAN SANGAT MAJU, SERTA MODERN
DESA SWAKARYA	DESA YANG BERSIFAT MASIH TERTUTUP DAN HANYA MEMENUHI KEBUTUHAN DESANYA SAJA

4. Hubungkanlah gambar teori struktur ruang kota berikut dengan nama teorinya

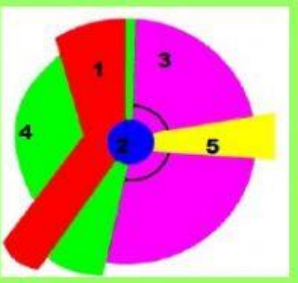

TEORI INTI GANDA YANG DIKEMUKAKAN OLEH HARRIS DAN ULLMAN

TEORI KONSENTRIS YANG DIKEMUKAKAN OLEH ERNEST W. BURGESS

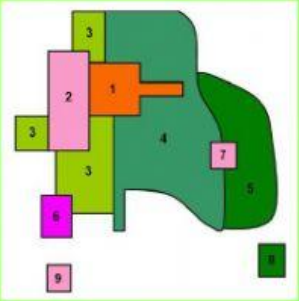

TEORI SEKTORAL YANG DIKEMUKAKAN OLEH HOMER HOYT

LIVEWORKSHEETS

5. Hubungkan antara tahap perkembangan kota berikut dengan urutannya

TAHAP 1	TRYANOPOLIS
TAHAP 2	MEGAPOLIS
TAHAP 3	NEKROPOLIS
TAHAP 4	EOPOLIS
TAHAP 5	METROPOLIS
TAHAP 6	POLIS

6. Hubungkan pernyataan berikut ini dengan jenis desa berdasarka kegiatan pokoknya

DESA WISATA	DESA DENGAN KEGIATAN POKOKNYA MELAKUKAN PENGOLAHAN DAN DISTRIBUSI HASIL PERTANIAN
DESA AGROINDUSTRI	DESA DENGAN KEGIATAN POKOKNYA MELAKUKAN PENGOLAHAN BAHAN HASIL PERTANIAN MENJADI BARANG JADI ATAU SETENGAH JADI
DESA INDUSTRI NON PERTANIAN	DESA DENGAN KEGIATAN POKOKNYA MELAKUKAN KEGIATAN ISNDUSTRI SEPERTI INDUSTRI KERTAS DAN BAHAN GALIAN
DESA AGROBISNIS	DESA YANG MEMILIKI OBJEK WISATA SEBAGAI KOMODITAS EKONOMI

LIVEWORKSHEETS