SEKOLAH KEBANGSAAN KAMPUNG JEPAK,

BINTULU SARAWAK

PENTAKSIRAN SETARA STANDARD 2021

TAHUN 4

MATEMATIK
KERTAS 1
1 JAM

(60 Markah)
Jawab ***semua*** soalan

Isi jawapan di dalam kotak yang disediakan.

1. 'Lapan puluh dua ribu empat puluh tiga' dalam angka ialah
   A. 2 843
   B. 28 034
   C. 82 043
   D. 82 403

2. Pilih nombor yang lebih kecil

   A 59 600

   B 59 599

   C 58 900

   D 58 999

3. Bundarkan 83 609 kepada puluh ribu terdekat.

   A 84 000

   B 83 000

   C 82 000

   D 85 000

LIVEWORKSHEETS

4. Tukarkan $\frac{17}{4}$ kepada nombor bercampur

A. $4\frac{1}{4}$

B. $2\frac{1}{4}$

C. $3\frac{1}{2}$

D. $1\frac{1}{4}$

5. Namakan mata wang bagi negara berikut.
   A. Dollar
   B. Taka
   C. Paun Sterling
   D. Ruble

6. Cerakinkan 61 509 mengikut nilai digit
   A. 61 000 + 50 + 9
   B. 61 000 + 500 + 9
   C. 60 000 + 1 000 + 50 + 9
   D. 60 000 + 1 000 + 500 + 9

7. Atif mempunyai 8 keping wang Rm50, 7 keping wang Rm5 dan 9 keping wang Rm0.20. Hitung jumlah wang Atif.

   A. RM768
   B. RM453
   C. RM436.80
   D. RM435.80

LIVEWORKSHEETS

8. Antara berikut,yang manakah benar ?
   A. 164 × 10 = 6 140
   B. 109 × 10 = 10 900
   C. 100 × 781 = 71 800
   D. 1 000 × 69 = 69 000

9. 41 310 ÷ 10 =
   A. 4 131
   B. 413
   C. 3 131
   D. 3 130

10. Apabila 28.19 dibahagi dengan 5,digit apakah berada pada nilai tempat persepuluh dalam hasil bahagi itu ?
   A. 3
   B. 5
   C. 6
   D. 8

RM 369

RM 215.50

RM 102.90

11. Puan Ain ada RM 700. Berapakah baki yang tinggal selepas dia membeli tiga barang di atas?
   A. Rm 13.60
   B. Rm 10.60
   C. Rm 12.60
   D. RM 9.00

LIVEWORKSHEETS

12. $7\frac{5}{6} + 3 - 2\frac{1}{4} =$

A. $8\frac{6}{12}$

B. $6\frac{3}{6}$

C. $8\frac{1}{2}$

D. $8\frac{7}{12}$

13. Rajah di bawah menunjukkan waktu Kyra selesai mengulang kaji pelajaran.

Nyatakan waktu itu dalam system 24 jam.

A. Jam 0945
B. Jam 2145
C. Jam 1045
D. Jam 2545

14. 750 mm = _____ cm

A. 75
B. 7.5
C. 0.75
D. 0.875

15. 17 km 10 m =

A. 1 710 m
B. 17 001 m
C. 17 010 m
D. 17 100 m

LIVEWORKSHEETS

16. 18 km – 12 km 30 m – 1 km 456 m =

A. 4 km 512 m
B. 3 km 514 m
C. 4 km 514 m
D. 2 km 360 m

17. 8 kg 360 g + 1 480 g – 2 kg 40 g =

A. 11 kg 880 g
B. 9 kg 600 g
C. 7 kg 800 g
D. 7 kg 440 g

18. Rajah di bawah menunjukkan jisim beberapa biji bola besi yang sama saiz di atas penimbang.

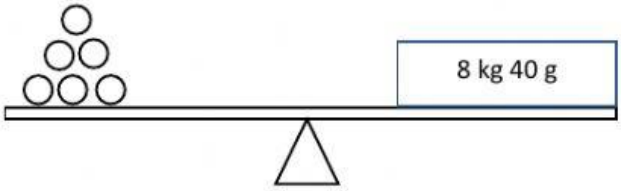

Hitung jisim, dalam *g* bagi 5 biji bola besi itu.

A. 700 g
B. 4 200 g
C. 6 700 g
D. 7 000 g

LIVEWORKSHEETS

19. Antara berikut, yang manakah sudut cakah?

A.

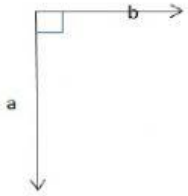

B.

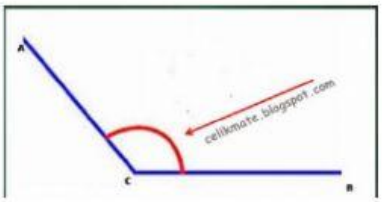

C.

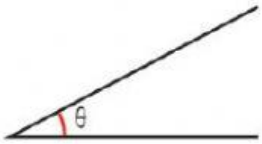

D.

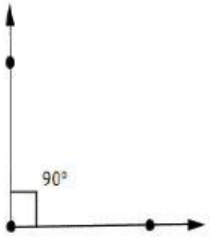

20. Antara berikut,yang manakah garis serenjang?

A

B

C



D

LIVEWORKSHEETS

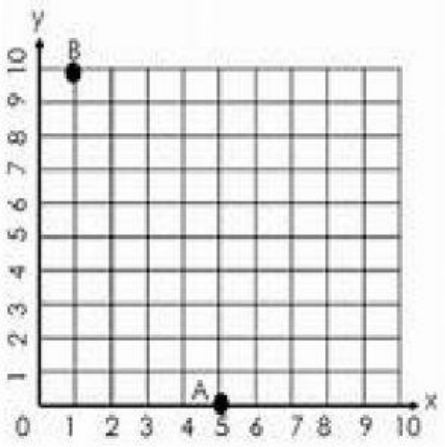

21. Titik A berada di paksi
    A. -y
    B. (5,0)
    C. -x
    D. (0,5)

22. Titik *M* terletak pada paksi-y dan berada 6 unit ke atas dari asalan. Cari koordinat titik *M* .
    A. (0,0)
    B. (0,6)
    C. (6,0)
    D. (6,6)

23. Hitung hasil darab bagi 7 dengan 2 minggu 5 hari. Beri jawapan dalam hari.
    A. 133 hari
    B. 139 hari
    C. 152 hari
    D. 123 hari

24. Hitung perimeter, dalam cm, sebuah pentagon sekata yang panjang setiap sisinya ialah 13 cm.
    A. 52 cm
    B. 65 cm
    C. 78 cm
    D. 91 cm

LIVEWORKSHEETS

25.Jadual di bawah menunjukkan jus yang dibeli oleh Puan Nur.

Kuantiti	Isi padu jus dalam setiap botol
4 botol	1 ℓ 250 mℓ

Dia menuangkan jus itu sama banyak ke dalam 8 botol kecil. Berapakah isi padu, dalam mℓ, jus di dalam setiap botol kecil?.

A. 625 mℓ
B. 725 mℓ
C. 745 mℓ
D. 750 mℓ

26.Piktograf di bawah menunjukkan keputusan kajian tentang bahan bacaan yang paling digemari oleh murid di sebuah sekolah.

Surat khabar	◯ ◯
Majalah	
Buku cerita	
Ensiklopedia	◯ ◯ ◯ ◯ ◯ ◯

◯ Mewakili 40 orang murid

Sekolah itu mempunyai 640 orang murid. Bilangan murid yang menggemari majalah dan buku cerita adalah sama. Berapakah bilangan murid yang menggemari buku cerita?

A. 4
B. 8
C. 160
D. 316

LIVEWORKSHEETS

27. Nisbah bilangan kanak-kanak kepada bilangan dewasa di sebuah dewan ialah 1 : 100. Jika bilangan dewasa ialah 2400 orang,cari jumlah bilangan kanak-kanak dan dewasa di dewan itu.

A. 2 389
B. 2 426
C. 2 424
D. 2 256

28. Rajah di bawah menunjukkan gabungan bentuk sebuah segi empat tepat PQRS dan sebuah segi empat sama STUV.

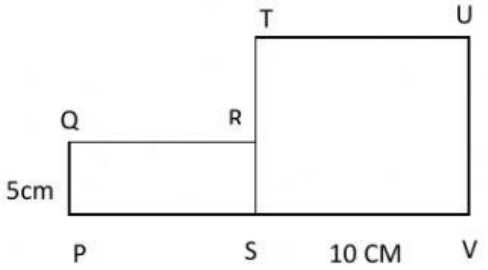

Panjang PS adalah $\frac{4}{5}$ daripada Panjang ST. Hitung luas,dalam cm persegi gabunngan bentuk itu.

A. 120
B. 140
C. 200
D. 400

29. Encik Darus bertolak pulang ke kampung pada pukul 9.40 pagi. Encik Darus tiba di kampungnya pada pukul 2.10 petang. Hitung tempoh masa dalam jam dan minit ,perjalanan Encik Darus.

A. 3 jam 30 minit
B. 4 jam 20 minit
C. 5 jam 10 minit
D. 4 jam 30 minit

30. Terdapat 100 biji botol minuman jus oren dan jus strawberi di kantin sekolah. Sekiranya 34 daripadanya berisi jus oren,nyatakan peratus bagi minuman yang berisi jus strawberi.

A. 66%
B. 54%
C. 67%
D. 72%

LIVEWORKSHEETS