KIỂM TRA ĐỊNH KÌ HỌC KÌ 1

Môn: TOÁN

Ngày kiểm tra: / / 20

Thời gian: 45 phút

Tên :

Phần I: Phần trắc nghiệm (6 điểm):

Câu 1: **(M1 - 1 đ)**

a) Số "***Bốn mươi bảy đơn vị bốn phần mười và tám phần trăm*** " viết như sau:

A. 47,480 B. 47,48 C. 47,0480 D. 47,048

b) Phân số thập phân 834/10 được viết dưới dạng số thập phân là:

A. 0,0834 B. 0,834 C. 8,34 D. 83,4

Câu 2: (M1 - 1 đ)

a)- Chuyển đổi số thập phân 3, 03 thành hỗn số là:

A. $3\frac{3}{10}$ B. $3\frac{3}{100}$ C. $3\frac{3}{1000}$ D. $3\frac{30}{100}$

b)-Chuyển đổi đơn vị đo độ dài 1 m 53 cm thành hỗn số.

A. $1\frac{53}{10}$ m B. $1\frac{53}{100}$ m C. $1\frac{53}{1000}$ m D. $1\frac{530}{1000}$ m

Câu 3: **(M2 - 1 đ)**

a)-Mua 2 quyển vở hết 24000 đồng. Vậy mua 10 quyển vở như thế hết số tiền là:

A. 60 000 đ B. 600 000 đ C. 240 000 đ D. 120 000 đ

b) Lớp học có 25 học sinh, trong đó có 13 nữ. Số học sinh nữ chiếm bao nhiêu phần trăm của lớp học đó?

A. 13 % B. 25% C. 52 % D. 25 %

Câu 4: **(M2 - 1 đ)**

a)- Phép tính $2\frac{2}{3} \times 5\frac{1}{4}$ =?

A. 11 B. 12 C. 13 D. 14

b)-Tìm 15 % của 320 kg là

A. 320 B. 15 C. 48 D. 32

LIVEWORKSHEETS

Câu 5: **(M2 - 1 đ)**

a) Vẽ chiều cao cho tam giác ABC sau. Biết cạnh đáy BC 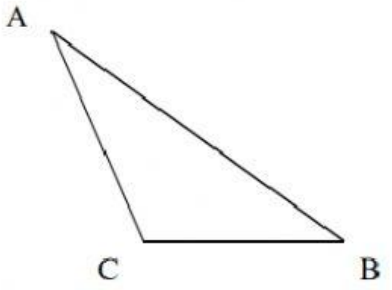 	b) Cho hình chữ nhật ABCD có chiều dài 6 cm, chiều rộng 4 cm (như hình vẽ). Diện tích hình tam giác MDC bên trong hình chữ nhật là bao nhiêu? 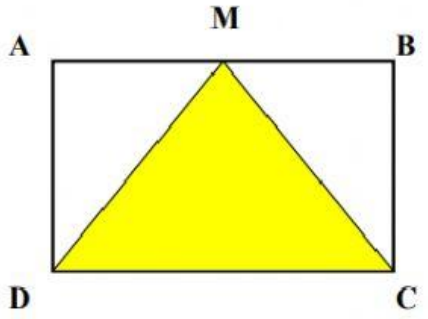 Diện tích hình tam giác MDC là:

Câu 6: **(M2 - 1 đ)** Nối vế A với vế B cho phù hợp.

A	$2m^2\ 5dm^2$	$18\ dm^2$	12 tấn 6 kg	500 kg

B	$\frac{5}{10}$ tấn	$2\frac{5}{100}m^2$	$\frac{18}{100}m^2$	$12\ \frac{5}{1000}$ tấn

II.Tự Luận (4 điểm)

Câu 7: Tính biểu thức **(M 3 - 1 đ)**	
a) (128,4 - 73,2): 2,4 - 18,32	b) 8,64: (1,46 + 3,34) + 6,32

LIVEWORKSHEETS

Câu 8: Tìm x (M 3 - 1 đ)	
25: x = 16: 10	210: x = 14,92 - 6,52

Câu 9: (M 3 - 1 đ)

Một hình chữ nhật ABCD có chiều dài 12, 15 m, chiều rộng bằng $\frac{2}{5}$ chiều dài. . Người ta cắt một phần đất AMD có dạng hình tam giác (như hình vẽ). Biết DM = $\frac{1}{3}$CD

Tính:

a) Diện tích phần đất đã cắt?

b) Diện tích đất còn lại?

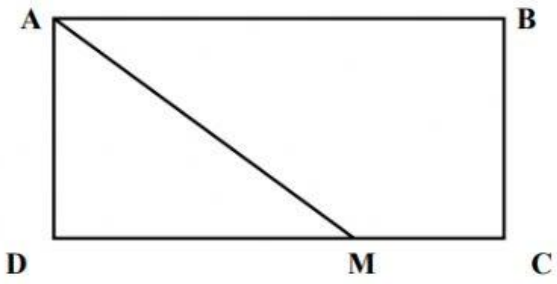

Câu 10: (M 4 - 1 đ)

Cho một số có hai chữ số, khi ta viết thêm vào bên trái số đó một chữ số 1 thì tổng của số mới và số đã cho là 168. Tìm số đã cho

LIVEWORKSHEETS