NAMA LENGKAP : ……
ABSENSI : ……

PENILAIAN AKHIR TEMA 4 SUBTEMA 1 DAN 2

Kerjakan soal-soal berikut ini !

Muatan pelajaran PKN

KD 3.4 Memahami makna bersatu dalam keberagaman di rumah dan sekolah.

1. Sebutkan beberapa manfaat persatuan keluarga dalam menjaga kebersihan rumah!

Jawab:…….. …
…….
…….
…….

2. Dengan menjaga kebersihan Bersama di sekolah, para siswa telah menunjukkan sikap…

Jawab:…….....
…….
…….
…….

3. Sikap persatuan dapat kita wujudkan dengan cara..

Jawab:…….....
…….
…….
…….

4. Sebutkan beberapa kebersamaan di rumah..

Jawab:……...
…….
…….
…….

KD 3.4 Memahami makna bersatu dalam keberagaman di rumah dan sekolah.

5. Bergotong-royong mencerminkan sikap hidup dalam

Jawab:……...
…….
…….
…….

6. Hidup dalam kebersamaan merupakan wujud dari…

Jawab:……...
…….
…….
…….

7. Sebutkan akibat tidak ada persatuan di sekolah!

Jawab:……...
…….
…….
…….

8. Sikap apa saja yang harus dimiliki agar dapat terwujud kebersamaan di kelas?

Jawab:……...
…….
…….
…….

LIVEWORKSHEETS

Muatan Bahasa Indonesia

3.4 Menentukan kosakata dan konsep tentang lingkungan sehat dan lingkungan tidak sehat di lingkungan sekitar serta cara menjaga kesehatan lingkungan dalam Bahasa Indonesia atau bahasa daerah melalui teks tulis, lisan, dan visual.

9. Mengapa kita harus hidup bersih dan sehat?

Jawab:……...

……

……

……

10. Amati gambar di bawah dengan teliti!

Informasi apa saja yang dapat kamu berikan dengan melihat gambar tersebut?

Jawab:…….....

……

……

……

11. Bacalah teks di bawah ini!

Sampah-sampah yang berserakan harus dibuang ke tempatnya. Selokan harus dibersihkan agar air mengalir dengan lancar. Rumput yang mengganggu tanaman juga harus dibersihkan. Dengan demikian, pekarangan rumah akan bersih, asri, dan indah. Keluarga pun akan sehat.

Berdasarkan teks diatas agar rumah terlihat bersih, asri dan indah kita harus…

Jawab:……...

……

……

……

12. Bagaimana jika rumah tidak dibersihkan dan tidak terawat dengan baik?

Jawab:……...

……

……

……

3.4 Menentukan kosakata dan konsep tentang lingkungan sehat dan lingkungan tidak sehat di lingkungan sekitar serta cara menjaga kesehatan lingkungan dalam Bahasa Indonesia atau bahasa daerah melalui teks tulis, lisan, dan visual.

13. Apa yang dilakukan Dayu dan teman-teman?

LIVEWORKSHEETS

Jawab:……...
……
……
……

14. Bagaimana ciri-ciri kelas yang tidak bersih?

Jawab:……...
……
……
……

15. Debu dan sampah mengandung .....

Jawab:……...
……
……
……

16. Bagaimana cara menjaga kebersihan lingkungan sekolah?

Jawab:……...
……
……
……

Muatan pelajaran Matematika

3.9 Menjelaskan bangun datar dan bangun ruang berdasarkan ciri-cirinya

17. Ada berapa ruas garis pada bangun datar dibawah ini?

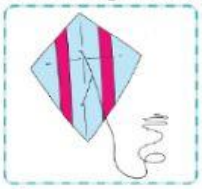

Jawab:……...
……
……
……

18. Perhatikan gambar berikut dengan teliti!

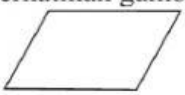

Jajargenjang

Berapa banyak sisi, sudut, dan titik sudut yang dimiliki jajargenjang?

Jawab:……...
……
……
……

LIVEWORKSHEETS

19. Hitunglah banyak sisi, sudut dan titik sudut pada gambar di bawah ini!

Jawab:……...
……
……
……

20. Hitunglah banyak sisi, sudut, dan titik sudut pada bangun-bangun datar berikut!

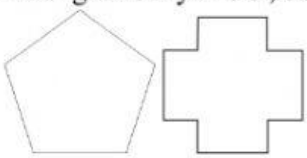

Jawab:……...
……
……
……

3.10 Menjelaskan pola barisan bangun datar dan bangun ruang menggunakan gambar atau benda konkret

21. Tentukan bangun datar dengan 3 sisi, 3 sudut, dan 3 titik sudutnya!

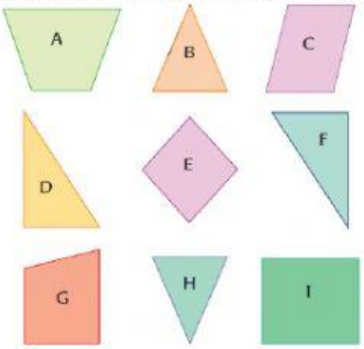

Jawab:……...
……
……
……

22. Amati gambar di bawah dengan teliti!

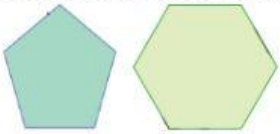

Berapa banyak sisi, sudut, dan titik sudut bangun datar di atas?

Jawab:……...
……
……
……

LIVEWORKSHEETS

23. Permukaan atas rebana berupa bangun datar .....

Jawab:……...

……

……

……

24. Tentukan bentuk bangun datar selanjutnya sesuai dengan pola-pola berikut!

Jawab:……...

……

……

……

Muatan Pelajaran SBDP

3.2 Mengenal elemen musik melalui lagu.

25. Satuan hitungan nada yaitu .....

Jawab:……...

……

……

……

26. Birama 2/4 berarti setiap birama ada ..... ketukan.

Jawab:……...

……

……

……

27. Siapakah pencipta lagu membuang sampah..

Jawab:……...

……

……

……

28. Sebutkan dua tekanan didalam menyanyikan lagu..

Jawab:……...

……

……

……

3.3 Mengenal gerak anggota tubuh melalui tari.

29. Gerakan menyapu dapat membentuk…

Jawab:……...

……

……

……

30. Untuk mengembangkan gerakan tari kita dapat menggunakan..

Jawab:……...

LIVEWORKSHEETS

……
……
……

31. Sebutkan gerakan anggota tubuh yang terdapat pada tarian menyapu lantai..
Jawab:……...
……
……
……

32. Anggota tubuh yang paling sering di gerakan dio dalah tarian kupu- kupu adalah …
Jawab:……...
……
……
……

LIVEWORKSHEETS