NUEVO MUNDO
¡Donde estudian los mejores!

Valor del mes: *Solidaridad*

Martes 23 de noviembre, 2021

CUERPOS REDONDOS

1.- Arrastra y coloca cada nombre en su lugar correspondiente.

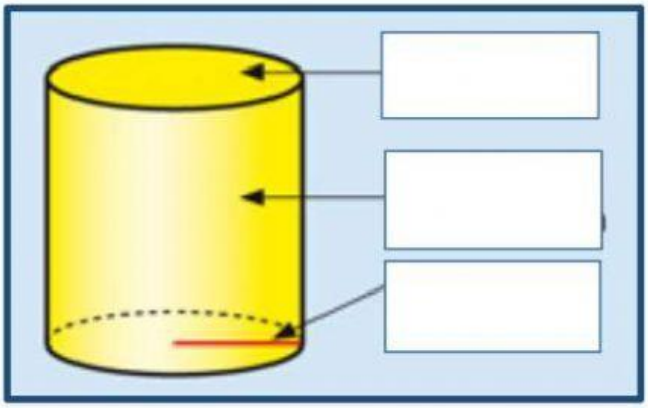

Radio

Superficie lateral curva

Base

¿Cómo se llama?

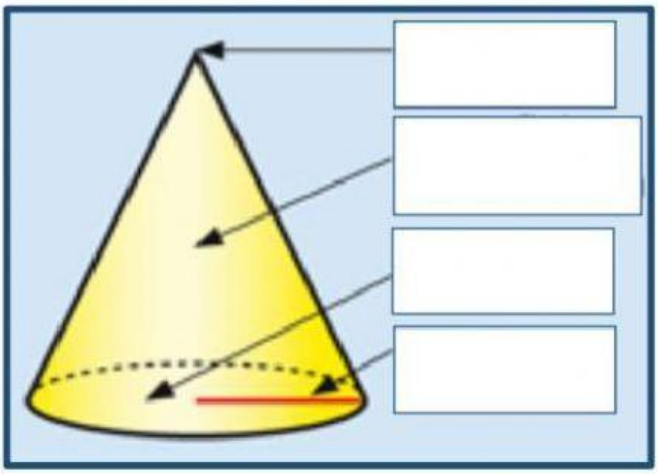

Radio

Superficie lateral curva

Base

Vértice

¿Cómo se llama?

LIVEWORKSHEETS

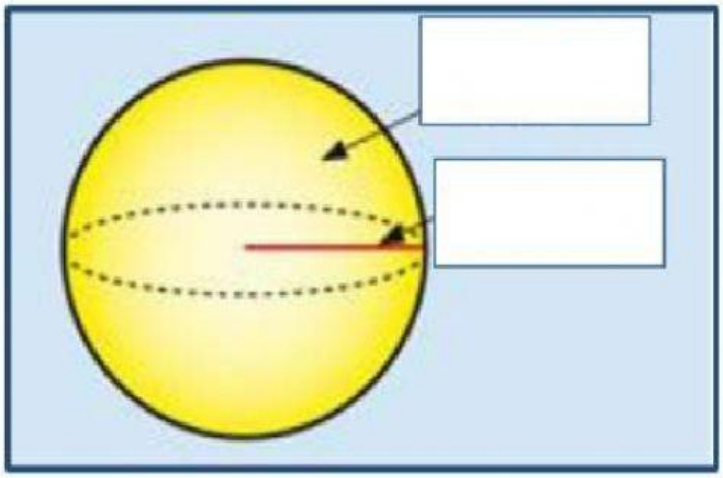

Superficie lateral curva

Radio

¿Cómo se llama?

ESCRIBE EL RESULTADO CON DOS CIFRAS DECIMALES, SIN OLVIDAR LAS UNIDADES. EJEMPLO: 3,45 METROS CÚBICOS.

LA ALTURA DE UN CILINDRO RECTO MIDE 6 M, Y SU RADIO, 3 M. CALCULA:

ÁREA LATERAL:

ÁREA TOTAL:

VOLUMEN:

EL RADIO DE UNA ESFERA MIDE 2 CM. CALCULA:

ÁREA:

VOLUMEN:

LIVEWORKSHEETS

LA ALTURA DE UN CONO RECTO MIDE 3 CM, Y SU RADIO, 4 CM.
CALCULA:

ÁREA LATERAL:

ÁREA TOTAL:

VOLUMEN:

Indica si son Cilindros, conos, esfera o ambos.

LIVEWORKSHEETS