KINGDOM OF BAHRAIN
MINISTRY OF EDUCATION
ALFARABI PRIMARY BOYS SCHOOL

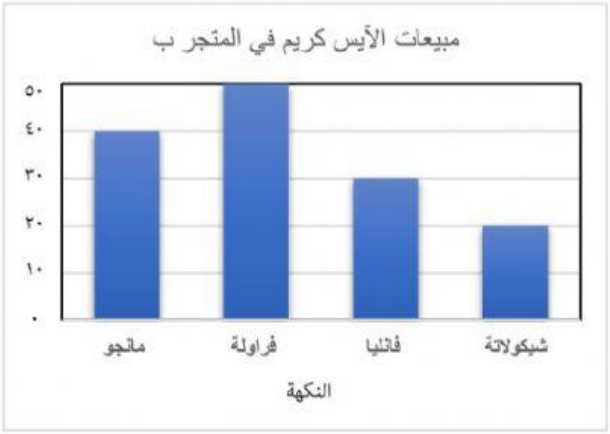
مملكة البحرين
وزارة التربية والتعليم
مدرسة الفارابي الابتدائية للبنين

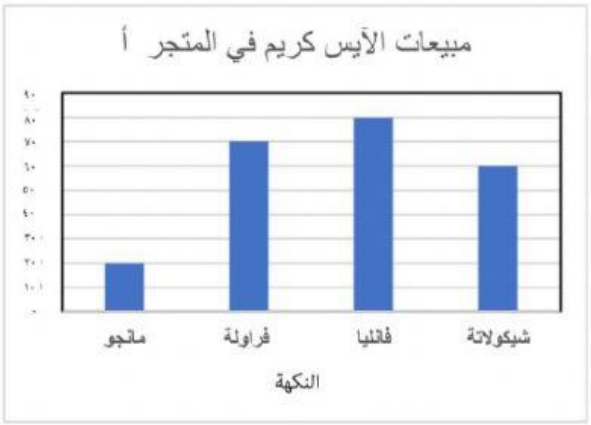
اسم الطالب ..... الصف .....

اعداد :أ. محمود سالم

الفصل③ تنظيم البيانات وعرضها وتفسيرها

١٧) تقارن لطيفة بين عدد مبيعات الآيس كريم في متجرين مختلفين حسب النكهة.





تظن لطيفة أن عدد مبيعات آيس كريم الفراولة في المتجر ب أكبر من عدد مبيعات آيس كريم الفراولة في المتجر أ.

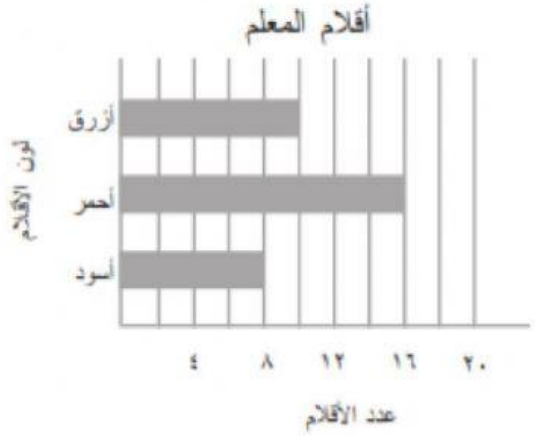
اشرح لماذا لطيفة ليست على صواب؟

---

١٨) أ) يشير الرسم البياني إلى عدد الأقلام الزرقاء والحمراء والسوداء التي على مكتب المعلم. كم يزيد عدد الأقلام الحمراء عن عدد الأقلام السوداء؟

ⓐ أكثر بـــ ٢ ⓑ أكثر بـــ ٤

ⓒ أكثر بـــ ٦ ⓓ أكثر بـــ ٨



ب) ظلل دائرة واحدة لكل عبارة

	نعم	لا
١ -أكثر لون على مكتب المعلم هو اللون الأحمر	○	○
٢- الأقلام السوداء هي ثاني أكثر الأقلام من حيث العدد	○	○
٣- عدد الأقلام الحمراء مثلي عدد الأقلام الزرقاء	○	○

ج) احسب العدد الكلي للأقلام؟

الإجابة: .....

LIVEWORKSHEETS