I. 填写一个星期里每天的名称。（4%）

1.

星期日	→		→		→	
星期四	→		→	星期六		

J. 圈出正确的时段。（6%）

K. 填写正确的答案。（3%）

1.		铅笔大约有 _____ 枚回形针长。
2.		椅子的高度大约是 _____ 个虎口。
3.		盘子大约有 _____ 把汤匙长。

LIVEWORKSHEETS

L. 把正确的答案圈起来。（4%）

1.		a）羽球拍比乒乓拍 （ 长 / 短 ）。
2.		b）大象比小鸟 （ 轻 / 重 ）。
3.		c）爸爸比孩子 （ 高 / 矮 ）。
4.		d）字典比笔记本 （ 厚 / 薄 ）。

M. 看图填一填。（6%）

圆锥体	正方体	正方棱锥体
球体	圆柱体	长方体

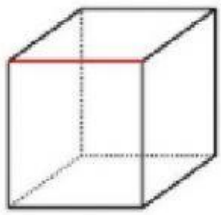	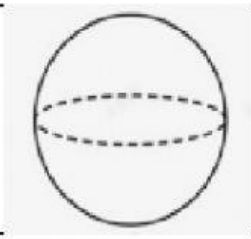	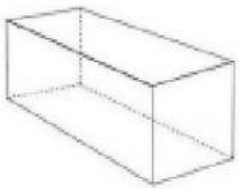
		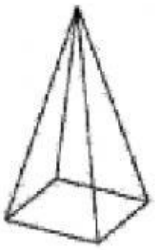

LIVEWORKSHEETS

N. 写出平面的名称。 (4%)

正方形	圆	长方形	三角形

1. 	2.	3. 	4. 

0. 回答问题。(6%)

以下的象形统计图显示 5 名学生在一个星期里喝牛奶的数量。

五名学生喝牛奶的数量

1) 谁喝**最多**牛奶? _____

2) 谁喝的牛奶和丽丽**一样多**? _____

3) 一个星期里，他们**一共**喝了多少杯牛奶? _____

LIVEWORKSHEETS

P. 应用题。（10%）

1.	阿姨卖了 19 个苹果，之后又再卖了 5 个苹果，王阿姨**一共**卖了多少个苹果？ 19 + 5 =	19 + 5 ____
2.	今天是星期日，**明天**是星期几？ 明天是星期 _____ 。	
3.	 写出钟面的时刻。	_____ 时
4.	天兴有一个月饼，吃了四分之三，剩下几分之几？	
5.	丽丽在果园种了 9 棵树，国明也种了 12 棵树。丽丽还要种多少棵树，才能够与国明种的一样多？	

LIVEWORKSHEETS