A. 回答以下的问题。

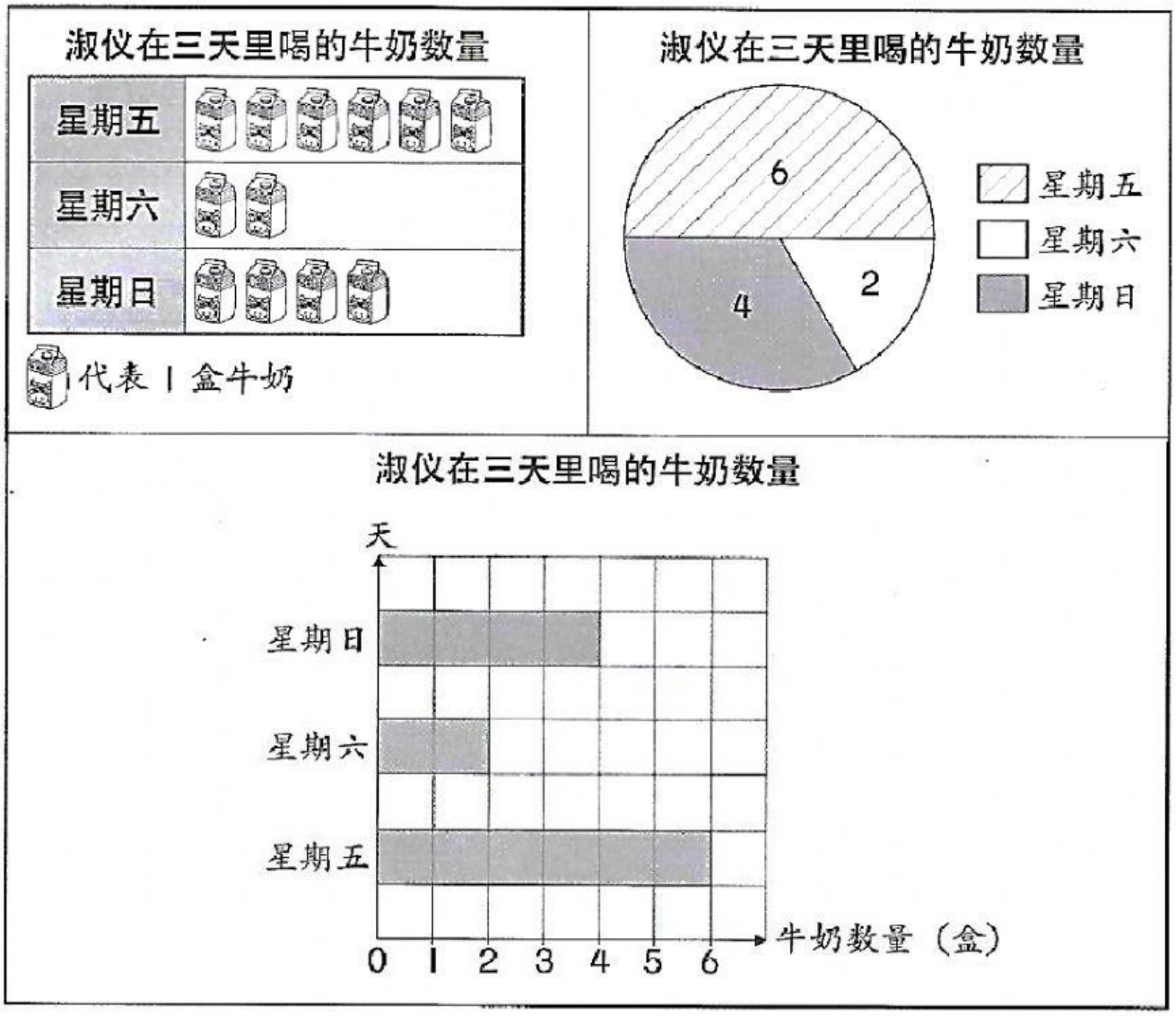

1 以上哪种统计图清楚地显示淑仪在各天所喝的牛奶数量？画"✓"。

☐ 象形统计图　☐ 饼分图　☐ 条形统计图

2 哪个统计图能清楚地显示淑仪每天所喝的牛奶数量与总数的关系？

_____

3 哪个统计图是以图案来表示数据？

_____

LIVEWORKSHEETS

B. 根据以下的资料，回答问题。

家家面包店卖出的面包数量

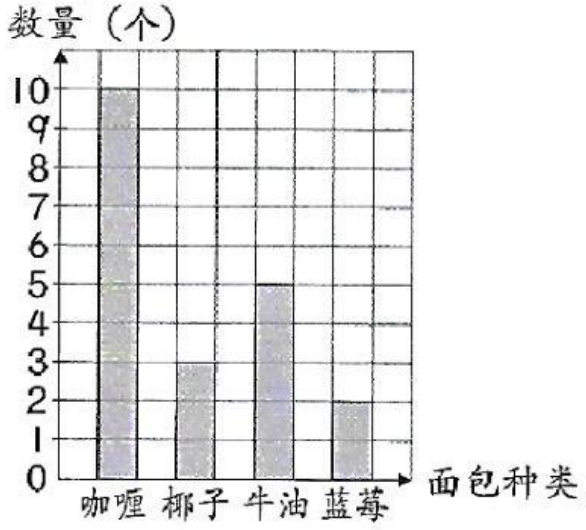

家家面包店卖出的面包数量

咖喱面包	○○○○○○○○○○○○
椰子面包	○○○
牛油面包	○○○○○
蓝莓面包	○○

○代表 1 个面包

家家面包店卖出的面包数量

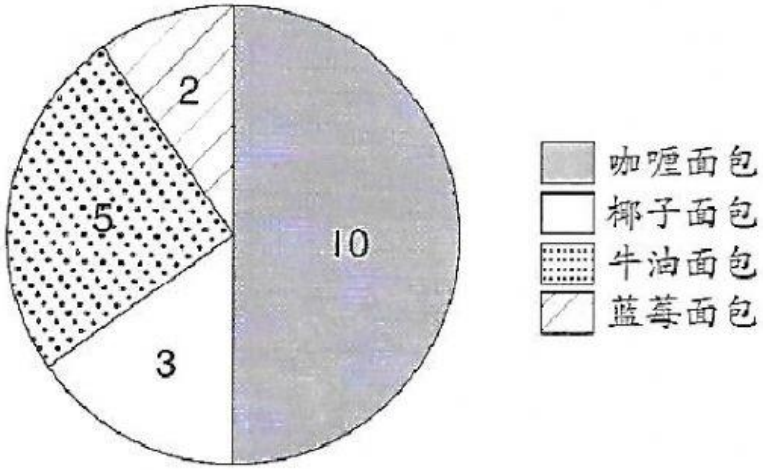

1　以上三个统计图的标题是_____。

2　一个 ○ 代表多少个面包？

_____

3　哪个统计图直接显示每种面包卖出的数量？

_____

LIVEWORKSHEETS

C. 根据以下的饼分图，回答以下的问题。

40 名学生所喜欢吃的水果

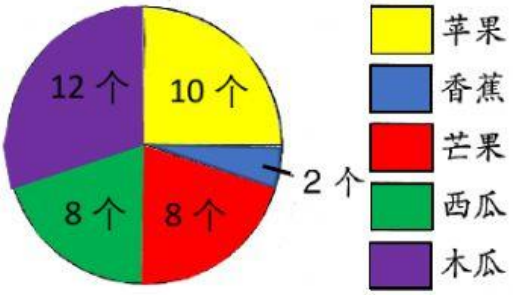

1. 以上饼分图的标题是什么？

_____

2. 写出喜欢吃西瓜的学生人数。

_____

3. 什么水果比喜欢吃苹果的学生人数多？

_____

4. 什么水果最多学生喜欢吃？

_____

5. 什么水果最少学生喜欢吃？

_____

6. 喜欢吃芒果的学生人数比喜欢吃香蕉的学生人数多了多少名？

_____

7. 喜欢吃西瓜的学生人数比喜欢吃苹果的学生人数少了多少名？

_____

8. 计算喜欢吃芒果和木瓜的学生总人数。

_____

9. 计算喜欢吃苹果和香蕉的学生人数的差。

_____

10. 喜欢吃什么水果的学生人数是相同的？

_____

LIVEWORKSHEETS

D. 根据饼分图，回答问题。

100 个学生喜欢的户外活动

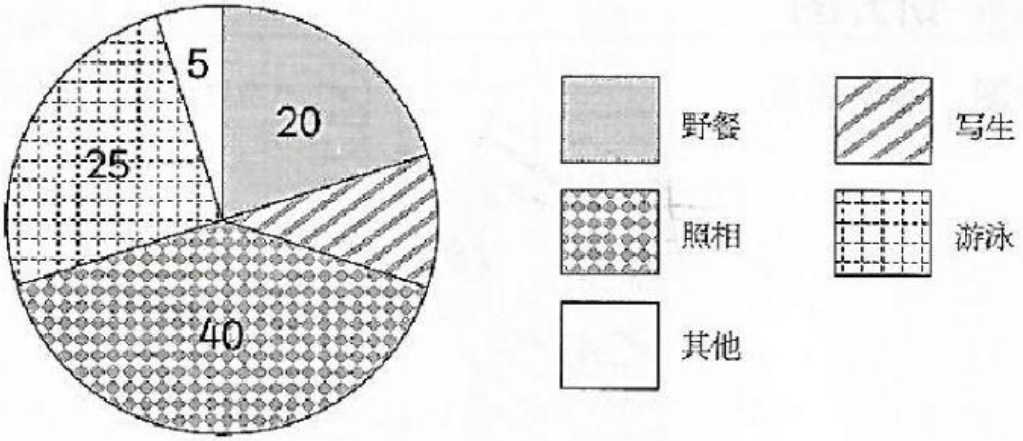

1. 喜欢野餐的学生有多少人？

_____

2. 最多学生喜欢什么活动？

_____

3. 喜欢写生的学生有多少人？

_____

4. 喜欢游泳的学生比喜欢照相的学生少 15 人，正确吗？

_____

LIVEWORKSHEETS