Examen mensual IV de personal social

I. Observa el mapa del Tahuantinsuyo, escribe el nombre de los 4 suyos:

Al Norte → _____.

Al Sur → _____.

Al Este → _____.

Al Oeste → _____.

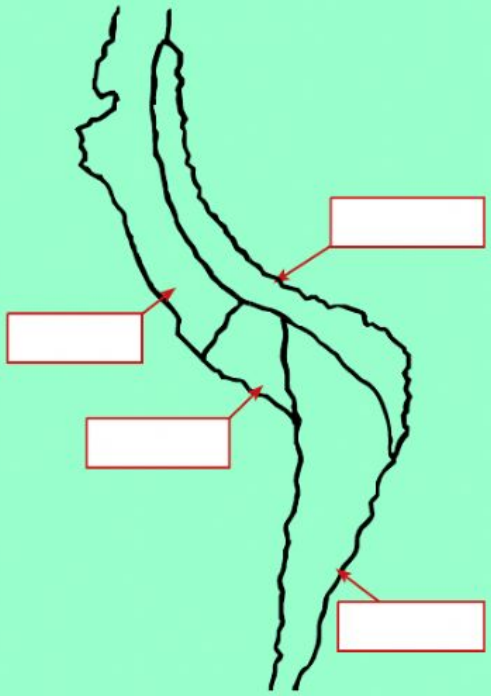

II. Relaciona:

a) El suyo más pequeño	• es era el quechua
b) El suyo más grande	• es Contisuyo
c) El idioma oficial	• Cuzco
d) El imperio se fundó en la ciudad	• Collasuyo

III. Completa los espacios en blanco:

1. El Tahuantinsuyo era derivado de dos palabras que significan: Tahua significa "_____", y suyo "_____".

LIVEWORKSHEETS

2. El Tahuantinsuyo abarcó 6 países que en la actualidad conocemos. Completa el mapa con sus nombres:

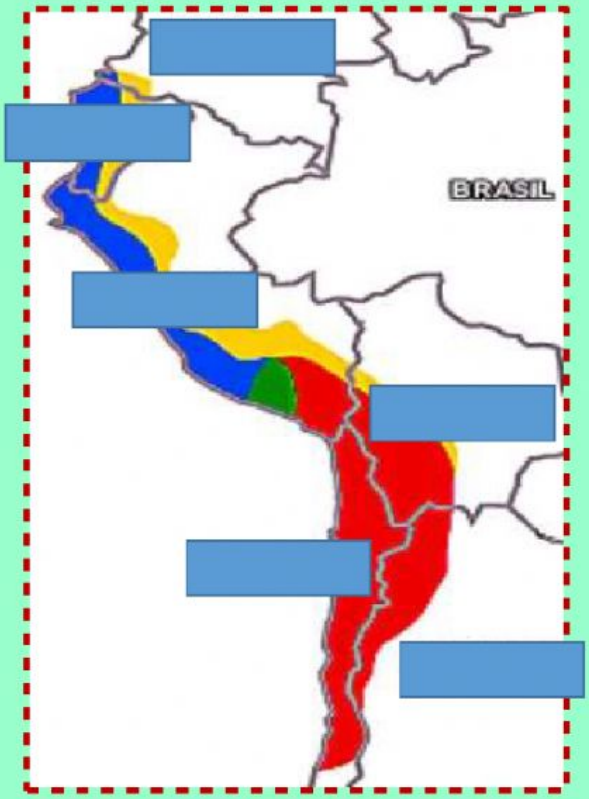

3. Completa el siguiente esquema: La Sociedad Inca, estaba dividida en clases:

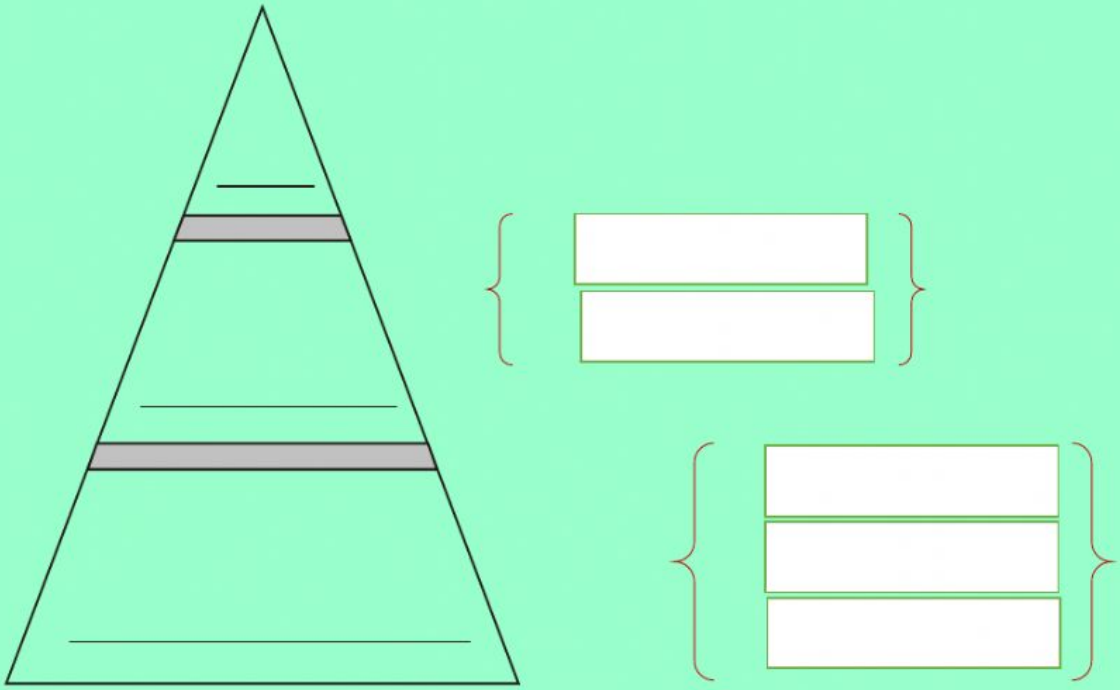

LIVEWORKSHEETS

4. La economía inca estaba basada en la _____ y _____ .

5. Para tener más tierras donde cultivar, construyeron los

_____ .

6. Los animales que domesticaron y criaron los incas fueron las: _____, _____ y _____.

IV. Relaciona el nombre de los incas con su SIGNIFICADO colocando el número que corresponde en el recuadro.

1. Manco Cápac		Salvador del Imperio
2. Viracocha Inca		Resplandor luminoso y memorable
3. Pachacutec		El que transforma la Tierra
4. Inca Túpac Yupanqui		Cadena de oro
5. Huayna Cápac		Jefe Poderoso.
6. Huascar		Guerrero valiente

LIVEWORKSHEETS