Họ và tên_____ Lớp_____

ĐIỂM - ĐOẠN THẲNG - ĐƯỜNG THẲNG - ĐƯỜNG CONG
ĐƯỜNG GẤP KHÚC - HÌNH TỨ GIÁC

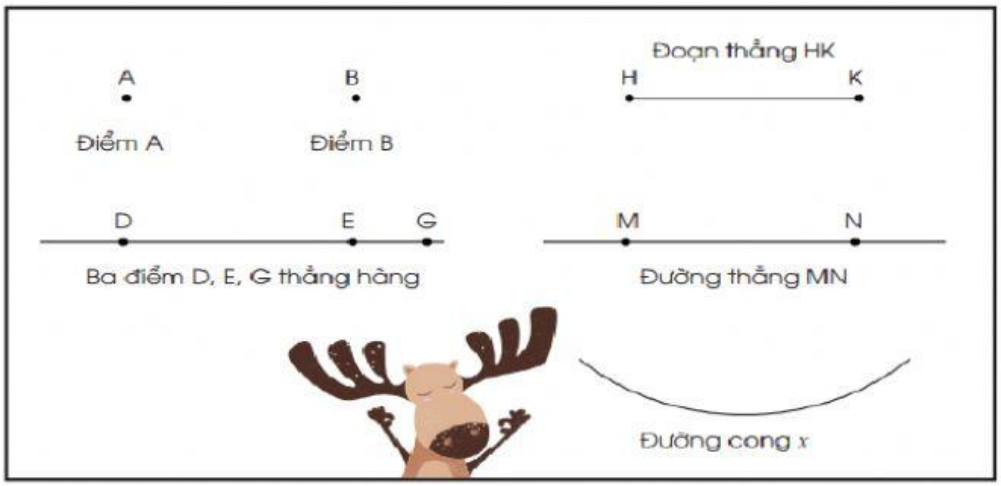

Bài 1. Cho hình vẽ.

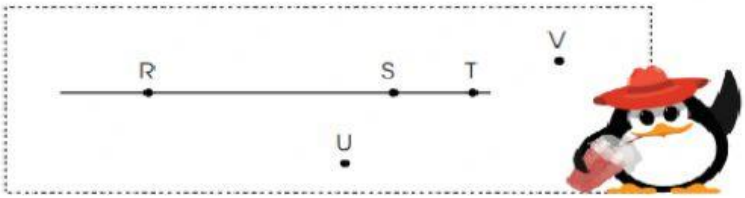

a. Kể tên các điểm trong hình vẽ.

.....

b. Kể tên các điểm nằm trên đường thẳng RS.

.....

c. Kể tên các điểm không nằm trên đường thẳng RS.

.....

Bài 2. Cho hình vẽ.

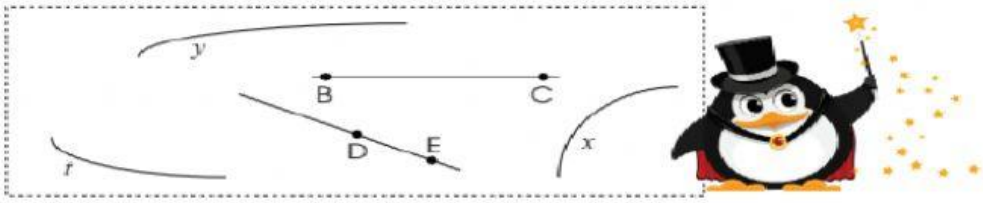

a. Kể tên các đường thẳng trong hình vẽ.

.....

b. Kể tên các đường cong trong hình vẽ.

.....

LIVEWORKSHEETS

Bài 3. Viết số thích hợp vào ô trống.

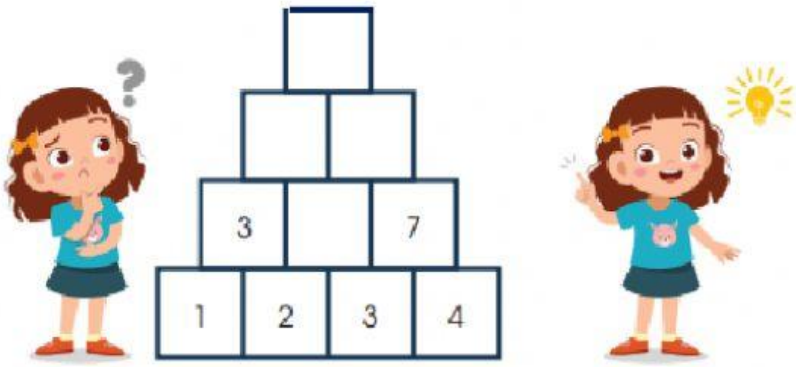

Bài 4

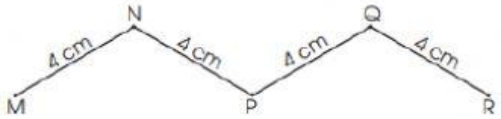

a. Đ, S?

- Đường gấp khúc MNP gồm 2 đoạn thẳng. ☐
- Đường gấp khúc NPQR gồm 2 đoạn thẳng. ☐
- Đường gấp khúc MNPQR gồm 4 đoạn thẳng. ☐
- Đường gấp khúc MNPQ gồm 4 đoạn thẳng. ☐

b. Tính độ dài đường gấp khúc MNP.

.....

(.....)

Đáp số: .....

c. Tính độ dài đường gấp khúc NPQR.

.....

(.....)

Đáp số: .....

Bài 5. Đâu là hình tứ giác?

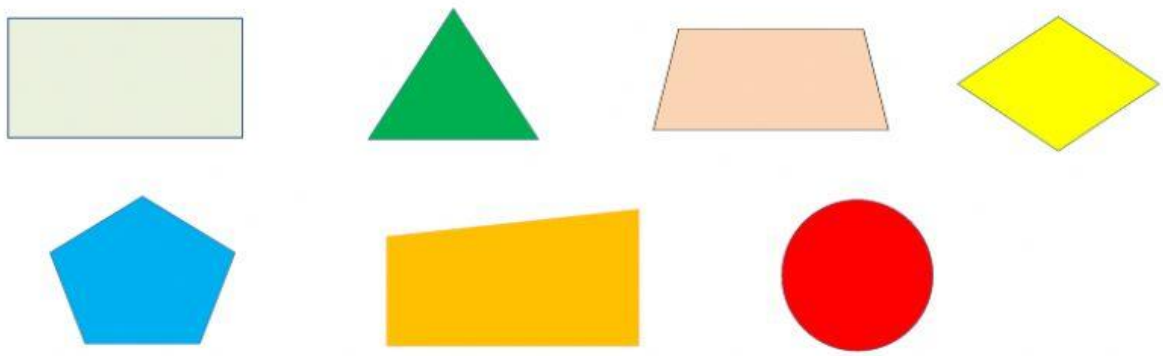

LIVEWORKSHEETS