Phiếu ôn tập cuối tuần 9

HỌC THUỘC:

BẢNG ĐƠN VỊ ĐO ĐỘ DÀI

km	hm	dam	m	dm	cm	mm

Bài 1: Viết số thích hợp vào chỗ chấm:

5m 3dm = …….dm

2m 7dm = …….dm

4m 5dm = ……..dm

6m 3cm = …….cm

3m 7cm = ……..cm

3m 9cm = …….cm

LIVEWORKSHEETS

Bài 2: Góc nào dưới đây là góc vuông?

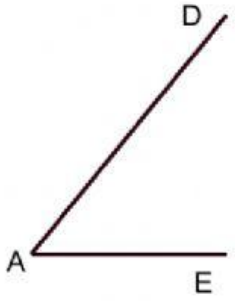

A

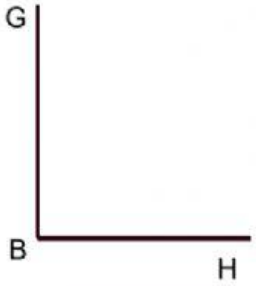

B

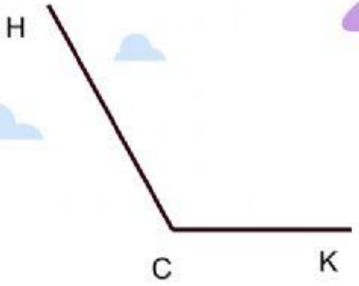

C

Bài 3: Hình bên dưới có mấy góc vuông?



A. 1

B. 2

C. 3

Bài 4: Quan sát góc bên và điền vào chỗ chấm:

Góc vuông đỉnh ….. cạnh ……,……..

LIVEWORKSHEETS