TEMA 11 FIGURES PLANES.

Fitxa
19

Reforç

Nom _____ Data _____

1. Mesura i completa.

3 cm

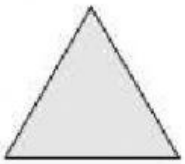

- 3 costats; 3 vèrtexs; 3 angles
- perímetre: 9 cm

---

2 cm

- ___ costats; ___ vèrtexs; ___ angles
- perímetre: _____cm

---

1 cm

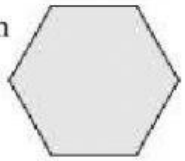

- ___ costats; ___ vèrtexs; ___ angles
- perímetre: _____cm

0'5 cm

2 cm

- ___ costats; ___ vèrtexs; ___ angles
- perímetre: _____cm

1'95 cm

2 cm

2'2 cm

- ___ costats; ___ vèrtexs; ___ angles
- perímetre: _____cm

---

3 cm

2 cm

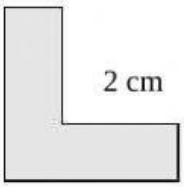

1 cm

- ___ costats; ___ vèrtexs; ___ angles
- perímetre: _____cm

■ Polígons: elements i perímetre.

© 2005 Edicions Vicens Vives, S. L./Santillana Educación, S. L.

LIVEWORKSHEETS

Fitxa
29

Reforç

Nom _____ Data _____

2 **Observa aquests triangles i escriu *equilàter*, *isòsceles* o *escalé* segons corresponga. Després, contesta.**

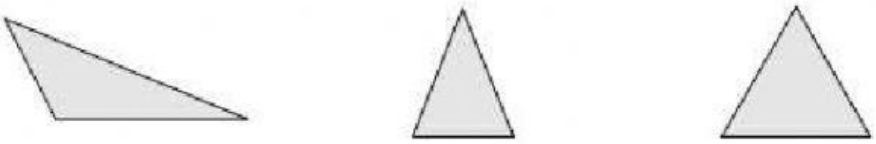

_____ _____ _____

- Com s'anomenen els triangles que tenen els tres costats iguals?

  _____

- Com s'anomenen els triangles que tenen dos costats iguals?

  _____

- Com s'anomenen els triangles que tenen els costats desiguals?

  _____

3 **Observa aquests triangles i escriu *acutangle*, *rectangle* o *obtusangle* segons corresponga. Després, contesta.**

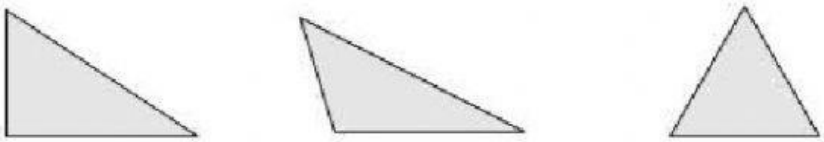

_____ _____ _____

- Com s'anomenen els triangles que tenen els tres angles aguts?

  _____

- Com s'anomenen els triangles que tenen un angle recte?

  _____

- Com s'anomenen els triangles que tenen un angle obtús?

  _____

■ **Classificació de triangles.**

© 2005 Edicions Vicens Vives, S. L./Santillana Educación, S. L.

LIVEWORKSHEETS

Fitxa
28

Reforç

Nom _____ Data _____

4 Escriu paral.lelogram, trapezi o trapezoide segons corresponga

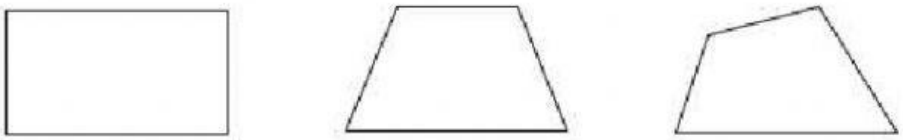

_____ _____ _____

5 **Classifica aquests paral·lelograms.**

- **És un** quadrat.

- **És un** _____

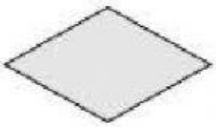

- **És un** _____

- **És un** _____

© 2005 Edicions Vicens Vives, S. L./Santillana Educación, S. L.

LIVEWORKSHEETS

Fitxa
46

Reforç

Nom _____ Data _____

6 **Escriu davall de cada dibuix *cercle* o *circumferència* segons corresponga. Després, contesta.**

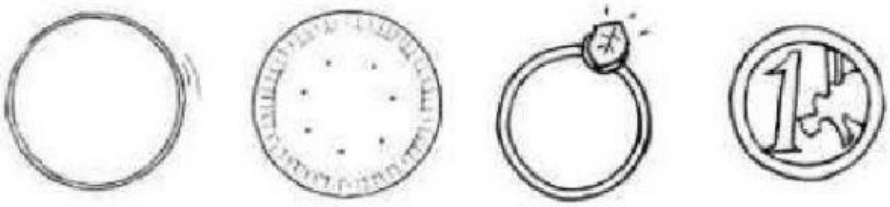

circumferència _____ _____ _____

7 **Escriu *radi* o *diàmetre* segons corresponga.**

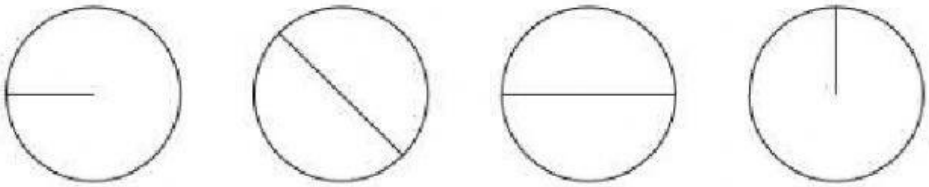

radi _____ _____ _____

8 **Mesura amb un regle i contesta.**

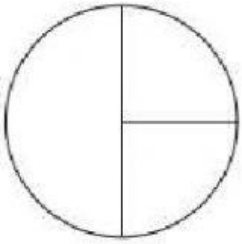

- Quants centímetres fa el radi d'aquesta circumferència? _____ cm
- Quants centímetres fa el diàmetre d'aquesta circumferència? _____ cm

© 2015 Edicions Vicens Vives, S. L./Santillana Educación, S. L.

LIVEWORKSHEETS

Reforç

46 La circumferència. Elements

Nom _____ Data _____

Recorda

- La **circumferència** és una línia corba tancada i plana, els punts de la qual es troben tots a la mateixa distància del centre.
- **Els elements de la circumferència** són: centre, radi, corda, diàmetre, arc i semicircumferència.

9 **Completa amb els noms dels elements marcats en la circumferència.**

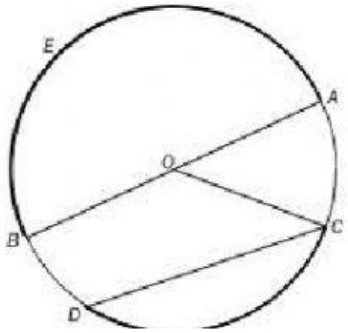

- El punt *O* és el _____
- El segment *AB* és el _____
- El segment *OC* és el _____
- El segment *CD* és una _____
- La línia *E* és una _____

10 **Observa i completa.**

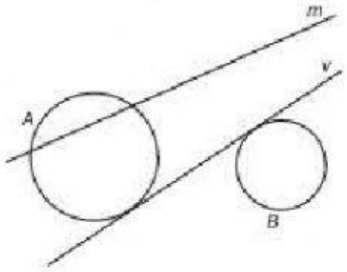

- La recta *m* és _____ a la circumferència *A*.
- La recta *m* és _____ a la circumferència *B*.
- La recta *v* és _____ a la circumferència *B*.
- La recta *v* és _____ a la circumferència *A*.

LIVEWORKSHEETS