Colegio Quitalmahue

Corporación Educacional SANISIDORO

GUÍA OBJETIVOS PRIORIZADOS
NIVEL 2

Nombre: Curso: 2° __

1. ¿En qué alternativa está representado el número 35?

A) 

B) 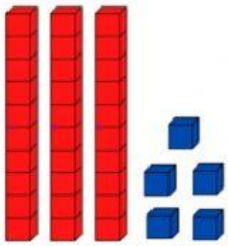

C) 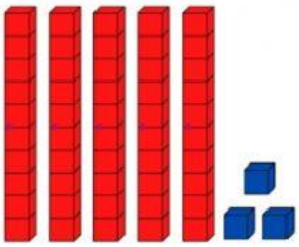

2. ¿En qué alternativa está representado el número 61?

A) 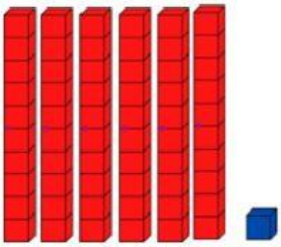

B) 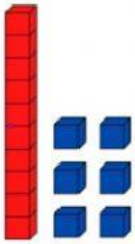

C) 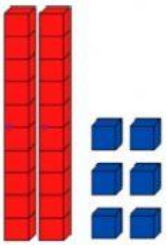

3. ¿Cuál es el número noventa y nueve?

a) 79
b) 99
c) 97

4. ¿Cuál es el número sesenta y siete?

a) 76
b) 67
c) 37

5. ¿Cuál es el número quinientos sesenta?

a) 506
b) 570
c) 560

LIVEWORKSHEETS

6. Observa

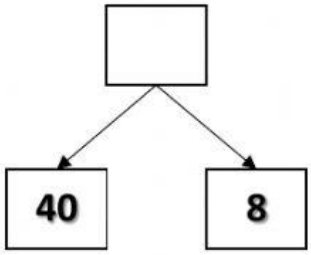

¿Qué número falta en el ☐?

a) 408 b) 48 c) 84

7. Observa

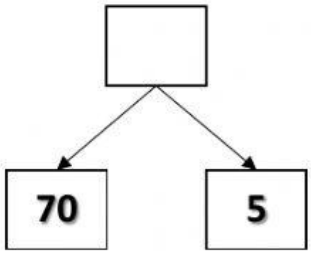

¿Qué número falta en el ☐?

b) 75 b) 705 c) 57

8. ¿Cuál es una descomposición del número 63?

a) 6 + 3 b) 60 + 3 c) 30 + 6

9. ¿Cuál es una descomposición del número 81?

a) 80 + 1 b) 10 + 8 c) 8 + 1

LIVEWORKSHEETS

10. Observa

¿Cuántas decenas de huevos hay?

a) 3 b)4 c) 9

¿Cuántas unidades hay?

a) 3 b)4 c) 9

11. Claudio construyó un calendario semanal para marcar los días queentrena fútbol.

Semana	lunes	martes	miércoles	jueves	viernes	sábado	domingo
1							
2							
3							
4							

Si el patrón continúa, ¿qué días de la semana 4 le correspondeentrenar a Claudio?

a) Martes y viernes.
b) Miércoles y sábado.
c) Lunes y jueves.

12. Observa



Si ★ se mueve 2 casillas hacia tu derecha y una casilla hacia abajo, ¿con quién se encuentra?

a) ★ b) ★ c) ★

LIVEWORKSHEETS

13. Si Marcos mira a su derecha, ¿a quién verá?

a) A Pedro b) A Flo

14. Escribe el Valor Posicional de las siguientes cantidades:

a) 852

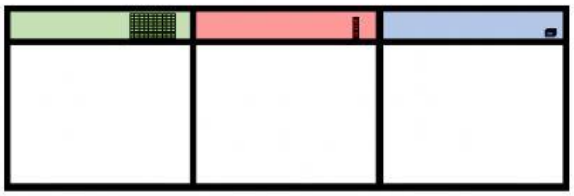

b) 901

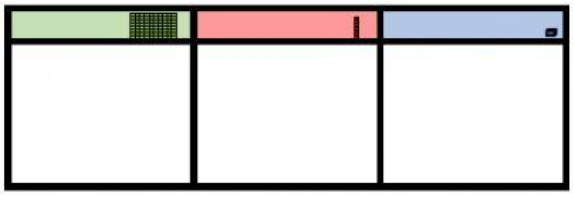

c) 65

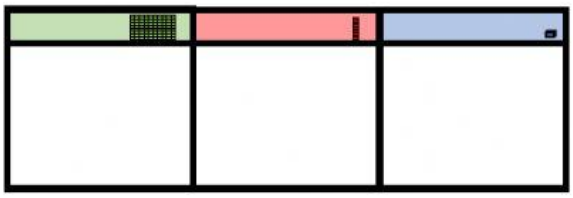

d) 576

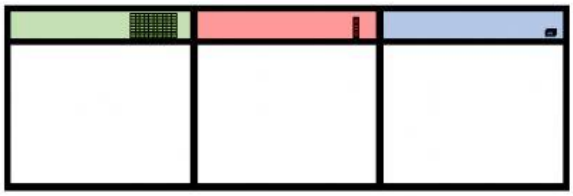

LIVEWORKSHEETS