EXAMEN DE MATEMÁTICAS 4TO. "A" PRIMER TRIMESTRE

1. Escribe en el recuadro de la derecha, el número mixto y fracción impropia que está representada en cada una de las siguientes cuadrículas:

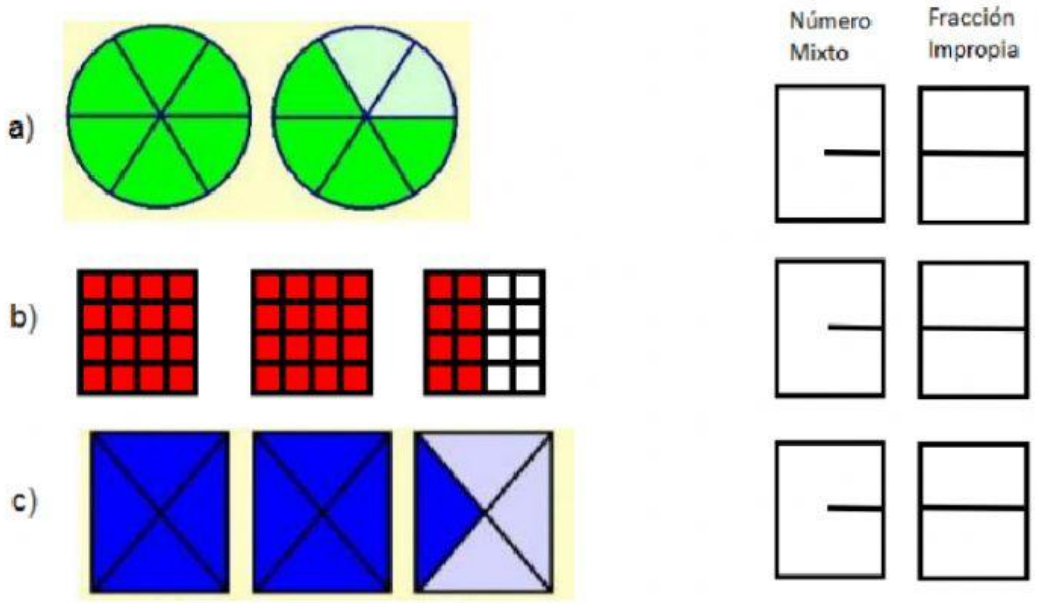

2.Compón o descompón el número según sea el caso. escribiendo los números en los recuadros

	5000 + 300 + 40 + 7
	1000 + 900 + 50 + 2

LIVEWORKSHEETS

EXAMEN DE MATEMÁTICAS 4TO. "A" PRIMER TRIMESTRE

3. Arrastra el cuadro según corresponda

$\frac{7}{10}$ $\frac{1}{100}$ $\frac{148}{1000}$

Decimal	Fracción
0.7	
	$\frac{45}{10}$
0.01	
0.148	
	$\frac{8}{10}$

LIVEWORKSHEETS

EXAMEN DE MATEMÁTICAS 4TO. "A" PRIMER TRIMESTRE

¿Cuál figura completa correctamente la sucesión?

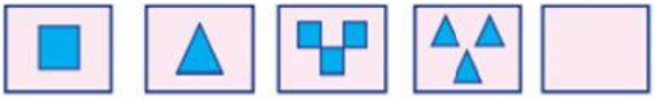

a) b) 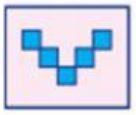 c)

OBSERVA Y RESPONDE

María compro un lápiz, dos mochilas y 3 sacapuntas. ¿Cuánto pago?

$153.6	$153.5	$153.7

LIVEWORKSHEETS

EXAMEN DE MATEMÁTICAS 4TO. "A" PRIMER TRIMESTRE

¿Cómo se lee la siguiente cantidad? 8,645

ocho millones seiscientos cuarenta y cinco	ocho mil seiscientos cuarenta y cinco	ochocientos sesenta y cuatro mil cinco

Si Josué gana $1,000 en el día y Kevin gana $2,300 en ese mismo día, ¿Cuánto ganaron en total?

$3,300	$1,300	$2,400

¿Cómo se forma el número 3482?

(3 x1000) +4000 + 20 + 8	300 +(4 x 100) + 2 +80	3 x 1000 + 400 + (2 x 40) + 2

Completa la siguiente sucesión escribiendo en los recuadros los números que faltan

2, 4, 7 , 8 , 12, 12, 17, 16, 22 , 20, 27, ☐

☐ ☐ ☐ ☐

LIVEWORKSHEETS

EXAMEN DE MATEMÁTICAS 4TO. "A" PRIMER TRIMESTRE

Si todos los miembros de la familia se despiertan a la hora del reloj, ¿Quién tarda más en salir de la casa? Marca la respuesta correcta

- [ ] Paty 9:05
- [ ] Esmeralda nueve y cuarto
- [ ] Perla nueve en punto

LIVEWORKSHEETS