Порівнюємо числа

1. Пригадай склад поданих чисел. Впиши пропущені числа. Усно склади рівності за схемою.

□ + □ = □ + □

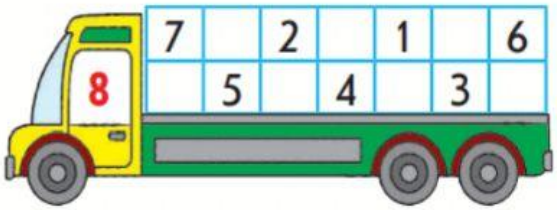

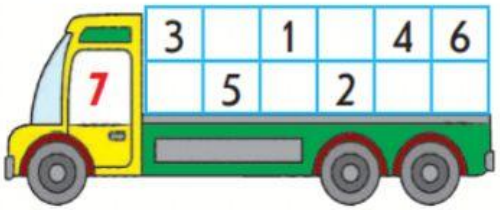

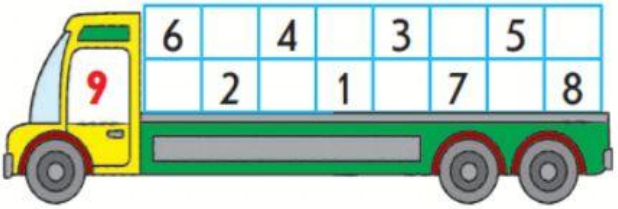

2. Встав пропущені числа.

5 + . = 9	8 + . = 9	5 + . = 8	4 + . = 8
. + 3 = 9	. + 6 = 9	. + 3 = 8	7 + . = 8
1 + . = 9	4 + . = 9	2 + . = 8	. + 6 = 8
. + 2 = 9	1 + . = 8	. + 5 = 7	3 + . = 7
1 + . = 7	. + 2 = 7	4 + . = 6	. + 3 = 6

LIVEWORKSHEETS