MEDIA DAN APLIKASI PEMBELAJARAN BIOLOGI

LIVE WORKSHEET

Dosen Pengampu :Gina Nuranti,S.Pd.,M,Si.

Sumber LKPD: **https://www.liveworksheets.com/kb2192903bs**
Oleh :mianurlaelasari

Dimodifikasi Oleh
KELOMPOK 5:

HANA MAULIDIA (2031011005)
SISI KIRANA MAULIDIA S (2031011008)
AGUS SUHERLAN (2031011011)
VIRA SAFITRI AULIA (2031011013)

LIVEWORKSHEETS

LEMBAR KERJA PESERTA DIDIK (LKPD)

BAB 1 SEL

NAMA:	MATA PELAJARAN:
KELAS:	HARI/TANGGAL:

KD.3.1 Menjelaskan komponen kimiawi penyusun sel,struktur,fungsi,dan proses yang berlangsung dalam sel sebagai unit terkecil kehidupan.

A. SIMAKLAH MATERI DARI MEDIA BERIKUT



1. **Tuliskanlah pada kolom dibawah ini ringkasan dari apa yang anda ketahui setelah menyaksikan materi dari media pembelajaran diatas!**

LIVEWORKSHEETS

B. URUTKAN STRUKTUR ORGANISASI KEHIDUPAN BERIKUT DARI YANG PALING SEDERHANA SAMPAI YANG PALING KOMPLEKS

2..Urutkanlah struktur organisasi kehidupan berikut!

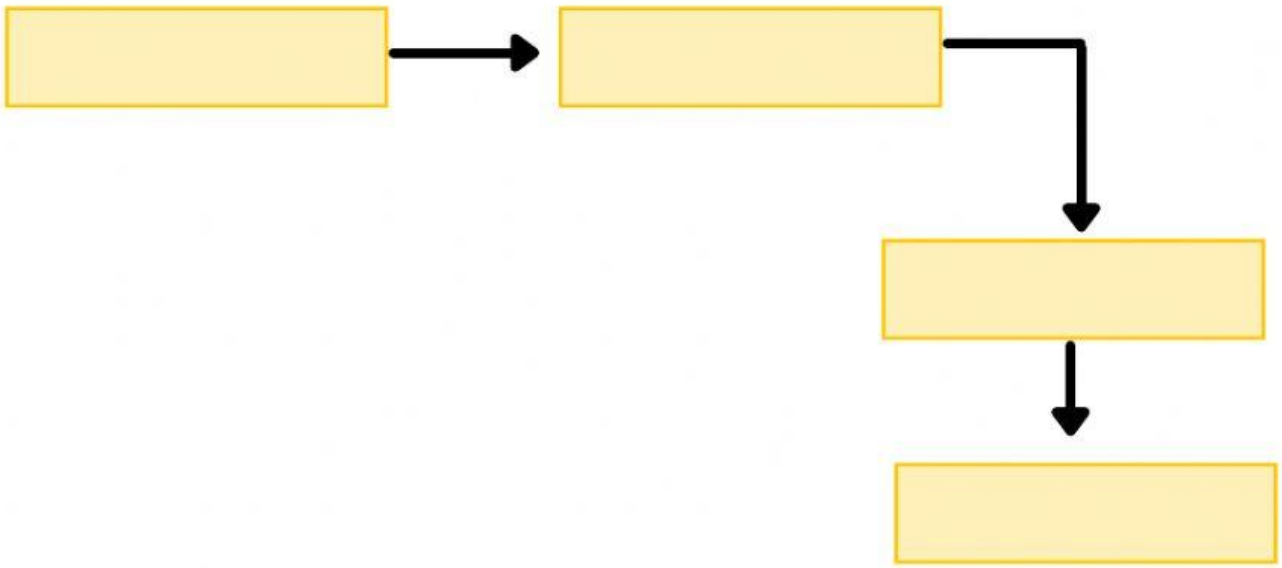

C. TENTUKANLAH PERNYATAAN BENAR/SALAH

3.Tentukanlah pernyataan dibawah ini benar/salah

a. Sel Bakteri merupakan sel prokariotik karena tidak memiliki membran inti sel.	BENAR	SALAH
b. Sel Hewan Memiliki Dinding Sel.	BENAR	SALAH
c. Sel Hewan dan Sel Tumbuhan sama-sama memiliki Membran sel.	BENAR	SALAH

LIVEWORKSHEETS

D. BERIKANLAH KETERANGAN

4.Berilah keterangan nama organel yang sesuai pada gambar dibawah ini

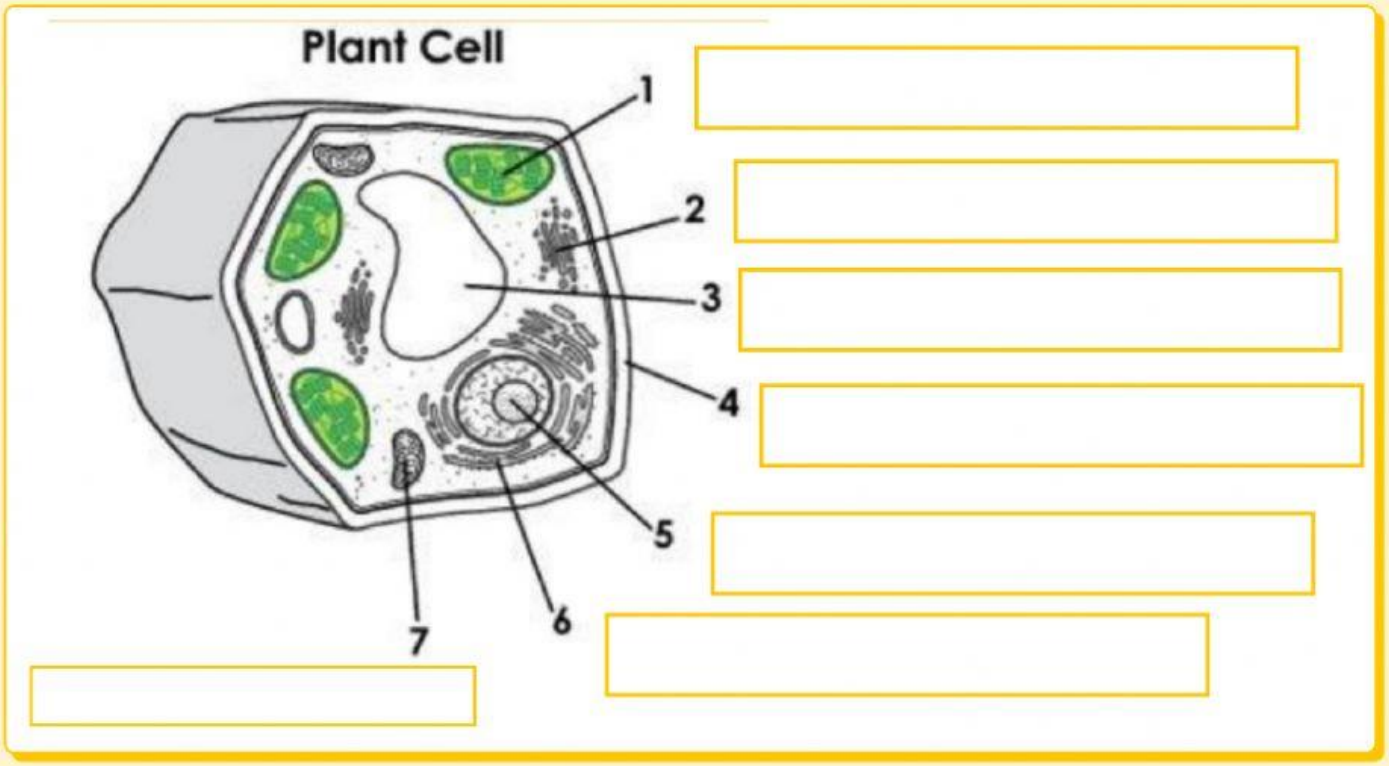

Badan Golgi

Retikulum Endoplasma

Vakuola

Mitokondria

Kloroplas

Dinding Sel

Nukleus

LIVEWORKSHEETS

E. MENJODOHKAN

5. Jodohkan(Tarik garis) nama organel sel dengan fungsinya dengan benar!

Organel Sel	Fungsi
Nukleus/Inti Sel	Tempat Sintesis Protein
Mitokondria	Mengatur semua kegiatan sel
Ribosom	Transportasi Seluler
Kloroplas	Tempat terjadinya fotosintesis
Retikulum Endoplasma	Tempat terjadinya respirasi sel

LIVEWORKSHEETS