CONTROL TEMA 1

Nom:_____Data:_____

1. **Escriu si són éssers vius o éssers inerts:**

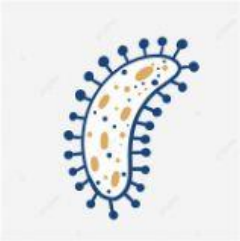

_____ _____ _____ _____ _____

2. Relaciona les diferents parts de la planta amb la funció que duen a terme.

- Arrel
- Tija
- Fulles

- La planta crea el seu aliment açí . Per les fulles absorbeix el diòxid de carboni i la llum del sol.
- Subjecta la planta al sòl, pren l´ aigua i les sals minerals que necessita per a elaborar el seu aliment
- Creix per damunt del sòl i sosté les fulles. Transporta les substànscies que absorbeix les arrels i reparteix per tota la planta l´ aliment que es fabrica a les fulles.

3**. Completa els buits amb les paraules del quadre:**

aigua - vasos liberians - vasos llenyosos - SABA BRUTA - SABA ELABORADA - tija - diòxid de carboni - sals minerals - llum solar

- L´arrel absorbeix _____ i _____. Aquesta mescla s´anomena_____.
- La SABA BRUTA ascendeix fins a les fulles per la_____, per uns conductes anomenats _____.
- A les fulles, la SABA BRUTA es barreja amb el_____ i la _____per a formar la _____.
- La SABA ELABORADA arriba a totes les parts de la planta pels _____.

4. Què els passaria a les plantes si no pogueren fer la fotosíntesi? I als humans?

_____

_____

_____

LIVEWORKSHEETS

5. Anomena les parts de la flor:

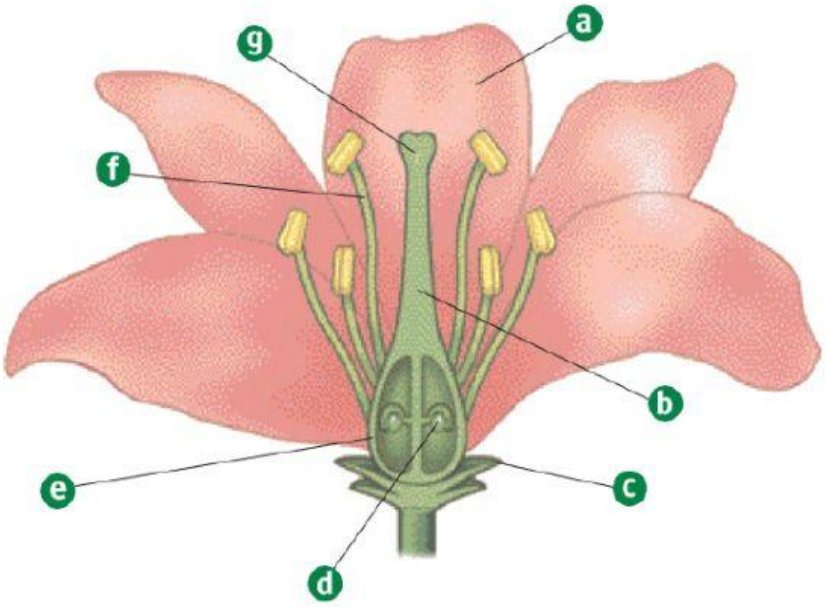

6. Ordena les etapes de com es reprodueixen la majoria de les plantes:

- [ ] L'ovari creix i forma el fruit que conté les llavors.
- [ ] L'abella transporta el pol·len.
- [ ] La llavor germina.
- [ ] El gra de pol·len s'uneix a l'òvul i es transforma en llavor.

7. Com es classifiquen aquestes plantes segons la tija?

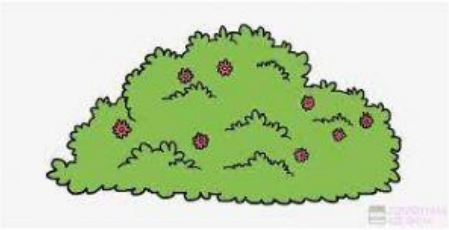

_____ _____ _____

Segons que altra cosa podem classificar les plantes?

_____

_____

LIVEWORKSHEETS